This is a digital copy of a book that was preserved for generations on library shelves before it was carefully scanned by Google as part of a project to make the world's books discoverable online.

It has survived long enough for the copyright to expire and the book to enter the public domain. A public domain book is one that was never subject to copyright or whose legal copyright term has expired. Whether a book is in the public domain may vary country to country. Public domain books are our gateways to the past, representing a wealth of history, culture and knowledge that's often difficult to discover.

Marks, notations and other marginalia present in the original volume will appear in this file - a reminder of this book's long journey from the publisher to a library and finally to you.

Usage guidelines

Google is proud to partner with libraries to digitize public domain materials and make them widely accessible. Public domain books belong to the public and we are merely their custodians. Nevertheless, this work is expensive, so in order to keep providing this resource, we have taken steps to prevent abuse by commercial parties, including placing technical restrictions on automated querying.

We also ask that you:

+ *Make non-commercial use of the files* We designed Google Book Search for use by individuals, and we request that you use these files for personal, non-commercial purposes.

+ *Refrain from automated querying* Do not send automated queries of any sort to Google's system: If you are conducting research on machine translation, optical character recognition or other areas where access to a large amount of text is helpful, please contact us. We encourage the use of public domain materials for these purposes and may be able to help.

+ *Maintain attribution* The Google "watermark" you see on each file is essential for informing people about this project and helping them find additional materials through Google Book Search. Please do not remove it.

+ *Keep it legal* Whatever your use, remember that you are responsible for ensuring that what you are doing is legal. Do not assume that just because we believe a book is in the public domain for users in the United States, that the work is also in the public domain for users in other countries. Whether a book is still in copyright varies from country to country, and we can't offer guidance on whether any specific use of any specific book is allowed. Please do not assume that a book's appearance in Google Book Search means it can be used in any manner anywhere in the world. Copyright infringement liability can be quite severe.

About Google Book Search

Google's mission is to organize the world's information and to make it universally accessible and useful. Google Book Search helps readers discover the world's books while helping authors and publishers reach new audiences. You can search through the full text of this book on the web at `http://books.google.com/`

A propos de ce livre

Ceci est une copie numérique d'un ouvrage conservé depuis des générations dans les rayonnages d'une bibliothèque avant d'être numérisé avec précaution par Google dans le cadre d'un projet visant à permettre aux internautes de découvrir l'ensemble du patrimoine littéraire mondial en ligne.

Ce livre étant relativement ancien, il n'est plus protégé par la loi sur les droits d'auteur et appartient à présent au domaine public. L'expression "appartenir au domaine public" signifie que le livre en question n'a jamais été soumis aux droits d'auteur ou que ses droits légaux sont arrivés à expiration. Les conditions requises pour qu'un livre tombe dans le domaine public peuvent varier d'un pays à l'autre. Les livres libres de droit sont autant de liens avec le passé. Ils sont les témoins de la richesse de notre histoire, de notre patrimoine culturel et de la connaissance humaine et sont trop souvent difficilement accessibles au public.

Les notes de bas de page et autres annotations en marge du texte présentes dans le volume original sont reprises dans ce fichier, comme un souvenir du long chemin parcouru par l'ouvrage depuis la maison d'édition en passant par la bibliothèque pour finalement se retrouver entre vos mains.

Consignes d'utilisation

Google est fier de travailler en partenariat avec des bibliothèques à la numérisation des ouvrages appartenant au domaine public et de les rendre ainsi accessibles à tous. Ces livres sont en effet la propriété de tous et de toutes et nous sommes tout simplement les gardiens de ce patrimoine. Il s'agit toutefois d'un projet coûteux. Par conséquent et en vue de poursuivre la diffusion de ces ressources inépuisables, nous avons pris les dispositions nécessaires afin de prévenir les éventuels abus auxquels pourraient se livrer des sites marchands tiers, notamment en instaurant des contraintes techniques relatives aux requêtes automatisées.

Nous vous demandons également de:

+ *Ne pas utiliser les fichiers à des fins commerciales* Nous avons conçu le programme Google Recherche de Livres à l'usage des particuliers. Nous vous demandons donc d'utiliser uniquement ces fichiers à des fins personnelles. Ils ne sauraient en effet être employés dans un quelconque but commercial.

+ *Ne pas procéder à des requêtes automatisées* N'envoyez aucune requête automatisée quelle qu'elle soit au système Google. Si vous effectuez des recherches concernant les logiciels de traduction, la reconnaissance optique de caractères ou tout autre domaine nécessitant de disposer d'importantes quantités de texte, n'hésitez pas à nous contacter. Nous encourageons pour la réalisation de ce type de travaux l'utilisation des ouvrages et documents appartenant au domaine public et serions heureux de vous être utile.

+ *Ne pas supprimer l'attribution* Le filigrane Google contenu dans chaque fichier est indispensable pour informer les internautes de notre projet et leur permettre d'accéder à davantage de documents par l'intermédiaire du Programme Google Recherche de Livres. Ne le supprimez en aucun cas.

+ *Rester dans la légalité* Quelle que soit l'utilisation que vous comptez faire des fichiers, n'oubliez pas qu'il est de votre responsabilité de veiller à respecter la loi. Si un ouvrage appartient au domaine public américain, n'en déduisez pas pour autant qu'il en va de même dans les autres pays. La durée légale des droits d'auteur d'un livre varie d'un pays à l'autre. Nous ne sommes donc pas en mesure de répertorier les ouvrages dont l'utilisation est autorisée et ceux dont elle ne l'est pas. Ne croyez pas que le simple fait d'afficher un livre sur Google Recherche de Livres signifie que celui-ci peut être utilisé de quelque façon que ce soit dans le monde entier. La condamnation à laquelle vous vous exposeriez en cas de violation des droits d'auteur peut être sévère.

À propos du service Google Recherche de Livres

En favorisant la recherche et l'accès à un nombre croissant de livres disponibles dans de nombreuses langues, dont le français, Google souhaite contribuer à promouvoir la diversité culturelle grâce à Google Recherche de Livres. En effet, le Programme Google Recherche de Livres permet aux internautes de découvrir le patrimoine littéraire mondial, tout en aidant les auteurs et les éditeurs à élargir leur public. Vous pouvez effectuer des recherches en ligne dans le texte intégral de cet ouvrage à l'adresse `http://books.google.com`

1817
ARTES
SCIENTIA
VERITAS
LIBRARY OF THE
UNIVERSITY OF MICHIGAN
TUEBOR
SUSCIPIS PENINSULAM SPECTAS
CIRCUMSPICE

8*
R.79

QA
35
.C586

ELEMENS

DE

GEOMETRIE

Daude de la Barre

ELEMENS DE GEOMETRIE.

Henris Claude

Par M. CLAIRAUT, *de l'Académie Royale des Sciences, & de la Société Royale de Londres.*

A PARIS;

Chez LAMBERT & DURAND, Libraires, ruë Saint-Jacques, au Grifon.

M DCC XLI.

Avec Approbation & Privilége du Roi.

A MONSEIGNEUR
LE COMTE
DE MAUREPAS,
MINISTRE
ET SECRETAIRE D'ETAT,
COMMANDEUR DES ORDRES
DU ROY.

6-23-34 (RV)

MONSEIGNEUR,

C'eſt peut-être oublier la ſupériorité de vos connoiſſances, que de vous

préſenter des Elémens de Géométrie; mais c'eſt connoître vos vuës que de vous offrir quelque choſe d'utile.

Je ne dois donc point appréhender de mettre ſous votre protection un Ouvrage qui contient les principes d'une Science dont vous partagez néceſſairement les ſuccès. Je vous ſupplie très-humblement, MONSEIGNEUR, de l'accepter, comme un hommage de ma reconnoiſſance, & comme une preuve du profond reſpect avec lequel je ſuis,

MONSEIGNEUR,

Votre très-humble & très-obéiſſant
Serviteur CLAIRAUT.

Hist. of Science
Mason
12-21-32
27272

TABLE
DES MATIERES.

PREMIERE PARTIE.

Des moyens qu'il étoit le plus naturel d'employer pour parvenir à la mesure des Terrains.

II. *LA ligne droite est la plus courte d'un point à un autre, & par conséquent, la mesure de la distance entre deux points.* page 2

III. *Une ligne qui tombe sur une autre, sans pancher sur elle d'aucun côté, est perpendiculaire à cette ligne.* 3

IV. *Le rectangle est une figure de quatre*

côtés perpendiculaires les uns aux autres. 4

Et le quarré eſt un rectangle dont les quatre côtés ſont égaux. ibid.

V. *Maniére d'élever une perpendiculaire.* ibid.

VI. *Le cercle eſt la trace entiére que décrit la pointe mobile d'un compas, pendant qu'elle tourne autour de l'autre pointe.* 7

Le centre eſt le lieu de la pointe fixe. ibid.

Le rayon eſt l'intervalle dont le compas eſt ouvert. ibid.

Le diamétre eſt le double du rayon. ibid.

VII. *Maniere d'abaiſſer une perpendiculaire.* ibid.

VIII. *Couper une ligne en deux parties égales.* 8

IX. *Faire un quarré, ayant ſon côté.* 9

X. *Faire un rectangle, dont la longueur & la largeur ſont données.* ibid.

XI. *Les paralléles ſont des lignes toûjours également diſtantes les unes des autres.* 10

Mener une paralléle à une ligne par un point donné. ibid.

XII. *La meſure d'un rectangle eſt le produit de ſa hauteur par ſa baſe.* 13

XIII. *Les figures rectilignes ſont celles que terminent des lignes droites.* 14

Le triangle eſt une figure terminée par trois lignes droites. ibid.

XIV. *La diagonale d'un rectangle eſt la ligne qui le partage en deux triangles égaux.* 15

Les triangles rectangles ſont ceux qui ont deux de leurs côtés perpendiculaires l'un à l'autre. 16

Un triangle eſt la moitié du rectangle qui a même baſe & même hauteur. ibid.

Donc ſa meſure eſt la moitié du produit de ſa hauteur par ſa baſe. ibid.

XV. *Les triangles qui ont même hauteur & même baſe, ont des ſuperficies égales.* 17

XVII. *Les triangles qui ont même baſe, & qui ſont renfermés entre les mêmes paralléles, ſont égaux en ſuperficie.* 19

blance de deux figures. 36

XXXVI. *Maniére de faire une figure ſemblable à une autre.* 37

XXXVIII. *Si deux angles d'un triangle ſont égaux à deux angles d'un autre triangle, le troiſiéme angle de l'un égalera le troiſiéme angle de l'autre.* 40

XXXIX. *Deux triangles, dont les angles ſont reſpectivement égaux, ont leurs côtés proportionnels.* 41

XL. *Diviſer une ligne en tant de parties égales qu'on voudra.* 44

XLI. *Ce que c'eſt qu'une ligne quatriéme proportionnelle à trois autres, & comment on la trouve.* 45

XLII. *Les hauteurs des triangles ſemblables, ſont proportionnelles à leurs côtés.* 46

XLIV. *Les aires des triangles ſemblables, ſont entr'elles comme les quarrés des côtés homologues.* 47

XLV. *Propriétés des figures ſemblables, tirées de celles des triangles.* 49

XLVII. *Les aires des figures ſemblables, ſont entr'elles comme les quarrés des côtés homologues.* 52

XLVIII. *Les figures ſemblables ne ſont différenciées que par les échelles ſur leſquelles elles ſont conſtruites.* Ibid.

L. *Maniére de meſurer la diſtance d'un lieu inacceſſible.* 54

LII. *Un angle a pour meſure l'arc de cercle qu'interceptent ſes côtés.* 56

LIII. *Le cercle eſt partagé en 360 dégrés; chaque dégré en 60 minutes, &c.* 57

LIV. *L'angle droit a 90 dégrés, & ſes côtés ſont perpendiculaires l'un à l'autre.* 58

LV. *Un angle aigu eſt plus petit qu'un angle droit.* ibid.

LVI. *Un angle obtus eſt plus grand qu'un angle droit.* ibid.

LVII. *La ſomme des angles, fait du même côté ſur une ligne droite, & qui ont le même ſommet, vaut 180 dégrés.* ibid.

LVIII. *Tous les angles qu'on peut faire autour d'un même point, ſont égaux,*

pris enſemble, à quatre droits. 59
LIX. *Uſage de l'inſtrument appellé demi-cercle, pour prendre la grandeur d'un angle.* ibid.
LX. *Uſage du rapporteur, pour faire un angle d'un nombre déterminé de dégrés.* 60
LXIII. *Les angles alternes ſont les angles renverſés que forme, de part & d'autre, une ligne droite qui tombe ſur deux paralléles.* 64
Ces angles ſont égaux. ibid.
LXIV. *La ſomme des trois angles d'un triangle, eſt égale à deux droits.* 65
LXVIII. *L'angle extérieur d'un triangle, vaut les deux angles intérieurs oppoſés.* 67
LXIX. *Un angle d'un triangle iſocéle donne les deux autres.* ibid.
LXX. *Les angles d'un triangle équilatéral, ſont chacun de ſoixante dégrés.* 68
LXXI. *Deſcription de l'exagone.* ibid.
LXXII. *La moitié de l'angle au centre de*

l'exagone, donne l'angle au centre du dodécagone. 69
LXXIII. *Partager un angle en deux également.* 70
LXXIV. *Deſcription des poligones de 24, 48, &c. côtés.* ibid.
LXXV. *Deſcription de l'octogone.* 71
Et des poligones de 16, 32, &c. côtés. 72

SECONDE PARTIE.

De la méthode géométrique de comparer les figures rectilignes.

I. *Deux rectangles qui ont même hauteur, ſont en même raiſon que leurs baſes.* 76
V. *Maniére de changer un rectangle en un autre, qui ait une hauteur donnée.* 77
VI. *Seconde maniére de changer un rectangle en un autre, dont la hauteur ſoit donnée.* 78

VII. *On démontre rigoureuſement que ſi deux rectangles ſont égaux, la baſe du premier eſt à la baſe du ſecond, comme la hauteur du ſecond à la hauteur du premier.* 80

VIII. *Si quatre lignes ſont telles, que la premiere ſoit à la ſeconde, comme la troiſiéme à la quatriéme; le rectangle formé par la premiere & par la quatriéme ſera égal à celui que forment la ſeconde & la troiſiéme.* 81

IX. *Quatre quantités, dont la premiere eſt à la ſeconde, comme la troiſiéme à la quatriéme, ſont dites former une proportion.* ibid.

X. *Des quatre termes d'une proportion, le premier & le quatriéme ſont nommés extrêmes; on nomme moyens le ſecond & le troiſiéme.* 82

XI. *Dans une proportion, le produit des extrêmes eſt égal au produit des moyens.* ibid.

XII. *Si le produit des extrêmes eſt égal au produit des moyens, les quatre termes*

forment une proportion. ibid.
XIII. *De-là on tire la régle de trois,* 83
Ou la maniére de trouver le quatriéme terme d'une proportion, dont les trois premiers ſont donnés. 84
XVI. *Faire un quarré double d'un autre.* 86
XVII. *Faire un quarré égal à deux autres pris enſemble.* 87
XVIII. *L'hypothénuſe d'un triangle rectangle eſt ſon grand côté.* 90
Et le quarré de ce côté eſt égal à la ſomme des quarrés faits ſur les deux autres. ibid.
XIX. *D'où ſe tire une maniére ſimple de réduire deux quarrés en un ſeul.* ibid.
XX. *Si les côtés d'un triangle rectangle ſervent de baſes à trois figures ſemblables, la figure faite ſur l'hypothénuſe égalera les deux autres priſes enſemble.* 91
XXI. *Réduire pluſieurs figures ſemblables à une ſeule.* 93
XXIII. *Le produit qui réſulte de la mul-*

tiplication d'un nombre par lui-même ; eſt le quarré de ce nombre. 95

La racine d'un quarré, eſt le nombre qui, multiplié par lui-même, donne le quarré. 96

XXIV. *Un nombre eſt multiple d'un autre, lorſqu'il le contient pluſieurs fois exactement.* ibid.

Le côté d'un quarré & ſa diagonale ſont incommenſurables. 97

XXV. *Autres lignes incommenſurables.* ibid.

XXVII. *Les triangles & les figures ſemblables, ont leurs côtés proportionnels, lors même que ces côtés ſont incommenſurables.* 101

XXVIII. *Et ces figures ſont toûjours entr'elles comme les quarrés de leurs côtés homologues.* 102

TROISIE'ME PARTIE.

De la meſure des figures circulaires, & de leurs propriétés.

I. *LA meſure du cercle eſt le produit de ſa circonférence par la moitié de ſon rayon.* 108

II. *L'aire du cercle eſt égale à un triangle dont la hauteur eſt le rayon, & la baſe une droite égale à la circonférence.* ibid.

IV. *Le diamétre d'un cercle ayant 7 parties, la circonférence en a près de 22.* 109

V. *Les circonférences des cercles, ſont entr'elles comme leurs rayons.* 110

VI. *Les aires des cercles ſont proportionnelles aux quarrés de leurs rayons.* 111

VII. *Des trois cercles qui ont pour rayons les trois côtés d'un triangle rectangle, celui que donne l'hypothénuſe vaut les deux autres pris enſemble.* 112

VIII. *Une couronne eſt l'eſpace enfermé*

entre deux cercles concentriques. 113
Pour mesurer une couronne, il faut multiplier sa largeur par la circonférence moyenne. 115
IX. *Le segment de cercle est un espace terminé par un arc & par sa corde.* 116
La mesure de toutes les figures circulaires se réduit à celle du segment. ibid.
X. *Le secteur est une portion de cercle, terminée par deux rayons, & par l'arc qu'ils comprennent.* ibid.
Sa mesure & celle du segment. ibid.
XI. *Trouver le centre d'un arc de cercle quelconque.* 117
XIII. *Si d'un point quelconque de la circonférence d'un demi cercle, on tire deux droites aux extrémités du diamètre, on aura un angle droit.* 120
XV. *Tous les angles dont le sommet est à la circonférence, & qui s'appuient sur le même arc, sont égaux, & ont, pour commune mesure, la moitié de l'arc sur lequel ils s'appuient.* 123
XVIII. *La tangente au cercle, est la li-*

gne qui ne le touche qu'en un point. 126
L'angle au ſegment eſt celui qui eſt fait par la corde & par la tangente. 127
Sa meſure eſt la moitié de l'arc du ſegment. ibid.
XIX. *La tangente eſt perpendiculaire au diamétre qui paſſe par le point d'attouchement.* 128
XXI. *Ce que c'eſt qu'un ſegment capable d'un angle donné.* 129
Maniére de faire un ſegment capable d'un angle donné. ibid.
XXII. *Trouver la diſtance d'un lieu à trois autres dont les poſitions ſont connues.* 131
XXIII. *Deux cordes ſe coupant dans un cercle, le rectangle des parties de l'une eſt égal au rectangle des parties de l'autre.* 134
XXIV. *Le quarré d'une perpendiculaire quelconque au diamétre d'un cercle, eſt égal au rectangle des deux parties du diamétre.* 135
XXV. *Changer un rectangle en un quarré.* ibid.

XXVI. *Ce que c'eſt qu'une moyenne proportionnelle entre deux lignes droites.* 136
Maniére de la trouver. 137
XXVII. *Autre maniére.* ibid.
XXVIII. *Changer une figure rectiligne en un quarré.* 138
XXX. *Faire un quarré qui ſoit à un autre en raiſon donnée.* 139
XXXI. *Faire un poligone qui ſoit en raiſon donnée avec un poligone ſemblable.* 140
XXXII. *Faire un cercle qui ſoit à un autre cercle en raiſon donnée.* 141
XXXIII. *Si d'un point pris hors d'un cercle on tire deux lignes qui le traverſent, les rectangles de ces deux droites par leurs parties extérieures, ſeront égaux.* ibid.
XXXIV. *Le quarré de la tangente eſt égal au rectangle de la ſecante par ſa partie extérieure.* 143
XXXV. *D'un point donné hors d'un cercle, lui mener une tangente.* ibid.
QUATRIE'ME

QUATRIEME PARTIE.

De la maniére de meſurer les ſolides & leurs ſurfaces.

I. *LE cube eſt une figure ſolide terminée par ſix quarrés. C'eſt la meſure commune des ſolides.* 147

II. *Le parallélipipéde eſt un ſolide terminé par ſix rectangles.* 148

Les plans paralléles ſont ceux qui conſervent toûjours entr'eux la même diſtance. ibid.

III. *Meſure du parallélipipéde.* 149

IV. *Les parallélipipédes ſont produits par un rectangle qui ſe meut parallélement à lui-même.* 151.

V. *La ligne perpendiculaire à un plan, eſt celle qui ne panche d'aucun côté ſur ce plan.* ibid.

Il en eſt de même du plan perpendiculaire à un autre plan. ibid.

VI. *La ligne qui eſt perpendiculaire à un*

plan eſt perpendiculaire à toutes les lignes de ce plan, qui partent du point où elle tombe. 152

VIII. *Pratique ſimple pour élever, ou pour abaiſſer des lignes perpendiculaires à des plans.* 154

IX. *Une ligne ſera perpendiculaire à un plan, ſi elle eſt perpendiculaire à deux lignes de ce plan, qui partent du point où elle tombe.* ibid.

X. *Maniére d'élever un plan perpendiculaire à un autre.* 155

XI. *Mener un plan paralléle à un autre.* ibid.

XII. *Meſurer l'inclinaiſon d'un plan ſur un autre.* 156

XIII. *Meſurer l'inclinaiſon d'une ligne ſur un plan.* 157

XIV. *Nouvelle maniére d'abaiſſer une ligne perpendiculaire à un plan donné.* 158

XV. *Seconde maniére d'élever une ligne perpendiculaire à un plan donné.* ibid.

XVI. *Le priſme droit eſt une figure ſolide,*

dont les deux baſes oppoſées ſont deux poligones égaux, & les autres faces des rectangles. 159
XVII. *Formation des priſmes droits.* ibid.
XIX. *Deux priſmes, qui ont des baſes égales, ſont en même raiſon que leurs hauteurs.* 160
XX. *Deux priſmes qui ont la même hauteur, ſont en même raiſon que leurs baſes.* ibid.
XXI. *La meſure du priſme droit eſt le produit de ſa baſe par ſa hauteur.* 162
XXII. *Les priſmes obliques différent des priſmes droits, en ce que les faces qui ſont des rectangles dans ceux-ci, ſont des parallélogrammes dans ceux-là.* ibid.
XXIII. *Formation des priſmes obliques.* 163
XXIV. *Les priſmes obliques ſont égaux aux priſmes droits, lorſqu'ils ont même baſe & même hauteur.* 164
XXV. *Il en eſt de même des parallélipipé-*

des obliques, à l'égard des parallélipipedes droits. 165

XXXII. *En quoi consiste la similitude de deux pyramides.* 171

XXXVII. *Les pyramides qui ont même base & même hauteur, sont égales.* 175

XXXVIII. *Deux pyramides sont encore égales, si, ayant la même hauteur, leurs bases, sans être des poligones semblables, sont égales en superficie.* ibid.

XXXIX. *Les pyramides qui ont même hauteur, sont entr'elles comme leurs bases.* 176

XLII. *La solidité d'une pyramide quelconque, est le produit de sa base par le tiers de sa hauteur.* 182

XLIII. *La pyramide est le tiers du prisme qui a même base & même hauteur.* 183

XLV. *Le cylindre est un solide terminé par deux bases opposées & parallèles, qui sont des cercles égaux, & par un plan plié autour de leurs circonférences.* 184

On le distingue en cylindre droit, & en cylindre oblique. ibid.
XLVI. *Formation du cylindre.* 185
XLVII. *La surface courbe d'un cylindre droit, est égale à un rectangle qui a la même hauteur, & dont la base est égale à sa circonférence.* 187
XLIX. *Les cylindres, qui ont même base & même hauteur, sont égaux en solidité.* 188
L. *La mesure d'un cylindre quelconque est le produit de sa base par sa hauteur.* ibid.
LI. *Le cone est une espéce de pyramide, dont la base est un cercle.* 189
LII. *On le distingue en cone droit, & en cone oblique.*
LIII. *La surface d'un cone droit se mesure en multipliant la moitié de son côté par la circonférence de sa base.* 190
LIV. *Le développement d'un cone est un secteur de cercle.* ibid.
LVI. *Les cones qui ont même base & même hauteur, sont égaux.* 191
LVII. *Leur mesure est le produit de la*

baſe par le tiers de la hauteur. ibid.
LIX. *Maniére de meſurer la ſurface d'un cone tronqué.* 193
LX. *La ſphére eſt le corps dont la ſurface a tous ſes points également éloignés du centre.* 194
LXV. *La ſurface de la ſphére a pour meſure le produit de ſon diamétre, par la circonférence de ſon grand cercle.* 202
LXVI. *Ce que c'eſt qu'un ſegment de ſphére.* ibid.
Comment on meſure ſa ſurface. ibid.
LXVII. *La ſurface de la ſphére eſt égale à celle du cylindre circonſcrit.* 203
LXVIII. *Les tranches du cylindre & de ſphére ont la même ſuperficie.* ibid.
LXIX. *La ſurface de la ſphére eſt égale à quatre fois celle de ſon grand cercle.* 204
LXX. *La ſolidité de la ſphére eſt le produit du tiers du rayon par quatre fois l'aire du grand cercle.* 205
LXXI. *La ſolidité de la ſphére eſt les deux tiers de celle du cylindre circonſcrit.* ibid.

LXXII. *Mesure de la solidité d'un segment de sphère.* 206
LXXIII. *En quoi consiste la similitude de deux corps terminés par des plans.* 207
LXXIV. *Conditions qui déterminent la similitude de deux cylindres droits.* 208
LXXV. *Celle de deux cylindres obliques.* ibid.
LXXVI. *Celle des cones.* ibid.
LXXVII. *Celle de deux cones tronqués.* 209
LXXVIII. *Les sphéres, les cubes, & toutes les figures qui ne dépendent que d'une seule ligne, sont toutes semblables.* ibid.
LXXIX. *En général, les solides semblables ne different que par les échelles sur lesquelles ils sont construits.* ibid.
LXXX. *Les surfaces des solides semblables sont entr'elles comme les quarrés de leurs côtés homologues.* 210

LXXXI. *Les ſurfaces des ſphéres ſont entr'elles, comme les quarrés de leurs rayons.* 212
LXXXIII. *Les ſolides ſemblables ſont entr'eux comme les cubes de leurs côtés homologues.* 214
LXXXIV. *Les ſphéres ſont entr'elles comme les cubes de leurs rayons.* 215

Fin de la Table.

De l'Imprimerie de GISSEY.

PREFACE.

QUOIQUE la Géométrie ſoit par elle-même abſtraite, il faut avoüer cependant que les difficultés qu'éprouvent ceux qui commencent à s'y appliquer, viennent le plus ſouvent de la maniére dont elle eſt enſeignée dans les Elémens ordinaires. On y débute toûjours par un grand nombre de définitions, de demandes, d'axiomes, & de principes préliminaires, qui ſemblent ne promettre rien que de ſec

au Lecteur. Les propoſitions qui viennent enſuite ne fixant point l'eſprit ſur des objets plus intéreſſans, & étant d'ailleurs difficiles à concevoir, il arrive communément que les Commençans ſe fatiguent & ſe rebutent, avant que d'avoir aucune idée diſtincte de ce qu'on vouloit leur enſeigner.

Il eſt vrai que pour ſauver cette ſéchereſſe, naturellement attachée à l'étude de la Géométrie, quelques Auteurs ont imaginé de mettre à la ſuite de chaque propoſition eſſentielle, l'uſage qu'on en peut faire pour la pratique; mais par-là ils prouvent l'utilité de la Géométrie, ſans faciliter beaucoup les moyens de l'apprendre. Car chaque propoſition venant

toûjours avant ſon uſage, l'eſprit ne revient à des idées ſenſibles, qu'après avoir eſſuyé la fatigue de ſaiſir des idées abſtraites.

Quelques réflexions que j'ai faites ſur l'origine de la Géométrie, m'ont fait eſpérer d'éviter ces inconvéniens, en réuniſſant les deux avantages d'intéreſſer & d'éclairer les Commençans. J'ai penſé que cette Science, comme toutes les autres, devoit s'être formée par dégrés; que c'étoit vraiſemblablement quelque beſoin qui avoit fait faire les premiers pas, & que ces premiers pas ne pouvoient pas être hors de la portée des Commençans, puiſque c'étoient des Commençans qui les avoient faits.

Prévenu de cette idée, je me

ſuis propoſé de remonter à ce qui pouvoit avoir donné naiſſance à la Géométrie ; & j'ai tâché d'en développer les principes, par une méthode aſſez naturelle, pour être ſuppoſée la même que celle des premiers Inventeurs ; obſervant ſeulement d'éviter toutes les fauſſes tentatives qu'ils ont néceſſairement dû faire.

La meſure des Terrains m'a paru ce qu'il y avoit de plus propre à faire naître les premieres propoſitions de Géométrie ; & c'eſt, en effet, l'origine de cette Science, puiſque Géométrie ſignifie *meſure de Terrain.* Quelques Auteurs prétendent que les Egyptiens, voyant continuellement les bornes de leurs Hérita-

ges détruites par les débordemens du Nil, jettérent les premiers fondemens de la Géométrie, en cherchant les moyens de s'assurer exactement de la situation de l'étenduë & de la figure de leurs domaines. Mais quand on ne s'en rapporteroit pas à ces Auteurs, du moins ne sçauroit-on douter que dès les premiers temps, les hommes n'ayent cherché des méthodes pour mesurer & pour partager leurs Terres. Voulant dans la suite perfectionner ces méthodes, les recherches particulieres les conduisirent, peu à peu, à des recherches générales ; & s'étant enfin proposé de connoître le rapport exact de toutes sortes de grandeurs, ils formérent une Science

d'un objet beaucoup plus vaſte, que celui qu'ils avoient d'abord embraſſé, & à laquelle ils conſervérent cependant le nom qu'ils lui avoient donné dans ſon origine.

Afin de ſuivre dans cet Ouvrage une route ſemblable à celle des Inventeurs, je m'attache d'abord à faire découvrir aux Commençans les principes dont peut dépendre la ſimple meſure des Terrains, & des diſtances acceſſibles ou inacceſſibles, &c. De-là je paſſe à d'autres recherches qui ont une telle analogie avec les premieres, que la curioſité naturelle à tous les hommes, les porte à s'y arrêter ; & juſtifiant enſuite cette curioſité par quelques applications utiles, je parviens à faire parcourir tout ce

que la Géométrie élémentaire a de plus intéreſſant.

On ne ſçauroit diſconvenir, ce me ſemble, que cette méthode ne ſoit au moins propre à encourager ceux qui pourroient être rebutés par la ſéchereſſe des vérités géométriques, dénuées d'applications ; mais j'eſpére qu'elle aura encore une utilité plus importante, c'eſt qu'elle accoutumera l'eſprit à chercher & à découvrir ; car j'évite avec ſoin de donner aucune propoſition ſous la forme de théorémes ; c'eſt-à-dire, de ces propoſitions, où l'on démontre que telle ou telle vérité eſt, ſans faire voir comment on eſt parvenu à la découvrir.

Si les premiers Auteurs de

Mathématiques ont préſenté leurs découvertes en théorémes, ç'a été, ſans doute, pour donner un air plus merveilleux à leurs productions, ou pour éviter la peine de reprendre la ſuite des idées qui les avoient conduits dans leurs recherches. Quoi qu'il en ſoit, il m'a paru beaucoup plus à propos d'occuper continuellement mes Lecteurs à réſoudre des problêmes; c'eſt-à-dire, à chercher les moyens de faire quelque opération, ou de découvrir quelque vérité inconnuë, en déterminant le rapport qui eſt entre des grandeurs données, & des grandeurs inconnues qu'on ſe propoſe de trouver. En ſuivant cette voie, les Commençans apperçoivent, à chaque

pas qu'on leur fait faire, la raiſon qui détermine l'Inventeur, & par-là ils peuvent acquerir plus facilement l'eſprit d'invention.

On me reprochera peut-être, en quelques endroits de ces Elémens, de m'en rapporter trop au témoignage des yeux, & de ne m'attacher pas aſſez à l'exactitude rigoureuſe des démonſtrations. Je prie ceux qui pourroient me faire un pareil reproche, d'obſerver que je ne paſſe legérement, que ſur des propoſitions dont la vérité ſe découvre pour peu qu'on y faſſe attention. J'en uſe de la ſorte, ſurtout dans les commencemens, où il ſe rencontre plus ſouvent des propoſitions de ce genre, parce que j'ai remarqué que ceux qui

avoient de la diſpoſition à la Géométrie, ſe plaiſoient à exercer un peu leur eſprit; & qu'au contraire, ils ſe rebutoient, lorſqu'on les accabloit de démonſtrations, pour ainſi dire, inutiles.

Qu'Euclide ſe donne la peine de démontrer, que deux cercles qui ſe coupent n'ont pas le même centre, qu'un triangle renfermé dans un autre, a la ſomme de ſes côtés plus petite que celle des côtés du triangle dans lequel il eſt renfermé; on n'en ſera pas ſurpris. Ce Géométre avoit à convaincre des Sophiſtes obſtinés, qui ſe faiſoient gloire de ſe refuſer aux vérités les plus évidentes : il falloit donc qu'alors la Géométrie eût, comme la Logique, le ſecours des

raiſonnemens en forme, pour fermer la bouche à la chicanne. Mais les choſes ont changé de face. Tout raiſonnement qui tombe ſur ce que le bon ſens ſeul décide d'avance, eſt aujourd'hui en pure perte, & n'eſt propre qu'à obſcurcir la vérité, & à dégoûter les Lecteurs.

Un autre reproche qu'on pourroit me faire, ce ſeroit d'avoir omis différentes propoſitions, qui trouvent leur place dans les Elémens ordinaires, & de me contenter, lorſque je traite des propoſitions, d'en donner ſeulement les principes fondamentaux.

A cela je réponds qu'on trouve dans ce Traité tout ce qui peut ſervir à remplir mon projet, que

les propoſitions que je néglige ſont celles qui ne peuvent être d'aucune utilité par elles-mêmes, & qui d'ailleurs ne ſçauroient contribuer à faciliter l'intelligence de celles dont il importe d'être inſtruit : Qu'à l'égard des proportions, ce que j'en dis doit ſuffire pour faire entendre les propoſitions élémentaires qui les ſuppoſent. C'eſt une matiére que je traiterai plus à fond dans les Elémens d'Algébre, que je donnerai dans la ſuite.

Enfin, comme j'ai choiſi la meſure des Terrains pour intéreſſer les Commençans, ne dois-je pas craindre qu'on ne confonde ces Elémens avec les Traités ordinaires d'Arpentage ? Cette penſée ne peut venir qu'à ceux qui ne conſi-

déreront pas que la meſure des Terrains n'eſt point le véritable objet de ce Livre, mais qu'elle me ſert ſeulement d'occaſion pour faire découvrir les principales vérités géométriques. J'aurois pû de même, remonter à ces vérités, en faiſant l'Hiſtoire de la Phyſique, de l'Aſtronomie, ou de toute autre partie des Mathématiques que j'aurois voulu choiſir ; mais alors la multitude des idées étrangéres, dont il auroit fallu s'occuper, auroit comme étouffé les idées géométriques, auſquelles ſeules je devois fixer l'eſprit du Lecteur.

Extrait des Regiſtres de l'Académie Royale des Sciences, du 31. Août 1740.

MEſſieurs DE REAUMUR, DE MAIRAN, & NICOLE, qui avoient été nommés pour examiner les *Elémens de Géométrie* de M. CLAIRAUT, en ayant fait leur rapport, la Compagnie a jugé que cet Ouvrage méritoit l'impreſſion En foi de quoi j'ai ſigné le préſent Certificat. A Paris, ce 14. Décembre 1740.

Signé FONTENELLE, Sécrétaire perpétuel de l'Académie Royale des Sciences.

PRIVILEGE DU ROI.

LOUIS, par la Grace de Dieu, Roi de France & de Navarre : A nos amez & féaux Conſeillers, les Gens tenans nos Cours de Parlement, Maîtres des Requêtes ordinaires de notre Hôtel, Grand Conſeil, Prévôt de Paris, Baillifs, Senéchaux, leurs Lieutenans Civils, & autres nos Juſticiers qu'il appartiendra, SALUT. Notre ACADEMIE ROYALE DES SCIENCES, Nous a très-humblement fait expoſer, que depuis qu'il Nous a plû lui donner, par un Réglement nouveau, de nouvelles marques de notre affection, elle s'eſt appliquée avec plus de ſoin, à cultiver les Sciences, qui ſont l'objet de ſes exercices ; enſorte qu'outre les Ouvrages qu'elle a déja donnés au Public, elle ſeroit en état d'en produire encore d'autres, s'il Nous plaiſoit lui accorder de nouvelles Lettres de Privilege, attendu que celles que Nous lui avons accordées en date du 6. Avril 1693, n'ayant point eu de terme limité, ont été déclarées nulles par un Arrêt de notre Conſeil d'Etat du 13 Août 1704, celles de 1713 & celles de 1716 étant auſſi expirées : Et déſirant donner à notredite Académie en corps & en particulier, & à chacun de ceux qui la compoſent,

toutes les facilités & les moyens qui peuvent contribuer à rendre leurs travaux utiles au Public, Nous avons permis & permettons par ces preſentes à notredite Académie, de faire vendre ou débiter par tous les lieux de notre obéiſſance, par tel Imprimeur ou Libraire qu'elle voudra choiſir, toutes les *Recherches ou Obſervations journalieres, ou Relations annuelles de tout ce qui aura été fait dans les Aſſemblées de notredite Académie Roïale des Sciences; comme auſſi les Ouvrages, Mémoires, ou Traités de chacun des Particuliers qui la compoſent, & généralement tout ce que ladite Académie voudra faire paroître, après avoir fait examiner leſdits Ouvrages, & jugé qu'ils ſont dignes de l'impreſſion*; & ce, pendant le temps & eſpace de quinze années conſécutives, à compter du jour de la date deſdites Preſentes. Faiſons défenſes à toutes ſortes de perſonnes de quelque qualité & condition qu'elles ſoient, d'en introduire d'impreſſion étrangere dans aucun lieu de notre obéiſſance; comme auſſi à tous Imprimeurs, Libraires, & autres, d'imprimer, faire imprimer, vendre, faire vendre, débiter, ni contrefaire aucun deſdits Ouvrages ci-deſſus ſpécifiés, en tout, ni en partie, ni d'en faire aucuns extraits ſous quelque prétexte que ce ſoit, d'augmentation, correction, changement de titre, feuilles mêmes ſéparées, ou autrement, ſans la permiſſion expreſſe & par écrit de notredite Académie, ou de ceux qui auront droit d'elle, & ſes ayans cauſe, à peine de confiſcation des Exemplaires contrefaits, de dix mille livres d'amende contre chacun des contrevenans, dont un tiers à Nous, un tiers à l'Hôtel-Dieu de Paris, l'autre tiers au Dénonciateur, & de tous dépens, dommages & interêts; à la charge que ces Preſentes ſeront enregiſtrées tout au long ſur le Regiſtre de la Communauté des Imprimeurs & Libraires de Paris, dans trois mois de la date d'icelle; que l'impreſſion deſdits Ouvrages ſera faite dans notre Royaume, & non ailleurs; & que notredite Académie ſe conformera en tout aux Réglemens de la Librairie, & notamment à celui du 10 Avril 1725. & qu'avant que de les expoſer en vente, les Manuſcrits ou Imprimés qui auront ſervi de

copie à l'impreſſion deſdits Ouvrages, ſeront remis dans le même état, avec les Approbations & certificats qui en auront été donnés, ès mains de notre très-cher & féal Chevalier Garde des Sceaux de France, le Sieur Chauvelin; & qu'il en ſera enſuite remis deux Exemplaires de chacun dans notre Bibliotheque publique, un dans celle de notre Château du Louvre, & un dans celle de notre très-cher & féal Chevalier Garde des Sceaux de France, le Sieur Chauvelin: le tout à peine de nullité des Préſentes; du contenu deſquelles vous mandons & enjoignons de faire joüir notredite Académie, ou ceux qui auront droit d'elle & ſes ayans-cauſe, pleinement & paiſiblement, ſans ſouffrir qu'il leur ſoit fait aucun trouble ou empêchement: Voulons que la copie deſdites Préſentes, qui ſera imprimée tout au long au commencement ou à la fin deſdits Ouvrages, ſoit tenue pour dûëment ſignifiée, & qu'aux copies collationnées par l'un de nos amés & féaux Conſeillers & Secretaires, foi ſoit ajoûtée comme à l'Original: Commandons au premier notre Huiſſier ou Sergent, de faire pour l'exécution d'icelles tous actes requis & néceſſaires, ſans demander autre permiſſion, & nonobſtant Clameur de Haro, Chartre Normande, & Lettres à ce contraires: car tel eſt notre plaiſir. DONNE' à Fontainebleau le douziéme jour du mois de Novembre l'an de grace mil ſept cens trente-quatre, & de notre Regne le vingtiéme.

Par le Roi en ſon Conſeil. SAINSON.

Regiſtré ſur le Regiſtre VIII. de la Chambre Royale & Syndicale des Libraires & Imprimeurs de Paris, N°. 792. Fol. 775. conformément au Réglement de 1723. qui fait défenſe, Art. IV. à toutes perſonnes de quelque qualité qu'elles ſoient, autres que les Libraires & Imprimeurs, de vendre, débiter & faire afficher aucuns Livres, pour les vendre en leur nom, ſoit qu'ils s'en diſent les Auteurs, ou autrement, & à la charge de fournir les Exemplaires preſcrits par l'Art. CVIII. du même Réglement. A Paris le 15. Novembre 1734. G. MARTIN, *Syndic.*

ELEMENS

ELEMENS DE GEOMETRIE.

PREMIERE PARTIE.

Des moyens qu'il étoit le plus naturel d'employer pour parvenir à la meſure des Terrains.

CE qu'il ſemble qu'on a dû meſurer d'abord, ce ſont les longueurs & les diſtances.

I.

POUR meſurer une longueur quelconque, l'expédient que fournit une

ſorte de Géometrie naturelle, c'eſt de comparer la longueur d'une meſure connuë à celle de la longueur qu'on veut connoître.

II.

A l'égard de la diſtance, on voit que pour meſurer celle qui eſt entre deux points, il faut tirer une ligne droite de l'un à l'autre, & que c'eſt ſur cette ligne qu'il faut porter la meſure connuë, parce que toutes les autres faiſant néceſſairement un détour plus ou moins grand, ſont plus longues que la ligne droite qui n'en fait aucun.

La ligne droite eſt la plus courte d'un point à un autre, & par conſéquent la meſure de la diſtance entre deux points.

III.

Outre la néceſſité de meſurer la diſtance d'un point à un autre, il arrive ſouvent qu'on eſt encore obligé de meſurer la diſtance d'un point à une ligne. Un homme, par exemple, placé en D ſur le bord d'une riviere, ſe propoſe de ſçavoir combien il y a du lieu

Planche premiere. Fig. 1.

où il eſt à l'autre bord AB. Il eſt clair que, dans ce cas, pour meſurer la diſtance cherchée, il faut prendre la plus courte de toutes les lignes droites DA, DB, &c. qu'on peut tirer du point D à la droite AB. Or cette ligne, la plus courte dont on a beſoin, il eſt aiſé de voir que c'eſt la ligne DC, qu'on ſuppoſe ne pancher ni vers A, ni vers B. C'eſt donc ſur cette ligne, à laquelle on a donné le nom de perpendiculaire, qu'il faut porter la meſure connuë, pour avoir la diſtance DC, du point D, à la droite AB. Mais on voit auſſi que pour poſer cette meſure ſur la ligne DC, il faut que cette ligne ſoit préalablement tirée. Il étoit donc néceſſaire qu'on eût une méthode pour tracer des perpendiculaires.

Une ligne qui tombe ſur une autre, ſans pancher ſur elle d'aucun côté, eſt perpendiculaire à cette ligne.

IV.

On avoit encore beſoin d'en tracer dans une infinité d'autres occaſions. On ſçait, par exemple, que la régu-

FIG. 2. & 3. larité des figures telles que ABCD, FGHI, appellées rectangles, & compoſées de quatre côtés perpendiculaires les uns aux autres, engage à donner leurs formes aux maiſons, à leurs dedans, aux jardins, aux chambres, aux pans de murailles, &c.

Le rectangle eſt une figure de quatre côtés perpendiculaires les uns aux autres.

La premiére ABCD de ces figures, dont les quatre côtés ſont égaux, s'appelle communément quarré. L'autre FGHI, qui n'a que ſes côtés oppoſés égaux, retient le nom de rectangle.

Et le quarré eſt un rectangle dont les quatre côtés ſont égaux.

V.

DANS les différentes opérations qui demandent qu'on méne des perpendiculaires, il s'agit, ou d'en abaiſſer ſur une ligne, d'un point pris au-dehors, ou d'en élever d'un point placé ſur la ligne même.

FIG. 4. Que du point C, pris dans la ligne AB, on veuille élever la ligne CD, perpendiculaire à AB; il faudra que cette ligne ne panche ni vers A, ni vers B.

Maniere d'élever une perpendiculaire.

Suppoſant donc d'abord que C ſoit à égale diſtance de A & de B, & que la droite CD ne panche d'aucun côté, il eſt clair que chacun des points de cette ligne ſera également éloigné de A & de B; il ne s'agira donc plus que de trouver un point quelconque D, tel que ſa diſtance au point A ſoit égale à ſa diſtance au point B: car alors tirant par C, & par ce point une ligne droite CD, cette ligne ſera la perpendiculaire demandée.

Pour avoir le point D, on pourroit le chercher en tâtonnant; mais le tâtonnement ne ſatisfait pas l'eſprit, il veut une méthode qui l'éclaire. La voici.

Prenez une commune meſure, une corde, par exemple, ou un compas d'une ouverture déterminée, ſuivant que vous travaillerez, ou ſur le terrain, ou ſur le papier.

Cette meſure priſe, vous fixerez au point A, ou l'extrémité de la corde,

ou la pointe du compas, &, faisant tourner l'autre pointe, ou l'autre extrémité de la corde, vous tracerez l'arc PDM. Puis, sans changer de mesure, vous opererez de même par rapport au point B, & vous décrirez l'arc QDN, qui, coupant le premier au point D, donnera le point cherché.

Car puisque le point D appartiendra également aux deux arcs PDM, QDN décrits par le moyen d'une mesure commune, sa distance au point A égalera sa distance au point B. Donc CD ne panchera, ni vers A, ni vers B. Donc cette ligne sera perpendiculaire sur AB.

FIG. 5. Si le point C ne se trouve pas à égale distance de A & de B, il faut prendre deux autres points *a* & *b*, également éloignés de C, & s'en servir, à la place de A & de B, pour décrire les arcs PDM, QDN.

VI.

FIG. 4. SI une des traces, telle que PDM,

étoit continuée en O, en E, en R, &c. jusqu'à ce qu'elle revint au même point P, la trace entiére s'appelleroit circonférence de cercle, ou simplement cercle.

Le cercle est la trace entiere que décrit la pointe mobile d'un compas pendant qu'elle tourne autour de l'autre pointe.

Qu'on ne trace qu'une partie PDM de la circonférence, cette partie sera appellée arc de cercle.

Le point fixe A son centre, ou celui du cercle.

Le centre est le lieu de la pointe fixe.

Et l'intervalle AD, son rayon.

Le rayon est l'intervalle dont le compas est ouvert.

Toute ligne, comme DAE, qui passe par le centre A, & qui se termine à la circonférence, est appellée diamétre ; il est évident que cette ligne est double du rayon, ce qui fait que le rayon est quelquefois nommé demi-diamétre.

Le diamétre est le double du rayon.

VII.

La maniére d'élever une perpendiculaire sur une ligne AB, fournit celle d'en abaisser une d'un point quelconque E, pris hors de cette ligne ; car, plaçant en E, ou l'extrémité d'un fil,

FIG. 6.

Maniére d'abaisser une perpendiculaire.

ou la pointe du compas, & d'un même intervalle E *b*, marquant deux points *a* & *b* ſur la ligne AB, on cherchera, comme dans l'article précédent, un autre point D, dont la diſtance, au point *a* & au point *b*, ſoit la même, & par ce point & par E, on menera la droite DE, qui, ayant chacune de ſes extrémités également éloignées de *a* & de *b*, & ne panchant pas plus vers l'un de ces points que vers l'autre, ſera perpendiculaire ſur AB.

VIII.

DE l'opération précédente ſuit la ſolution d'un nouveau Problême.

FIG. 7. Couper une ligne en deux parties égales.

Qu'il s'agiſſe de partager une ligne droite AB en deux parties égales ; des points A & B, pris comme centres, & d'une ouverture de compas quelconque, on décrira les arcs REI, GEF, enſuite des mêmes centres, & de la même, ou de telle autre ouverture qu'on voudra, on décrira auſſi les arcs

PDM, QDN, alors la ligne ED, qui joindra les points d'interſections E & D, coupera AB en deux parties égales au point C.

IX.

La maniere de tracer des perpendiculaires étant trouvée, rien n'étoit plus aiſé que de s'en ſervir pour faire ces figures qu'on appelle rectangles, & quarrés, dont on a parlé dans l'Article IV. On voit que pour faire un quarré ABCD, dont les côtés ſoient égaux à la ligne donnée K, il faut prendre ſur la droite GE, un intervalle AB, égal à K, puis élever (Article V.) aux points A & B, les perpendiculaires AD, BC, chacune égale à K, enſuite tirer DC.

FIG. 2. Faire un quarré ayant ſon côté.

X.

Si on vouloit tracer un rectangle FGHI, dont la longueur fut K, & la largeur L, on feroit FG égale à K, enſuite on éleveroit les perpendiculai-

FIG. 3. Faire un rectangle, dont la longueur & la largeur ſont données.

res FI & GH, chacune égale à L; puis on tireroit HI.

XI.

DANS la conſtruction des ouvrages, comme remparts, canaux, ruës, &c. on a beſoin de mener des lignes paralleles; c'eſt-à-dire, des lignes dont la poſition ſoit telle que leurs intervalles ayent par-tout pour meſure des perpendiculaires de même longueur. Or pour mener ces paralleles, rien, ce ſemble, n'eſt plus naturel que de recourir à la méthode dont on ſe ſert pour tracer des rectangles. Que AB, par exemple, ſoit un des côtés ou de quelque canal, ou de quelque rempart, &c. auquel on voudra donner la largeur CA; ou pour énoncer la queſtion d'une maniére plus géométrique & plus générale, ſuppoſons qu'on veuille mener par C, la parallele CD à AB, on prendra, à volonté, un point B dans la ligne AB, & l'on opérera de la même façon que

Les paralleles ſont des lignes toûjours également diſtantes les unes des autres.

FIG. 8.

Mener une parallele à une ligne par un point donné.

ſi, ayant la baſe AB, on vouloit faire un rectangle ABCD, qui eût AC pour hauteur. Alors les lignes CD, AB, étant prolongées à l'infini, ſeroient toûjours paralleles, ou, ce qui revient au même, elles ne ſe rencontreroient jamais.

XII.

LA régularité des figures rectangulaires les faiſant ſouvent employer, comme nous avons déja dit, il ſe trouve bien des cas où l'on a beſoin de connoître leur étenduë. Il s'agira, par exemple, de déterminer combien il faut de tapiſſerie pour une chambre, ou combien un enclos de maiſon, ayant la forme d'un rectangle, doit contenir d'arpens, &c.

On ſent que pour parvenir à ces ſortes de déterminations, le moyen le plus ſimple & le plus naturel, eſt de ſe ſervir d'une meſure commune, qui, appliquée pluſieurs fois ſur la ſurface à

meſurer, la couvre toute entiere. Méthode qui revient à celle dont on s'eſt déja ſervi pour déterminer la longueur des lignes.

Or il eſt évident que la meſure commune des ſurfaces, doit être elle même une ſurface, par exemple, celle d'une toiſe quarrée, d'un pied quarré, &c. Ainſi, meſurer un rectangle, c'eſt déterminer le nombre de toiſes quarrées, ou de pieds quarrés, &c. que contient ſa ſurface.

Prenons un exemple, pour ſoulager
Fig. 9. l'eſprit. Suppoſons que le rectangle donné ABCD, ait 7 pieds de haut ſur une baſe de 8 pieds, on pourra regarder ce rectangle comme partagé en 7 bandes, *a*, *b*, *c*, *d*, *e*, *f*, *g*, qui contiendront chacune 8 pieds quarrés; la valeur du rectangle ſera donc 7 fois 8 pieds quarrés, ou 56 pieds quarrés.

Maintenant ſi on ſe rappelle les premiers élémens du calcul arithmétique, & qu'on ſe ſouvienne que multiplier

deux nombres, c'eſt prendre l'un autant de fois que l'unité eſt contenuë dans l'autre ; on trouvera une parfaite analogie entre la multiplication ordinaire, & l'opération par laquelle on meſure le rectangle. On verra qu'en multipliant le nombre des toiſes, ou des pieds, &c. que donne ſa hauteur, par le nombre des toiſes ou des pieds, &c. que donne ſa baſe, on déterminera la quantité de toiſes quarrées, ou de pieds quarrés, &c. que contient ſa ſuperficie.

La meſure d'un rectangle eſt le produit de ſa hauteur par ſa baſe.

XIII.

Les figures qu'on a à meſurer, ne ſont pas toûjours régulieres, comme les rectangles ; cependant on a ſouvent beſoin d'avoir leur meſure, tantôt il s'agira de déterminer l'étenduë d'un ouvrage conſtruit ſur un terrain qui manquera de régularité ; tantôt on voudra ſçavoir ce qu'une terre irrégulierement bornée contiendra d'arpens ; il étoit donc néceſſaire qu'à la méthode de

déterminer l'étenduë des rectangles ; on ajoûtât celle de meſuret les figures qui ne ſont pas rectangulaires.

Les figures rectilignes ſont celles que terminent des lignes droites.

On voit d'abord, que pour la pratique, la difficulté ne tombe que ſur la meſure des figures rectilignes, telles que ABCDE, c'eſt-à-dire, des figures terminées par des lignes droites ; car que, dans le contour d'un terrain, il ſe trouve quelques lignes courbes, comme dans la figure ABCDEFG, il eſt évident que ces lignes, partagées en autant de parties qu'il ſera néceſſaire pour éviter toute erreur ſenſible, pourront toûjours être priſes pour un aſſemblage de lignes droites.

FIG. 10.

FIG. 11.

Cela poſé, on voit que, malgré l'infinie variété des figures rectilignes, on peut les meſurer toutes de la même façon, en les partageant en figures de trois côtés nommées communément triangles ; ce qu'on fera de la maniére la plus ſimple & la plus commode, ſi, d'un point quelconque A du contour

Le triangle eſt une figure terminée par trois lignes droites.

de la figure ABCDE, on méne les lignes droites AC, AD, &c. aux points C, D, &c. FIG. 10.

XIV.

IL ne s'agira donc plus que d'avoir la meſure des triangles qu'on aura formés. Or on ſçait que pour trouver ce qu'on ignore, le moyen le plus ſûr eſt de chercher ſi dans ce qu'on connoît, rien ne ſe rapporteroit à ce qu'on veut connoître; mais on a déja vû que tout rectangle ABCD, eſt égal au produit de ſa baſe AB par ſa hauteur CB. D'ailleurs, il eſt aiſé de s'appercevoir que cette figure coupée tranſverſalement par la ligne AC, nommée diagonale, ſe trouve partagée en deux triangles égaux, & de-là on infére que chacun de ces triangles égalera la moitié du produit de leur baſe AB ou DC, par leur hauteur CB ou DA. FIG. 12.

La Diagonale d'un rectangle eſt la ligne qui le partage en deux triangles égaux.

Il eſt vrai qu'il n'arrive guéres que les triangles à meſurer, ayent deux de

Les triangles rectangles sont ceux qui ont deux de leurs côtés perpendiculaires l'un à l'autre.

leurs côtés perpendiculaires l'un à l'autre, comme les triangles ABC, ADC, qu'on appelle triangles rectangles; mais rien n'empêche qu'on ne les réduise tous à des triangles de cette espéce.

PL. II. FIG. 1.

Car que du point A, sommet d'un triangle quelconque ABC, on abaisse la perpendiculaire AD, sur la base BC, le triangle ABC se trouvera partagé en deux triangles rectangles ABD, ADC.

Reprenant donc ce qui vient d'être dit, il est évident que comme les deux triangles ABD, ADC seront les moitiés des rectangles AEBD, ADCF, le triangle proposé ABC, sera, de même, la moitié du rectangle EBCF, qui aura BC pour base, & AD pour hauteur: mais puisque la surface du rectangle EBCF égalera le produit de la hauteur EB ou AD par la base BC, le triangle ABC aura pour mesure la moitié du produit de la base BC par la perpendiculaire AD, hauteur du triangle.

Un triangle est la moitié, du rectangle qui a même base, & même hauteur.

Donc sa mesure est la moitié du produit de sa hauteur par sa base.

On a donc la maniére de mesurer tous

tous les terrains terminés par des lignes droites, puiſqu'il ne s'en trouve aucun qu'on ne puiſſe réduire à des triangles, & que des ſommets de ces triangles, on ſçait abaiſſer des perpendiculaires ſur leurs baſes.

XV.

De ce que dans la méthode que nous venons de donner, pour meſurer l'aire, ou la ſuperficie des triangles, on n'employe que leur baſe & leur hauteur, ſans égard à la longueur de leurs côtés, on tire cette propoſition, ou ce théorême, que tous les triangles, tels que ECB, ACB, qui ont une baſe commune CB, & dont les hauteurs EF, AD, ſont égales, ont la même ſuperficie. FIG. 2.

Les triangles qui ont même hauteur & même baſe, ont des ſuperficies égales.

XVI.

Pour faciliter l'intelligence du principe qui donne la meſure des triangles, nous avons crû ne devoir

choisir pour base qu'un côté sur lequel pourroit tomber la perpendiculaire abaissée du sommet opposé, ce qu'on a toûjours la liberté de faire, quand il ne s'agit que de la mesure des terrains. Mais parce que dans la comparaison des triangles qui ont même base, les perpendiculaires abaissées de leurs sommets peuvent tomber hors du triangle, comme dans la figure 3. il semble qu'il soit nécessaire de voir si les triangles, FIG. 3. tels que BCG sont dans le cas des autres ; c'est-à-dire, s'ils sont toûjours moitiés des rectangles ECBF, qui ont la perpendiculaire GH pour hauteur.

Mais c'est de quoi il est aisé de s'assurer, en remarquant que le triangle CGH, somme des deux triangles CGB, GBH, est la moitié du rectangle ECHG, somme des deux rectangles ECBF, FBHG, & qu'ainsi les deux triangles CGB, GBH, pris ensemble, valent la moitié du rectangle ECHG: or le triangle GBH, est la moitié du

rectangle FBHG ; donc le triangle proposé BCG, est la moitié de de l'autre rectangle ECBF, qui a BC pour base, & GH pour hauteur.

XVII.

LA proposition démontrée dans les trois articles précédens, peut encore s'énoncer généralement en ces termes : les triangles EBC, ABC, GBC, sont égaux, lorsqu'ils ont une base commune BC, & qu'ils sont entre les mêmes paralleles EAG, CBH ; c'est-à-dire, lorsque leurs sommets E, A, G, se trouvent dans une même ligne droite EAG, parallele à la droite CB. Car alors (Article XI.) leurs hauteurs, mésurées par les perpendiculaires EF, AD, GH, sont les mêmes.

FIG. 4.

Les triangles qui ont même base, & qui sont renfermés entre les mêmes paralleles, sont égaux en superficie.

XVIII.

Entre les différentes figures rectilignes qu'on sçait mesurer par la méthode précédente, il y en a qui approchent

de la regularité des rectangles, ce ſont
FIG. 5. des eſpaces tels que ABCD, terminés par quatre côtés, dont chacun eſt parallele au côté qui lui eſt oppoſé. Ces
Les Parallelogrammes ſont des figures de quatre côtés, dont les deux oppoſés ſont paralleles. figures ſont appellées Parallelogrammes ; elles ſont plus aiſées à meſurer que les autres figures rectilignes, les rectangles exceptés. Car qu'on partage le parallelogramme ABCD, en deux triangles ABC, ACD, ces deux triangles ſeront viſiblement égaux : or comme chacun de ces triangles vaudroit la moitié du produit de la hauteur AF,
On les meſure en multipliant leur hauteur par leur baſe. par la baſe BC, le parallelogramme aura pour meſure le produit entier de la baſe BC par la hauteur AF.

XIX.

FIG. 6. ou 7. DE-là il ſuit, que tous les parallelo-
Les Parallelogrammes qui ont une baſe commune, & qui ſont entre les mêmes paralleles, ſont égaux en ſuperficie. grammes ABCD, EBCF, qui auront une baſe commune, & qui ſe trouveront entre les mêmes paralleles, ſeront égaux ; ce qu'il eſt aiſé de voir, même indépendamment de ce qui précéde,

en remarquant que le parallelogramme ABCD deviendra le parallelogramme EBCF ; ſi on lui ajoûte le triangle DCF, & que, de la figure entiere ABCF, on retranche le triangle ABE ; qu'ainſi les deux triangles DCF, ABE, ſuppoſés égaux, il ſera évident que le parallelogramme ABCD n'aura point changé d'étendue en devenant EBCF. Or, pour s'aſſurer de l'égalité de ces deux triangles, il ſuffira d'obſerver que AB & CD étant paralleles, auſſi-bien que BE & CF, le triangle ABE ne ſera autre choſe que le triangle DCF, qui aura gliſſé ſur ſa baſe, de maniere que le point A ſera arrivé en D, & E en F.

XX.

IL y a encore d'autres figures rectilignes qu'il eſt aiſé de meſurer, & qu'on nomme Poligones reguliers, figures que terminent des côtés égaux, qui ont tous la même inclinaiſon les uns

Les Poligones reguliers ſont des figures que terminent des côtés égaux, & également

inclinés les uns sur les autres.

sur les autres. Telles sont les figures ABDEF, ABDEFG, ABDEFGH *.

* Fig. 8, 9, & 10.

Comme on a coutume de donner la forme symétrique de ces figures, aux bassins, aux fontaines, aux places publiques, &c. je crois qu'avant que d'apprendre à les mesurer, il faut voir de quelle maniére on les trace.

XXI.

Maniere de décrire un Poligone d'un nombre déterminé de côtés.

Qu'on décrive une circonférence de cercle, qu'on la partage en autant de parties égales qu'on voudra donner de côtés au poligone ; qu'ensuite on méne les lignes AB, BD, DE, &c. par les points A,B,D,E, &c. qui partageront la circonférence, on aura le poligone cherché, qu'on nommera, ou pentagone, ou exagone, ou eptagone, ou octogone, ou enneagone, ou décagone, &c. suivant qu'il aura, ou cinq, ou six, ou sept, ou huit, ou neuf, ou dix, &c. côtés.

Le Pentagone a 5. côtés, l'Exagone 6, l'Eptagone 7, l'Octogone 8, l'Enneagone 9, le Decagone 10, &c.

XXII.

Mesure de la surface d'un Poligone régulier.

POUR avoir la mesure d'un poligone regulier, on pourroit employer la méthode qu'on a déja donnée (Article XIII.) pour toutes les figures rectilignes; mais on s'apperçoit aisément que le plus court est de partager le polygone en triangles égaux, qui ayent tous le centre C pour sommet. Car prenant un de ces triangles, CBD par exemple, & tirant sur la base BD, la perpendiculaire CK, qui, pour lors sera nommée l'apothéme du polygone, comme l'aire du triangle vaudra le produit de la base BD, par la moitié de CK, ce produit, pris autant de fois que le polygone aura de côtés, donnera l'aire de la figure entiere.

FIG. 20.

L'apothéme est la perpendiculaire abaissée du centre de la figure sur un de ses côtés.

XXIII.

QU'ON ne partageât la circonférence du cercle qu'en trois parties égales, on formeroit un triangle nommé

communément Triangle équilateral ; qu'on partageât cette circonférence en quatre parties égales, on formeroit un quarré ; mais ces deux figures, les plus ſimples de tous les polygones, peuvent aiſément ſe tracer, ſans qu'il ſoit néceſſaire d'avoir recours à la diviſion du cercle ; c'eſt ce qu'on a déja vû (Art. IX.) pour le quarré. A l'égard du triangle équilatéral, il eſt aiſé de s'appercevoir que pour le décrire ſur une baſe donnée AB, il faut que des points A & B, comme centres, & d'une ouverture de compas égale à AB, on trace les arcs DCF & GCH, qu'enſuite des points A & B on méne les lignes AC, BC, au point C, ſection commune des deux arcs DCF, GCH, & ſommet du triangle.

Le triangle équilateral eſt celui dont les trois côtés ſont égaux.

Maniere de le décrire.

FIG. 11.

XXIV.

A la méthode de décrire géométriquement le triangle équilatéral & le quarré, les premiers de tous les polygones, je pourrois joindre celle de tra-

cer géométriquement un pentagone, comme pluſieurs Auteurs l'ont fait dans les Elémens qu'ils nous ont donnés; mais parce que les Commençans, pour qui ſeuls nous travaillons ici, n'appercevroient qu'avec peine la route qu'a dû ſuivre l'eſprit, en cherchant la maniere de tracer cette figure; route que l'Algébre nous met à portée de découvrir, nous nous croyons obligés de renvoyer la deſcription du pentagone au Traité qui ſuivra celui-ci, & dans lequel on joindra cette deſcription à celle de tous les autres polygones qui auront un plus grand nombre de côtés, & qui, ſans le ſecours de l'Algébre, ne pourroient être décrits géométriquement.

Des polygones qui ont plus de cinq côtés, & que je dis ne pouvoir être décrits que par le moyen du calcul algébrique, il en faut excepter ceux de 6, de 12, de 24, de 48, &c. côtés, & ceux de 8, de 16, de 32, de 64, &c. côtés, qu'on peut aiſément décrire par

les méthodes que fournit la Géométrie élémentaire, comme on le verra à la fin de cette premiere Partie.

XXV.

JE reviens à la meſure des Terrains, & je vois que ceux qu'on veut meſurer, ſont ſouvent tels qu'ils ſe refuſent aux opérations que preſcrivent les méthodes précédentes.

FIG. 12. Je ſuppoſe que ABCDE ſoit la figure d'un champ, d'un enclos, &c. dont on voudra avoir la meſure. Suivant ce qu'on a vû, il faudroit partager ABCDE en triangles tels que ABC, ACD, ADE; enſuite meſurer ces triangles, après avoir abaiſſé les perpendiculaires EF, CH, BG: mais que dans l'eſpace ABCDE, il ſe trouve quelque obſtacle, une élevation par exemple, un bois, un étang, &c. qui empêche qu'on ne méne les lignes dont on aura beſoin, que faudra-t-il faire alors? quelle méthode faudra-t-il ſuivre

pour remédier à l'inconvénient du terrain ? Celle qui ſe préſente d'abord à l'eſprit, c'eſt de choiſir quelque terrain plat, ſur lequel on puiſſe aiſément opérer, & de décrire ſur ce terrain des triangles égaux, & ſemblables aux triangles ABC, ACD, &c. Voyons comment on s'y prendra, pour former les nouveaux triangles.

XXVI.

Connoiſſant les trois côtés d'un triangle, faire un autre triangle qui lui ſoit égal.

COMMENÇONS par ſuppoſer que l'obſtacle ſe trouve dans l'intérieur du triangle ABC, dont les côtés ſeront connus, & qu'on veuille tracer un triangle égal & ſemblable ſur le terrain choiſi ; d'abord on décrira une ligne DE égale au côté AB, enſuite prenant une corde de la longueur BC, & fixant une de ſes extrémités en E, on décrira l'arc IFG, qui aura la corde pour rayon ; & par le moyen d'une autre corde, priſe égale à AC, & dont on attachera pareillement un des bouts

PL. III. FIG. 1.

FIG. 1. & 2.

en D, on tracera l'arc KFH, qui coupera le premier au point F ; alors menant les lignes D F & FE, on aura un triangle DEF, égal & ſemblable au triangle propoſé ABC ; ce qui eſt évident : car les côtés DF & EF, qui s'uniront au point F, étant reſpectivement égaux aux côtés AC & BC, unis au point C, & la baſe DE ayant été priſe égale à AB, il ne ſeroit pas poſſible que la poſition des lignes DF & EF ſur DE, fût différente de la poſition des lignes AC & BC ſur AB. Il eſt vrai qu'on pourroit prendre les lignes D*f*, E*f*, au deſſous de DE ; mais le triangle ſe retrouveroit encore le même, il ſeroit ſimplement renverſé.

XXVII.

SI on ne pouvoit meſurer que deux
FIG. 3. des trois côtés du triangle ABC, les deux côtés AB, BC, par exemple ; il eſt clair qu'avec cela ſeul, on ne pour-

roit pas déterminer un ſecond triangle égal & ſemblable à ABC. Car quoiqu'on eût pris DE, égal à BC, & DF, égal à BA, on ne ſçauroit quelle poſition donner à celle-ci, relativement à l'autre. Pour lever cette difficulté, la reſſource qui ſe préſente eſt ſimple : on fait pancher DF, de la même maniere ſur DE, que AB panche ſur BC ; ou, pour s'exprimer comme les Géométres, on donne à l'angle FDE la même ouverture qu'à l'angle ABC. FIG. 3. & 4.

Un angle eſt l'inclinaiſon d'une ligne ſur une autre.

XXVIII.

POUR faire cette opération, on prend un inſtrument tel que *a b c*, compoſé de deux régles qui puiſſent tourner autour de *b*, & l'on poſe ces régles ſur les côtés AB, & BC. Par-là elles font entr'elles le même angle que les côtés AB & BC. Plaçant donc la régle *b c* ſur la baſe DE, de maniere que le centre *b* réponde au point D, & que

Maniere de faire un angle égal à un autre.

FDE égal au triangle ABC, s'il arrive qu'on ne puiſſe meſurer qu'un des côtés, BC par exemple, on a recours aux angles ABC & ACB. Ayant fait DE égal à BC, on place les lignes FD & FE, de maniére qu'elles faſſent, avec DE, les mêmes angles que AB & AC font avec BC : alors, par la rencontre de ces lignes, on a le triangle FDE égal & ſemblable au triangle ABC. Le principe que ſuppoſe cette opération, eſt de lui-même ſi ſimple, qu'il n'a pas beſoin d'être démontré.

Fig. 3. & 4.

Deux angles & un côté déterminent le triangle.

XXXI.

SI des trois côtés du triangle ABC, on ne pouvoit meſurer que la baſe BC, & qu'on ſçût d'ailleurs que ce triangle fût iſocéle ; c'eſt-à-dire, que les deux côtés AB & AC, fuſſent égaux : il eſt évident qu'il ſuffiroit de meſurer un des deux angles ABC, ACB ; car alors l'autre lui ſeroit égal.

Fig. 7.

Le triangle iſocéle eſt celui qui a deux côtés égaux.

On en voit aiſément la raiſon, ſi on

ſe

ſe repréſente ce qui arriveroit, en ſuppoſant que les deux côtés AB, AC, du triangle ABC, fuſſent d'abord couchés ſur BD, & ſur CE, prolongemens de la baſe BC, & qu'enſuite on les relevât pour réunir leurs extrémités au point A; car alors l'égalité de ces deux côtés les empêcheroit de faire plus de chemin l'un que l'autre. Donc étant joints, ils pancheroient également ſur la baſe BC. Donc l'angle ABC ſeroit égal à l'angle ACB.

Les angles que ces côtés font avec la baſe, ſont égaux entr'eux.

XXXII.

POUR revenir à la meſure des Terrains, on verra que quels que ſoient les obſtacles qu'on pourra rencontrer dans leur intérieur, il ſera aiſé, par la méthode précédente, de tranſporter ſur un terrain libre, tous les triangles qui partageront l'eſpace qu'on voudra meſurer.

Suppoſons, par exemple, que vous vouluſſiez meſurer un bois, dont la figure fût ABCDEFG. FIG. 8.

D'abord vous prendriez un triangle égal à ABC, ce que vous pourriez faire sans entrer dans l'interieur de ce triangle, en mesurant les deux côtés AB, BC, & l'angle compris CBA.

Ce triangle décrit donneroit l'angle BCA, & la longueur de AC, & comme vous pourriez mesurer le côté extérieur DC, vous auriez dans le triangle CAD, les côtés DC, & CA. Quant à l'angle DCA, vous le trouveriez en prenant d'abord l'angle IKL, égal à l'angle DCB, ensuite l'angle LKO, égal à l'angle BCA, ce qui vous donneroit l'angle restant IKO, égal à l'angle cherché DCA.

FIG. 8. & 9.

Le triangle ADC, ainsi déterminé par les deux côtés DC & CA, & par l'angle compris DCA, vous connoîtriez de même le triangle DAG, & le reste de la figure.

XXXIII.

LA méthode qu'on vient de donner

pour meſurer les terrains, dans leſquels on ne ſçauroit tirer de lignes, fait ſouvent naître de grandes difficultés dans la pratique. On trouve rarement un eſpace uni & libre, aſſez grand pour faire des triangles égaux à ceux du terrain dont on cherche la meſure. Et même quand on en trouveroit, la grande longueur des côtés des triangles, pourroit rendre les opérations très-difficiles : abaiſſer une perpendiculaire ſur une ligne d'un point qui en eſt éloigné ſeulement de 500 toiſes, ce ſeroit un ouvrage extrêmement pénible, & peut-être impraticable. Il importe donc d'avoir un moyen qui ſupplée à ces grandes opérations.

Ce moyen s'offre comme de lui-même. Il vient bientôt dans l'eſprit de repréſenter la figure à meſurer ABCDE, par une figure ſemblable *abcde*, mais plus petite, dans laquelle, par exemple, le côté *ab* ſoit de 100 pouces, ſi le côté AB eſt de 100 toiſes, le côté

Pl. IV. Fig. 1. & 2.

b c de 45 pouces, ſi BC eſt de 45 toiſes, & de conclure enſuite que ſi l'étendue de la figure réduite *a b c d e*, eſt de 60000 pouces quarrés, celle de la figure ABCDE doit être de 60000 toiſes quarrées.

Mais, avant toutes choſes, il faut ſçavoir en quoi conſiſte la reſſemblance de deux figures.

XXXIV.

En quoi conſiſte la reſſemblance de deux figures.

OR pour peu qu'on y réfléchiſſe, on reconnoîtra bientôt que deux figures ABCDE, *abcde*, pour être ſemblables, doivent être telles que les angles A, B, C, D, E, de la grande, ſoient égaux aux angles *a*, *b*, *c*, *d*, *e*, de la petite, & que, de plus, les côtés *ab*, *bc*, *cd*, &c. de la petite, contiennent autant de parties *p*, que les côtés AB, BC, CD, &c. de la grande, contiennent de parties P.

XXXV.

POUR exprimer cette ſeconde condition, les Géométres diſent, qu'il faut que les côtés AB, BC, CD, &c. ſoient proportionnels aux côtés *ab*, *bc*, *cd*, &c.; ou que le côté AB contienne *ab*, de la même maniere que BC contient *bc*, &c.; ou que le côté AB ſoit auſſi grand, par rapport à *ab*, que BC l'eſt par rapport à *bc*, &c.; ou encore, qu'il y ait même raiſon, ou même rapport entre AB & *ab*, qu'entre BC & *bc*, &c.; ou enfin, que AB ſoit à *ab*, comme BC à *bc*, &c. Toutes façons d'exprimer la même choſe, mais qu'il faut ſe rendre familiéres, pour entendre le langage des Géométres.

XXXVI.

APRE'S avoir vû en quoi conſiſte la reſſemblance de deux figures, cherchons quelle voie la Nature nous indique pour tracer une figure ſemblable à

Maniére de faire une figure ſemblable à une autre.

une autre. Pour cela, repréſentons-nous un Deſſinateur, qui veut copier une figure en la réduiſant.

D'abord prenant *ab*, pour repreſenter la baſe AB de la figure à copier ABCDE, il incline ſur *ab* les côtés *ae* & *bc*, de la même façon que AE & BC ſont inclinés ſur AB, en obſervant que les longueurs de *ae* & de *bc*, ſoient à celle de *ab*, comme les longueurs de AE & de BC ſont à celle de AB; c'eſt-à-dire, que ſi AE, par exemple, eſt la moitié de AB, il fait *ae* égal à la moitié de *ab*, & qu'il en uſe de même pour déterminer la longueur de *bc*, relativement à BC.

Ayant ainſi déterminé les points *e* & *c*, il trace deux lignes *ed* & *cd*, qu'il incline ſur *ea* & ſur *cb*, de la même maniére que ED & CD ſont inclinés ſur EA & ſur CB, & prolongeant ces lignes juſqu'à ce qu'elles ſe rencontrent en *d*, il acheve ſa figure *abcde*.

XXXVII.

QU'ON réfléchiſſe préſentement ſur cette conſtruction, on verra qu'elle n'eſt appuyée que ſur l'égalité qui eſt entre les angles E, A, B, C, & *e*, *a*, *b*, *c*, & ſur la proportionalité des côtés EA, AB, BC, & des côtés *ea*, *ab*, *bc*; qu'ainſi la figure ſe trouve finie, ſans qu'on ait pris l'angle *d*, égal à l'angle D, ni les côtés *ed*, *cd*, proportionnels aux côtés ED, CD; réflexion, qui d'abord pourroit faire craindre que l'angle *d* ne fût effectivement pas égal à l'angle D, ni les côtés *ed*, *cd*, proportionnels aux côtés ED, CD, & que, par conſéquent, la figure *abcde* ne ſe trouvât pas entiérement ſemblable à la figure ABCDE; mais n'eût-on que l'expérience pour ſe raſſurer, ce doute ſe diſſiperoit bientôt; outre que pour peu d'attention qu'on y faſſe, on ſent que de l'égalité reſpective des quatre angles E, A, B, C, & *e*, *a*, *b*, *c*, & de la

proportionalité des trois côtés EA, AB, BC, & *ea*, *ab*, *bc*, réſulte néceſſairement l'égalité des angles D, *d*, & la proportionnalité des côtés ED, CD, & *ed*, *cd*.

Cependant, pour écarter tout ſoupçon, faiſons voir que toutes les conditions que demande la reſſemblance de deux figures, ſont néceſſairement dépendantes les unes des autres ; ce qui nous ſera aiſé de faire, en examinant d'abord les triangles, qui ſont les figures les plus ſimples, & qui entrent néceſſairement dans la compoſition de toutes les autres ; examen qui nous conduira à toutes les propriétés & à tous les uſages des figures ſemblables.

XXXVIII.

FIG. 3. & 4. Si deux angles d'un triangle ſont égaux à deux angles d'un autre triangle, le troiſiéme angle ſera auſſi égal.

SUPPOSONS que ſur la baſe *ab* on trace le triangle *abc*, en ne prenant que les angles *cab*, *cba*, égaux aux angles CAB, CBA, du triangle ABC, on s'aſſurera premierement que le troiſiéme an-

gle *acb* égalera le troiſiéme angle ACB.

Troiſiéme angle de l'un égalera le troiſiéme angle de l'autre.

Car ſoit poſé le triangle *abc* ſur le triangle ABC, de maniére que le point *a* ſe trouve ſur le point A, *ab* ſur AB, *ac* ſur AC; il eſt clair que *cb* ſera parallele à CB, & cela parce que le côté *cb* prolongé, ne pourroit rencontrer le côté CB, que les deux lignes ne penchaſſent inégalement ſur AB, & que, par conſéquent, les angles *cba* & CBA fuſſent inégaux; ce qui ſeroit contre la ſuppoſition.

Comme, de l'égalité des angles *cba* & CBA, il ſuivra que les lignes *cb*, CB, ſeront paralleles, du paralleliſme de ces lignes, il ſuivra auſſi que les angles A*cb*, ACB, ſeront égaux; ce qu'il s'agiſſoit de prouver.

XXXIX.

Deux triangles, dont les angles ſont reſpectivement égaux, ont leurs côtés proportionnels.

MAINTENANT faiſons voir que les côtés qui ſe répondent dans deux triangles *acb* & ACB, qui ont les mêmes angles, ſont proportionnels.

Pour fixer nos idées, ſuppoſons dabord que *ab* ſoit la moitié de AB ; il faudra que nous prouvions que *ac* ſera auſſi la moitié de AC, & *bc* la moitié de BC. Que *acb*, ainſi que dans l'Article précédent, ait encore la poſition A*cb*, ſi on méne *cg*, parallelle à AB, il eſt clair que cette ligne égalera *b*B, ou A*b*, & que *g*B égalera de même *cb*. Or comme les angles *cg*C & C*cg*, ſeront manifeſtement égaux aux angles *cb*A, & *cA b*, le triangle C*cg*, égalera le triangle *cA b*, (Article XXX.) Donc on aura C*c* égal à A*c*, & C*g* égal à *cb*, ou à *g*B. Donc A*c* ou *ac* ſera moitié de
Fig. 3. & 5. de AC, & *cb* moitié de CB.

Si *ab* étoit contenu trois, quatre, ou tel autre nombre de fois qu'on voudroit, dans AB, il ſeroit également aiſé de démontrer que *ac* ſeroit contenu le même nombre de fois dans AC, & *cb* dans CB. Car des points de diviſion *b*, *f*, de la baſe AB, menant *bc*, *fh*, &c. paralleles à BC, on pourroit

placer le long de AC, trois, quatre, &c. triangles A*cb*, *chg*, *h*C*i*, &c. égaux au triangle *acb*.

Mais que *ab*, au lieu d'être contenu exactement un certain nombre de fois dans AB, n'y fût contenu qu'avec quelque fraction, deux fois & demie, par exemple, on prouveroit que *ac* seroit auſſi contenu deux fois & demie dans AC, & *bc* deux fois & demie dans BC. FIG. 3. & 6.

Car, quand par le moyen des paralleles *bc*, *fh*, on auroit placé le long de AC, les deux triangles A*cb*, *chg*, égaux à *acb*, il reſteroit entre les deux paralleles *hf* & CB, de quoi placer un triangle C*hi*, dont les côtés ſeroient moitiés des côtés de *c*A*b*; ce qui eſt évident, puiſque par la ſuppoſition, *f*B ſeroit la moitié de A*b*, & que la baſe *hi* du triangle C*hi* égaleroit *f*B, à cauſe des paralleles *hf*, CB. Donc, en général, lorſque deux triangles ABC, *abc*, ont les mêmes angles, ces triangles, nommés triangles ſemblables, ont leurs

côtés proportionnels, ou, ce qui revient abſolument au même, les côtés AB, BC, AC, de l'un de ces triangles ABC, contiennent le même nombre de parties P, que les côtés *ab*, *bc*, *ac*, de l'autre triangle *abc*, contiennent de parties *p*. P étant le pied, la toiſe, &c. ou, en général, l'échelle avec laquelle ABC, a été conſtruit, & *p* celle dont on s'eſt ſervi en conſtruiſant *abc*.

XL.

De la propoſition que nous venons de démontrer, ſe tire naturellement la ſolution d'un problême ſouvent utile dans la pratique.

Diviſer une ligne en tant de parties égales qu'on voudra.

On demande qu'une ligne ſoit diviſée en un nombre donné de parties égales; ce qui ſe pourroit faire, à la vérité, en tâtonnant; mais jamais avec cette ſûreté que donne l'exactitude géométrique.

Fig. 5. Suppoſons, par exemple, qu'on ait à diviſer AB en trois parties égales, on

commence par tirer une ligne indéfinie AC, qui faſſe un angle quelconque avec AB, enſuite on porte ſur cette ligne trois parties égales A*c*, *ch*, *h*C, d'une ouverture de compas priſe à volonté, puis on tire CB, & l'on méne à cette droite les paralleles *cb*, *hf*; par-là, AB, coupée aux points *b* & *f*, ſe trouve partagée en trois parties égales; ce qui eſt clair par l'Article précédent.

XLI.

Ce que c'eſt qu'une ligne quatriéme proportionnelle à trois autres, & comment on la trouve. FIG. 6.

SI on vouloit diviſer une ligne en un nombre fractionnaire de parties, comme deux & demie, trois & un quart, &c. ou bien, qu'on ſe propoſât en général, de diviſer la ligne AB au point *b*, en ſorte que AB fût à A*b*, comme la ligne NO à la ligne MQ; on voit encore, que la ſolution du problême dépendroit de l'Art. XXXIX; c'eſt-à-dire, qu'il faudroit tirer par A une droite quelconque, prendre ſur cette droite A*c* & AC, égales à MQ,

& à NO, & enſuite mener *cb*, parallele à CB ; alors le point *b* ſeroit le point cherché.

Les Géometres énoncent de cette autre maniere le problême que nous venons de réſoudre. Trouver à trois lignes NO, MQ, AB, une quatriéme proportionnelle.

XLII.

FIG. 7. & 8. Les hauteurs des triangles ſemblables, ſont proportionnelles à leurs côtés.

IL eſt évident que deux triangles ſemblables ABC, *abc*, auront, non-ſeulement leurs côtés proportionnels, mais que les perpendiculaires CF, *cf*, qu'on abaiſſera des ſommets C, *c*, ſur les baſes AB, *ab*, ſuivront encore la proportion des côtés : ce qui eſt ſi aiſé à démontrer par ce qui préoéde, que nous négligerons de nous y arrêter.

XLIII.

QUANT à l'aire des triangles ſemblables ABC, *abc*, on voit que celle du premier contiendra autant

de quarrés X faits sur la mesure P, que l'aire du second, contiendra de quarrés x, faits sur la mesure p. Car comme CF & AB, auront, par l'Article précédent, autant de parties P, que cf & ab, auront de parties p; la moitié du produit de CF par AB, mesure de ABC; (Article XIV.) donnera le même nombre que celui qui résultera de la moitié du produit de cf par ab, mesure de abc; mais avec cette différence, que CF & AB, se comptant en parties P, leur produit se comptera en quarrés X, & que cf & ab, qui se compteront en parties p, donneront un produit qui se comptera en quarrés x.

XLIV.

Ce que nous venons de dire sur la mesure des triangles semblables, sert de preuve à une proposition, qui, dans les Elemens de Géometrie, s'énonce ordinairement ainsi. Les triangles semblables ABC, abc, sont entr'eux

Les aires des triangles semblables,

ſont entr'elles comme les quarrés des côtés homologues.

comme les quarrés ABDE, *abde*, de leurs côtés homologues ou correſpondans AB, *ab*.

La démonſtration que renferme l'Article précédent, méne abſolument à cette conſéquence ; car le quarré ABDE, contenant autant de X que *abde* contient de *x*, il eſt évident que les deux nombres de quarrés X, qui expriment le rapport du triangle ABC au quarré ABDE, ſont les mêmes que les nombres de quarrés *x*, qui donnent le rapport du triangle *abc*, au quarré *abde* ; ou, ce qui revient au même, que le triangle ABC eſt au quarré ABDE, comme le triangle *abc* au quarré *abde*.

De-là il ſuit que ſi, par exemple, le côté AB étoit double du côté *ab*, le triangle ACB ſeroit quadruple du triangle *acb* ; que ſi AB étoit triple de *ab*, le triangle ACB ſeroit neuf fois plus grand que le triangle *acb*, &c ; car AB ne peut être double de *ab*, que le quarré ABDE

ABDE ne ſoit que quadruple du quarré *abde*, &c.

XLV.

POUR paſſer préſentement des triangles aux autres figures, ſuppoſons qu'à chacun des triangles ſemblables ABD, *abd*, on joigne deux autres triangles ADE & BDC, *ade* & *bdc*, les deux premiers ſemblables aux deux autres; on verra que dans les figures totales ABCDE, *abcde*, Fig. 1. & 2. même Planche. Propriétés des figures ſemblables, tirées de celles des triangles.

1°. Les angles A, B, C, D, E, ſeront les mêmes que les angles *a*, *b*, *c*, *d*, *e*; ce qui eſt clair, puiſque les uns & les autres ſeront, ou des angles correſpondans de triangles ſemblables, ou des angles compoſés de ces angles correſpondans.

2°. On verra que le rapport des côtés homologues ou correſpondans DE, *de*, BC, *bc*, &c. des figures ABCDE, *abcde*, ſera néceſſairement le même, c'eſt-à-dire, que ſi P, par exemple, ſe trouve un certain nombre de fois dans

la baſe AB, & que *p* ſe trouve le même nombre de fois dans *ab*, P & *p* ſeront auſſi contenus un même nombre de fois dans deux côtés homologues quelconques DE & *de*; car à cauſe de la reſſemblance des triangles ABD, *abd*, la quantité de P que renfermera AD, égalera la quantité de *p* renfermée dans *ad*; alors regardant ces côtés comme les baſes des triangles ſemblables ADE, *ade*, le nombre de parties P contenues dans DE, ſera le même que le nombre de parties *p* que contiendra le côté *de*.

3°. On verra encore que ſi dans les deux figures on tiroit des lignes qui ſe répondiſſent, telles que CE, *ce*, ou les perpendiculaires DF, *df*, &c; ces lignes ſeroient toûjours entr'elles dans la même raiſon que les côtés homologues des deux figures.

Donc les figures ABCDE, *abcde*, ſeront entiérement ſemblables dans toutes leurs parties.

XLVI.

La figure *abcde* ainſi décrite, parfaitement ſemblable à la figure ABC DE, il eſt évident que ſi on vouloit tracer de nouveau une figure entiérement égale à *abcde*, & par conſéquent, encore ſemblable à ABCDE, il ſeroit inutile de meſurer tous les côtés & tous les angles de *abcde*; qu'il ſuffiroit, par exemple, de prendre les trois côtés *ab*, *ea*, *bc*, & les quatre angles, *e*, *a*, *b*, *c*, & qu'avec cela ſeul on ſeroit ſûr de retracer la même figure *abcde*, ſemblable à ABCDE; ce qui forme une démonſtration complette de ce qu'on n'avoit fait que préſumer (Article XXXVII.). Mais on peut aller plus loin; car il eſt clair qu'on aura toûjours différentes façons de combiner la quantité d'angles & de lignes qu'on doit néceſſairement meſurer dans une figure quelconque, pour en faire une autre qui lui ſoit propor-

tionnelle ; ce ſeroit fatiguer le Lecteur que d'entrer dans un plus grand détail.

XLVII.

Les aires des figures ſemblables, ſont entr'elles comme les quarrés des côtés homologues.

ON démontreroit, par des raiſonnemens ſemblables à ceux de l'Article XLIII. que le nombre de quarrés X, que contient la figure ABCDE, eſt le même que celui des quarrés *x* renfermés dans la figure *abcde* ; & qu'ainſi, les aires des figures ſemblables ſont entr'elles comme les quarrés de leurs côtés homologues.

XLVIII.

Les figures ſemblables ne ſont différentiées que par les échelles ſur leſquelles elles ſont conſtruites.

TOUT ce qui vient d'être dit ſur les figures ſemblables, peut ſe réduire à ce ſeul & unique principe, que les figures ſemblables ne ſont différentiées que par les échelles ſur leſquelles elles ſont conſtruites.

XLIX.

MAINTENANT, pour mieux ſen-

tir l'uſage qu'on doit faire des triangles ſemblables & des réductions, pour avoir la meſure des terrains ſur leſquels on ne pourroit pas commodément opérer, figurons-nous que ABCDEF repréſente le contour d'un Parc, d'un Etang, &c. dont on voudra déterminer l'étendue. D'abord on meſurera un des côtés de la figure, FE par exemple, & l'on verra combien ce côté aura de toiſes, de perches, &c. enſuite prenant telle échelle qu'on voudra, on tracera ſur un carton, ou ſur du papier, une ligne *fe*, égale à autant de parties de l'échelle, que FE contiendra de toiſes, de perches, &c. puis faiſant les angles *def*, *dfe*, égaux aux angles DEF, DFE, on aura le triangle *edf*, dans lequel on abaiſſera *eg*, perpendiculaire ſur *df*: cela fait, & les lignes *df* & *eg*, méſurées par le moyen de l'échelle, on conclura qu'autant que ces lignes contiendront de parties réduites, autant DF & EG contiendront de toiſes, de

Pl. V. Fig. 1. & 2.

perches, &c. Ainſi, en multipliant DF par la moitié de EG, on aura la valeur du triangle EDF, & meſurant de la même maniére chacun des autres triangles DCF, BCF, ABF, l'aire de la figure entiére ſe trouvera déterminée.

L.

Maniére de meſurer la diſtance d'un lieu inacceſſible.

IL arrive ſouvent que dans la pratique, il faut meſurer la diſtance du lieu F, où l'on eſt placé à un autre lieu, où quelque obſtacle empêche qu'on ne ſe tranſporte; nouveau problême, mais dont la ſolution eſt déja donnée d'avance dans l'Article qui précéde celui-ci; car puiſque pour meſurer DF, on n'a eu beſoin que de la ſimilitude des triangles *def* & DEF, il eſt clair que ſi on meſure une baſe quelconque EF, & que des points F & E, on puiſſe appercevoir le point D, le problême ſera réſolu; c'eſt-à-dire, qu'on aura la diſtance FD.

LI.

L'USAGE qu'on peut faire des inſtrumens particuliers, tels que ~~BAC~~, bAc FIG. 3. que j'ai dit (Article XXVIII.) compoſé de deux branches unies au point A, autour duquel elles ont la liberté de tourner, expoſe ſouvent à bien des mécomptes. Tantôt l'ouverture de l'angle s'altérera dans le tranſport ; tantôt la forme qu'on eſt obligé de donner à l'inſtrument pour en faciliter l'uſage, empêchera qu'on ne puiſſe l'appliquer ſur le plan où devra ſe faire la réduction.

Ajoûtons à cela, que chaque nouvel angle BAC, qu'on prend de cette façon, demande qu'on tranſporte de nouveau, l'inſtrument ſur le papier, & que la ſeule reſſource qu'on ait pour comparer deux angles, c'eſt de les poſer l'un ſur l'autre, ſans que, par ce moyen, on puiſſe avoir au juſte ni leur rapport, ni leur grandeur abſolue.

LII.

Il étoit donc néceſſaire de chercher une meſure fixe pour les angles, comme on en avoit déja pour les longueurs. Or cette meſure qu'il falloit avoir, il a été facile de la trouver. Car que Ab reſtant fixe, on lui applique d'abord le côté Ac, qu'enſuite on faſſe tourner ce côté autour de A, il eſt clair que ſi ayant adapté à l'extrémité c de la branche mobile Ac, ou une plume, ou un crayon, qui donne moyen de rendre ſenſible la trace du point c, cette trace, qui formera un arc de cercle, donnera exactement la meſure de l'angle, pour chaque ouverture particuliere des côtés Ab, Ac, c'eſt-à-dire, qu'à cauſe de l'uniformité de la courbure du cercle, il arrivera néceſſairement qu'à une ouverture double, triple, quadruple de cAb, répondra un arc double, triple, quadruple de cb.

FIG. 4.

Un angle a pour meſure l'arc de cercle qu'interceptent ſes côtés.

LIII.

SUPPOSANT donc que la circonférence *bcdfg*, décrite par la révolution entiére du point *c*, ſoit diviſée en un nombre quelconque de parties égales, le nombre des parties contenues dans l'arc qu'intercepteront les lignes A*c* & A*b*, meſurera exactement l'ouverture de ces lignes, ou l'angle *c*A*b* qu'elles formeront.

Les Géométres ſont convenus de diviſer le cercle en 360 parties, qu'on appelle dégrés, chaque dégré en 60 minutes, chaque minute en 60 ſecondes, &c. Ainſi, un angle *b*A*c*, par exemple, aura 70 dégrés 20 minutes, ſi l'arc *bc*, qui lui ſervira de meſure, a 70 des 360 parties du cercle, & de plus 20 ſoixantiémes parties d'un dégré.

Le cercle eſt partagé en 360 dégrés; chaque dégré en 60 minutes, &c.

LIV.

DE-là il ſuit qu'un angle CAB de FIG. 5.

L'angle droit a 90 dégrés, & ſes côtés ſont perpendiculaires l'un à l'autre.

90 dégrés, nommé communément angle droit, eſt celui dont les côtés AC & AB interceptent le quart BC de la circonférence, & ſont perpendiculaires l'un à l'autre.

LV.

Un angle aigu eſt plus petit qu'un angle droit.

On appelle angle aigu tout angle plus petit qu'un angle droit, ou qui a moins de 90 dégrés. Tels ſont les angles CAB, FAG, EAG.

FIG. 6.

LVI.

Un angle obtus eſt plus grand qu'un angle droit.

Au contraire, on appelle angle obtus, celui qui a plus de 90 dégrés, comme FAB.

LVII.

La ſomme des angles, faits du même côté ſur une ligne droite, & qui ont le même ſommet, vaut 180 dégrés.

Il eſt évident que tous les angles, comme GAF, FAE, EAC, CAB, qu'on peut faire du même côté ſur une ligne droite GB, & qui ont le même ſommet A, ſont égaux, pris enſemble à 180 dégrés, ou à deux angles droits, meſurés par la demi-circonférence.

LVIII.

DE même la ſomme de tous les angles EAF, FAB, BAC, CAD, DAE, qu'on peut faire autour du point A, qui leur ſert de ſommet commun, eſt égale à 360 dégrés, ou à quatre angles droits méſurés par la circonférence entiére BCDEF. FIG. 7.

Tous les angles qu'on peut faire autour d'un même point, ſont égaux, pris enſemble, à quatre droits.

LIX.

APRE'S avoir trouvé que les angles ont les parties du cercle pour meſure, voyons comment on s'y prend pour déterminer ce qu'un angle qu'on veut meſurer contient de dégrés.

On ſe ſert d'un inſtrument I, qu'on appelle demi-cercle: cet inſtrument eſt compoſé de deux régles EAC, DAB, d'égale longueur qui ſe croiſent en A, & qui ſont chargées de pinnules à leurs extrémités; l'une de ces régles EC, qu'on nomme alidade, eſt mobile autour de A, & l'autre DB eſt fixe, & FIG. 8.

Uſage de l'inſtrument appellé demi cercle, pour prendre la grandeur d'un angle.

ſert de diamétre à un demi cercle DCB diviſé en 180 dégrés, &c.

Or veut-on connoître l'angle que forment deux lignes droites, tirées du lieu où l'on eſt, à deux objets quelconques F, G; on place d'abord la régle fixe DAB, de maniere que l'œil placé en D, apperçoive un des deux objets F, par les deux pinnules D & B: enſuite, ſans remuer l'inſtrument, on tourne l'alidade, juſqu'à ce que l'œil placé en E, apperçoive l'autre objet G, par les pinnules E & C; & alors l'alidade marque ſur le demi-cercle gradué, le nombre de dégrés, minutes, &c. que contient l'angle propoſé GAF.

LX.

Uſage du rapporteur, pour faire un angle d'un nombre déterminé de dégrés.

SI on veut faire ſur le papier un angle d'un nombre déterminé de dégrés, on ſe ſert d'un inſtrument K *, diviſé en 180 dégrés, qu'on appelle rapporteur, ou tranſporteur, & poſant le centre A ſur la pointe de l'angle qu'on

* FIG. 9.

veut tracer, & la ligne AB ſur la ligne AG, qu'on prend pour un des côtés de l'angle, on marque le point C, qui répond au nombre de dégrés qu'on veut donner à l'angle propoſé, puis par ce point, & par le centre A, tirant la ligne ACO, on a l'angle OAG, qui contient le nombre de dégrés demandé.

LXI.

SUPPOSONS maintenant qu'ayant pris une baſe FG ſur le papier, on veuille faire ſur cette baſe, un triangle FGH, ſemblable au triangle ABC, pris ſur un terrain. On ſe ſervira du demi cercle pour ſçavoir ce que chacun des angles CAB, CBA, contiendra de dégrés; enſuite, par le moyen du rapporteur, on fera les angles HFG & HGF, reſpectivement égaux aux angles CAB & CBA, & alors parce que le point H, auquel les côtés FH & GH ſe réuniront, ſera néceſſaire-

PL. VI. FIG. 1. & 2.

ment déterminé par l'opération, auſſi-bien que l'angle FHG, on aura le triangle FGH, entiérement ſemblable au triangle ABC.

LXII.

Comme il importe dans la pratique, ainſi que nous l'avons déja dit, que les angles ſoient exactement meſurés, il ne faut pas ſe contenter de les prendre, même avec les inſtrumens les plus parfaits, il faut encore trouver le moyen de vérifier leurs meſures, pour en faire la correction, s'il étoit néceſſaire. Or ce moyen eſt ſimple & facile. Reprenons le triangle ABC. On ſent que la grandeur de l'angle C doit réſulter de celle des angles A & B; car qu'on augmentât, ou qu'on diminuât ces angles, la poſition des lignes AC, BC, changeroit, & par conſéquent, l'angle C, que ces lignes font entr'elles. Or ſi cet angle dépend de la grandeur des angles A & B, on doit pré-

ſumer que ce que les angles A & B renferment de dégrés doit déterminer le nombre de dégrés que doit renfermer l'angle C, & qu'ainſi il pourra ſervir de vérification aux opérations qu'on aura faites pour déterminer les angles A & B, puiſqu'on ſera ſûr qu'on aura bien meſuré les angles A & B, ſi, en meſurant enſuite l'angle C, on lui trouve le nombre de dégrés qui lui conviendra relativement à la grandeur des angles A & B.

Pour trouver comment de la grandeur des angles A & B, on peut conclure celle de l'angle C, examinons ce qui arriveroit à cet angle, ſi les lignes AC, BC, venoient ou à s'approcher, ou à s'écarter l'une de l'autre. Suppoſons, par exemple, que BC tournant autour du point B, s'écarte de AB, pour s'approcher de BE, il eſt clair que pendant que BC tourneroit, l'angle B s'ouvriroit continuellement ; & qu'au contraire, l'angle C ſe reſſerreroit FIG. 3.

de plus en plus ; ce qui d'abord pourroit faire préſumer que, dans ce cas, la diminution de l'angle C égaleroit l'augmentation de l'angle B, & qu'ainſi la ſomme des trois angles A, B, C, ſeroit toûjours la même, quelle que fût l'inclinaiſon des lignes AC, BC, ſur la ligne AE.

LXIII.

OR cette induction préſumée porte avec elle ſa démonſtration ; car qu'on méne ID, parallele à AC, on verra premiérement que les angles ACB & CBD, appellés angles alternes, ſeront égaux, ce qui eſt évident, puiſque les lignes AC & IB étant paralleles, elles ſeront également inclinées ſur CBO, & qu'ainſi l'angle IBO égalera l'angle ACB. Mais l'angle IBO égalera auſſi l'angle CBD, parce que la ligne ID ne ſera pas plus inclinée ſur CO d'un côté que de l'autre. Donc l'angle DBC égal à l'angle IBO, égalera l'angle ACB, ſon alterne.

FIG. 4.

Les angles alternes ſont les angles renverſés que forme, de part & d'autre, une ligne droite qui tombe ſur deux paralleles.

Ces angles ſont égaux.

LXIV.

LXIV.

On verra, en ſecond lieu, que l'angle CAE ſera égal à l'angle DBE, à cauſe des paralleles CA & DB. Donc les trois angles du triangle pourroient être mis à côté les uns des autres, & unis par leurs ſommets aux points B, & alors on verroit que les trois angles DBE, CBD & CBA, qui égaleroient les trois angles CAB, ACB, CBA, ſeroient égaux à deux angles droits (Article LVII.) & comme tout ce que nous venons de dire pourra également s'appliquer à quelque triangle que ce ſoit, on ſera aſſuré de cette propriété générale que la ſomme des trois angles d'un triangle eſt conſtamment la même, & qu'elle eſt égale à deux droits, ou, ce qui revient au même, à 180 dégrés.

La ſomme des trois angles d'un triangle eſt égale à deux angles droits.

LXV.

Donc, pour conclure la valeur du

troiſiéme angle d'un triangle, lorſqu'on en aura meſuré deux, il faudra retrancher de 180 dégrés le nombre de dégrés que les deux angles feront enſemble. Propriété qui donne une maniére bien commode de vérifier la meſure des angles d'un triangle, & dont on verra une infinité d'autres utilités, à meſure qu'on avancera. Nous nous contenterons ici d'en tirer les conſéquences les plus immédiates.

LXVI.

Un triangle ne peut avoir plus d'un angle droit ; à plus forte raiſon ne peut-il avoir plus d'un angle obtus.

LXVII.

Si l'un des trois angles d'un triangle eſt droit, la ſomme des deux autres angles eſt toûjours égale à un droit.

Ces deux propoſitions ſont ſi claires, qu'elles n'ont pas beſoin d'être démontrées.

LXVIII.

Si on prolonge un des côtés du triangle ABC, le côté AB, par exemple, l'angle extérieur CBE vaudra ſeul les deux angles intérieurs oppoſés BCA, CAB; car qu'à l'angle CBA, on ajoûte, ou les deux angles BCA & CAB, ou l'angle CBE, la ſomme ſera toûjours égale à 180 dégrés, ou à deux angles droits (Article LXIV.).

L'angle extérieur d'un triangle, vaut les deux angles intérieurs oppoſés.

LXIX.

Connoissant un des angles d'un triangle iſocéle ABC, on connoît les deux autres. Fig. 5.

Qu'on ait l'angle au ſommet A; il eſt clair que ſi on retranche le nombre de dégrés que contiendra cet angle des 180 dégrés, meſure des trois angles du triangle, la moitié de la ſomme qui reſtera ſera la meſure de chacun des angles B, C, pris ſur la baſe.

Un angle d'un triangle iſocéle donné les deux autres.

Que ce fût un de ces angles B, C,

qu'on connût, le double de ſa valeur retranché de 180 dégrés, donneroit l'angle au ſommet A.

LXX.

Les angles d'un triangle équilatéral, ſont chacun de 60 dégrés.

COMME un triangle équilatéral n'eſt autre choſe qu'un triangle iſocéle auquel chacun de ſes côtés peut également ſervir de baſe, il eſt clair que ſes trois angles ſont néceſſairement égaux, & qu'ils valent chacun 60 dégrés, tiers de 180 dégrés.

LXXI.

Deſcription de l'exagone.

DE-là ſe tire aiſément la deſcription de l'exagone ou poligone de ſix côtés, que nous avions promiſe (Article XXIV.)

Car pour trouver une ligne qui partage la circonférence en ſix parties égales, il faudra que cette ligne ſoit la corde d'un arc de 60 dégrés, ſixiéme partie de 360 dégrés, valeur de la circonférence entiére. Suppoſant donc

que AB ſoit cette corde, & du centre I menant aux extrémités A & B les rayons AI & IB, l'angle AIB vaudra 60 dégrés, & parce que les deux côtés AI & IB ſeront égaux, le triangle AIB ſera iſocéle. Donc l'angle au ſommet étant de 60 dégrés, chacun des deux autres angles vaudra auſſi 60 dégrés, moitié de 120. Donc (Article LXX.) le triangle AIB ſera équilatéral. Donc AB égalera le rayon du cercle. D'où il ſuit, que pour décrire un exagone, il faudra ouvrir le compas d'un intervalle égal au rayon, & le porter ſix fois de ſuite ſur la circonférence, & l'on aura les ſix côtés de l'exagone. Fig. 6.

LXXII.

L'EXAGONE ABCDEF décrit, on décrira facilement le dodécagone, ou poligone de douze côtés.

Pour cela, on diviſera l'arc AKB, ou l'angle AIB, en deux parties égales, La moitié de l'angle au centre de l'exagone.

donne l'angle au centre du dodécagone.

& AK, corde de la moitié de l'arc AKB, ſera un des côtés du dodécagone.

LXXIII.

Partager un angle en deux également.

OR pour partager l'arc AKB, en deux arcs égaux AK & KB, on fera la même opération que s'il s'agiſſoit de couper la corde AB en deux parties égales ; c'eſt-à-dire, que des points A & B, comme centres, & d'un intervalle quelconque, on décrira les arcs MLN, OLP, & par le point L, ſection des deux arcs, & par le centre I on ménera la ligne LI, qui diviſera en deux & l'arc AKB, & la corde AB.

LXXIV.

Deſcription des Poligones de 24, 48, &c. côtés.

QU'ON ſuive la méthode précédente, & qu'on partage l'arc AK en deux arcs égaux, la corde de l'un ou de l'autre de ces arcs, ſera le côté du poligone de 24 côtés. On aura de même les poligones de 48, 96, 192, &c. côtés.

LXXV.

MAINTENANT pour décrire un octogone; c'eſt-à-dire, un poligone de 8 côtés, on commencera par tracer un quarré dans le cercle; ce qu'on fera, ſi, après avoir mené deux diamétres AIB & CIE, qui ſe coupent à angles droits: on joint leurs extrémités par les lignes AC, CB, BE, AE. Deſcription de l'octogone. FIG. 7.

Car à cauſe de la régularité du cercle, & de l'égalité des quatre angles que forment les perpendiculaires AIB, CIE, les quatre côtés AC, CB, BE, EA, ſeront néceſſairement égaux, & ſe trouveront également panchés les uns ſur les autres; ce qui ne pourra convenir qu'au quarré.

Le quarré ainſi décrit, on diviſera, par la méthode précédente, chacun des arcs CKB, BLE, &c. en deux parties égales; ce qui donnera l'octogone CKBLEMAN.

Qu'on partageât de même chacun

Et des polygones de 16, 32, &c. côtés.

des arcs CK, KB, &c. en 2, en 4, en 8, &c. parties égales, on auroit les poligones de 16, 32, 64, &c. côtés.

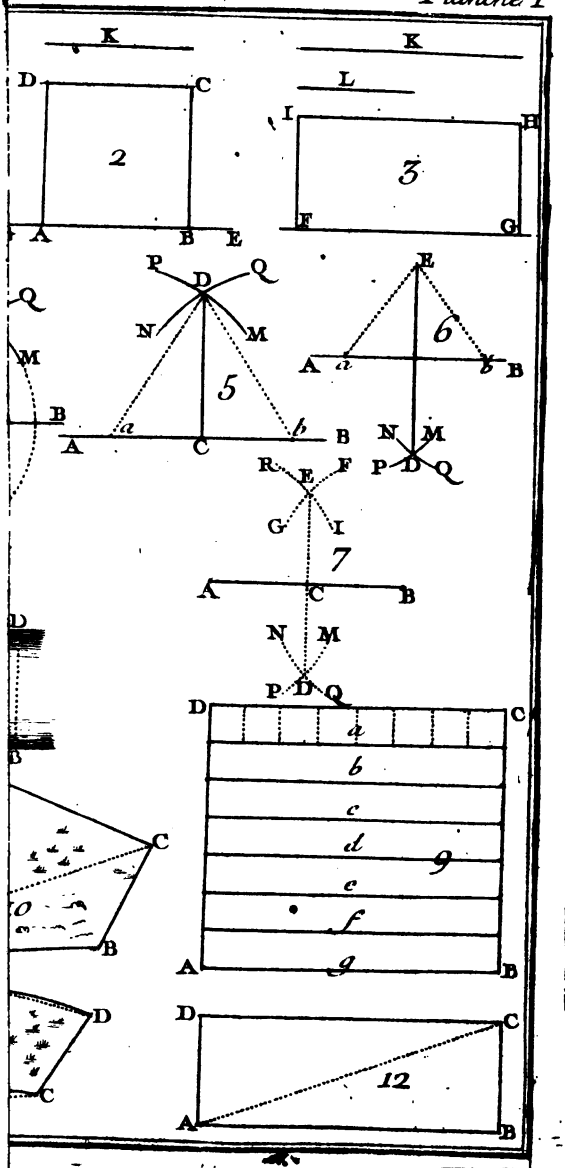
K
K
L
D
C
2
A
B
E
I
H
3
F
G
P
D
Q
N
M
5
a
b
E
6
R
F
G
I
7
N
M
P
D
Q
a
b
c
d
9
e
f
g
C
B
D
12

Et des poligones de 16, 32, &c. côtés.

des arcs CK, KB, &c. en 2, en 4, en 8, &c. parties égales, on auroit les poligones de 16, 32, 64, &c. côtés.

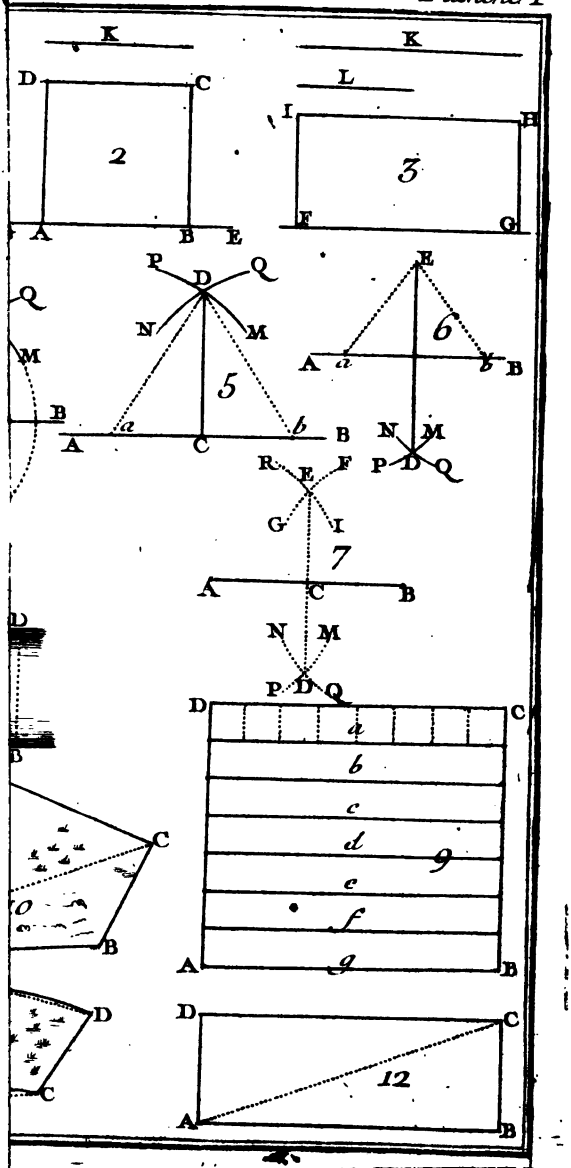
K
K
L
D
C
2
A
B
E
I
H
3
F
G
P
D
Q
N
M
5
a
b
E
6
R
F
G
I
7
N
M
P
D
Q
a
b
c
d
9
e
f
g
10
12

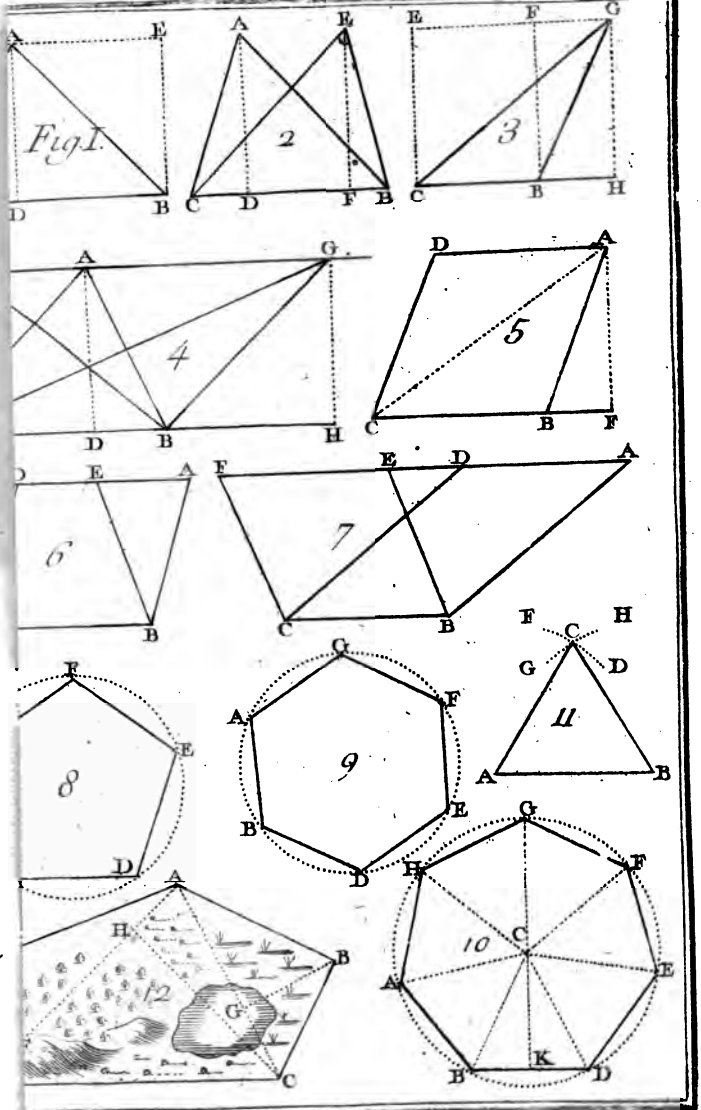
Fig I.
2
3
4
5
6
7
8
9
10
11
12

Planche III

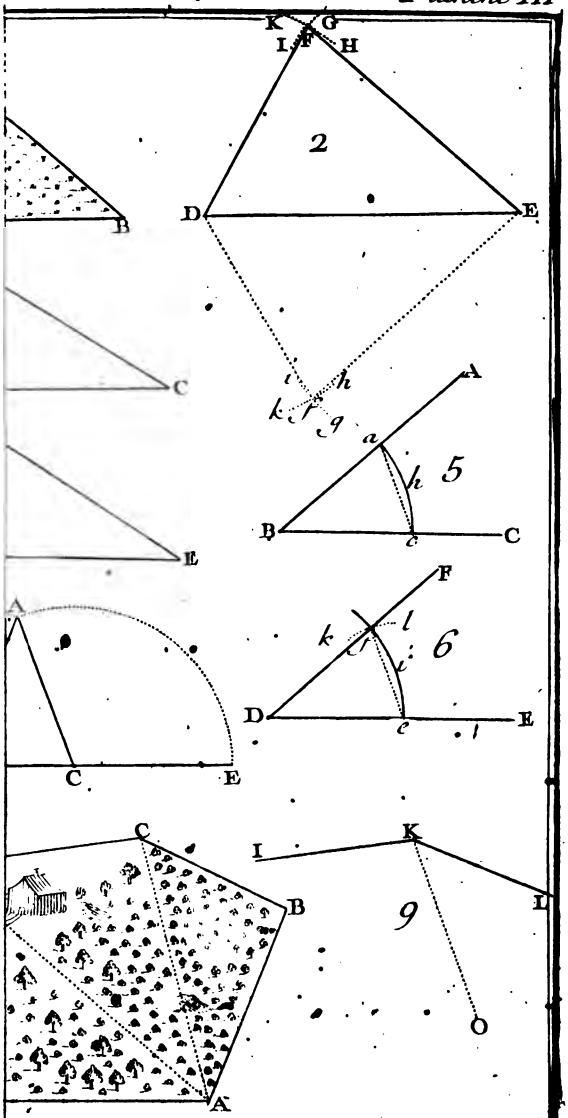

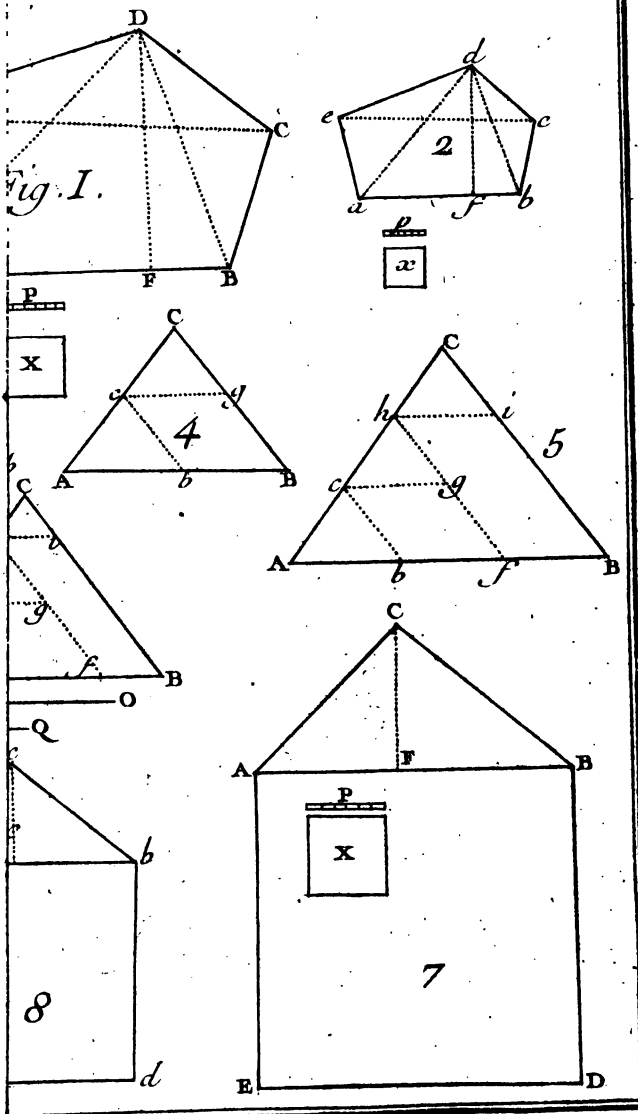
D
C
F
B
Fig. I.
d
e
c
2
a
f
b
p
x
P
X
C
c
g
4
A
b
B
C
h
i
5
c
g
A
b
f
B
C
b
g
f
B
O
Q
c
b
8
d
C
A
F
B
P
X
7
E
D

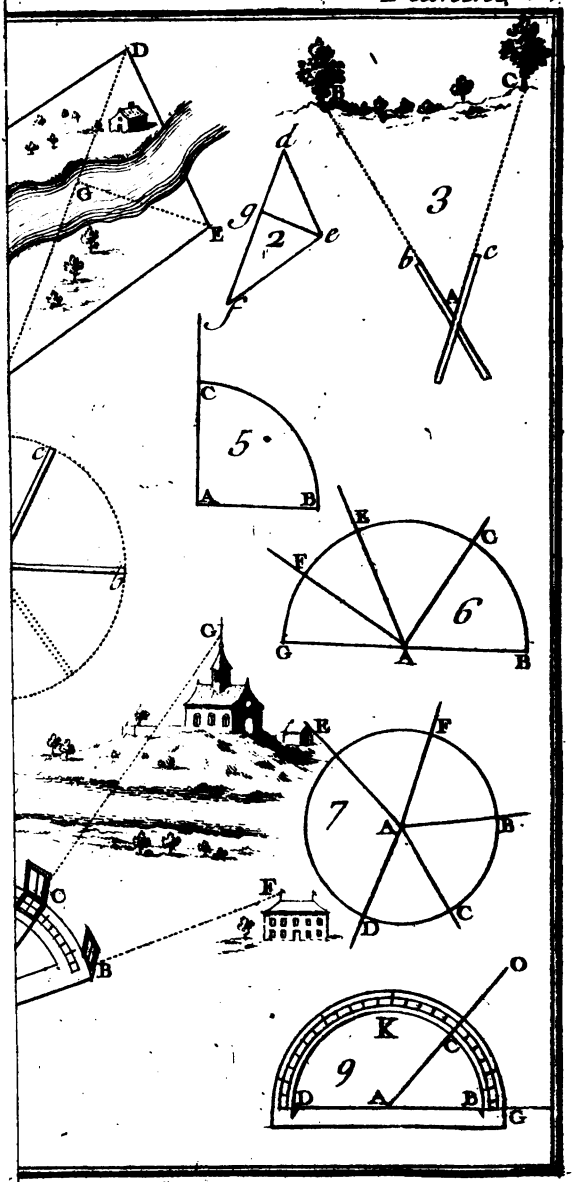
D
G
E
d
g
2
e
f
3
b
c
A
C
5
A
B
c
b
E
F
C
6
G
A
B
C
E
F
7
A
B
D
C
F
C
B
O
K
9
D
A
E
G

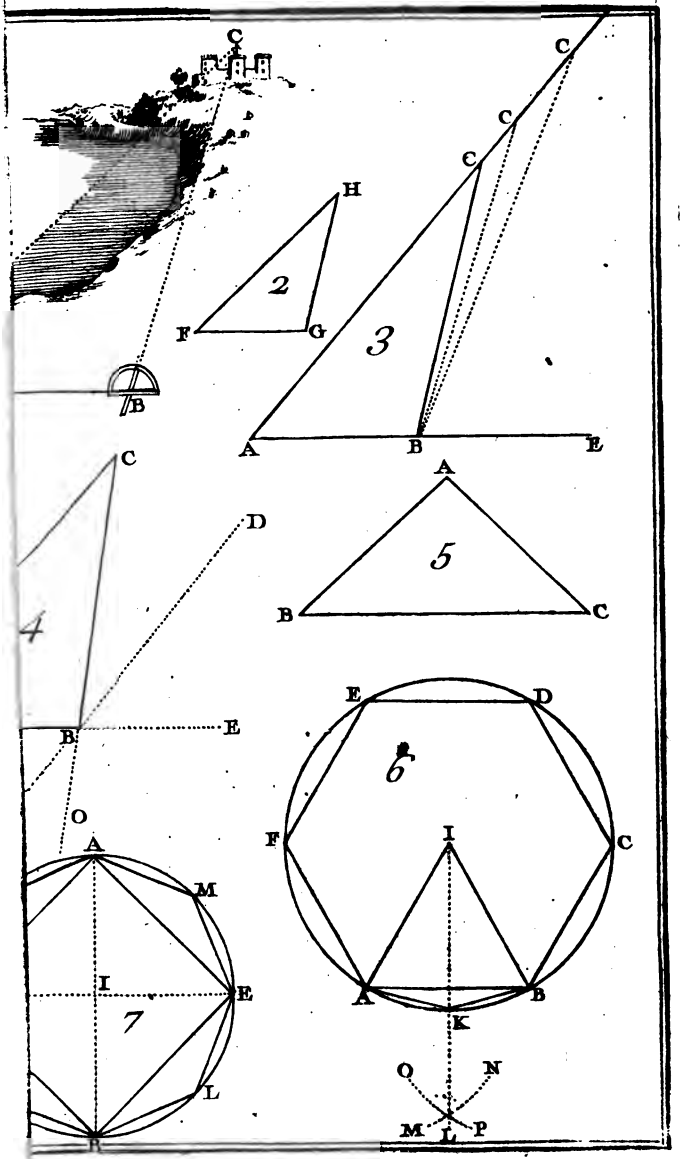
C
H
2
F
G
B
C
C
C
3
A
B
E
C
D
4
B
E
A
5
B
C
E
D
6
F
I
C
A
B
K
O
N
M
L
P
O
A
M
I
E
7
L

ELEMENS DE GEOMETRIE.

SECONDE PARTIE.

De la méthode géométrique de comparer les figures rectilignes.

SI on a fait attention à ce que nous avons dit, pour montrer comment on eſt parvenu à meſurer les Terrains, on a dû reconnoître que les poſitions des lignes les unes à l'égard des autres, fourniſſoient des remarques

dignes d'attention par elles-mêmes, indépendamment de l'utilité dont elles pouvoient être dans la pratique; & il eſt à préſumer que ces remarques ont engagé les premiers Géométres à pouſſer plus loin leurs découvertes, car ce ne ſont pas ſeulement les beſoins qui déterminent les hommes, la curioſité eſt ſouvent un auſſi grand motif pour exciter leurs recherches.

Ce qui a dû contribuer encore au progrès de la Géométrie, c'eſt le goût qu'on a naturellement pour cette préciſion rigoureuſe, ſans laquelle l'eſprit n'eſt jamais ſatisfait.

Auſſi lorſqu'en meſurant les figures, on s'eſt apperçu que dans une infinité de cas, les échelles & les demi cercles ne donnoient que des valeurs approchées des lignes ou des angles, on a cherché des méthodes qui ſuppléaſſent au défaut de ces inſtrumens.

Ici nous reprendrons les figures rectilignes; mais dans les opérations que

nous ferons pour découvrir leurs juſtes rapports, nous ne nous ſervirons que de la régle & du compas.

Il arrive ſouvent qu'on a beſoin ou de raſſembler dans une même figure, pluſieurs figures qui lui ſoient ſemblables, ou de décompoſer une figure en d'autres figures de même eſpéce ; ce qu'on peut faire en opérant d'abord ſur les rectangles, puiſque toutes les figures rectilignes ne ſont que des aſſemblages de triangles, & que chaque triangle eſt la moitié d'un rectangle qui a même hauteur & même baſe.

I.

POUR comparer les rectangles, il faut ſçavoir changer un rectangle quelconque en un autre qui ait la même ſuperficie, mais dont la hauteur ſoit différente. Car lorſque deux rectangles ſeront changés en deux autres de même hauteur, ils ne différeront plus que par leurs baſes ; le plus grand ſera celui

qui aura la plus grande baſe, & il contiendra le plus petit de la même maniére que ſa baſe contiendra celle du plus petit rectangle ; ce qu'on énonce ordinairement ainſi : Deux rectangles qui ont même hauteur, ſont en même raiſon que leurs baſes.

Deux rectangles qui ont même hauteur, ſont en même raiſon que leurs baſes.

II.

POUR ajoûter ces deux rectangles, il ne faudra que les poſer l'un à côté de l'autre.

III.

IL ne ſera pas plus difficile de retrancher le plus petit du plus grand.

IV.

ET pour partager un rectangle en un nombre déterminé de rectangles égaux, il faudra couper ſa baſe en un pareil nombre de parties égales, enſuite élever des perpendiculaires ſur les points de diviſion.

V.

MAINTENANT ſoit propoſé de changer le rectangle ABCD en un autre BFEG, qui ait la même ſuperficie, & dont la hauteur ſoit BF, on remarquera que puiſque ſa valeur ſera le produit de ſa hauteur par ſa baſe, il faudra que le rectangle cherché BFEG, dont la hauteur ſera plus grande que BC, ait ſa baſe plus petite que AB : c'eſt-à-dire, que ſi BF, par exemple, eſt double de BC, il faudra que BG ne ſoit que la moitié de AB.

PL. VII. FIG. I.

Maniére de changer un rectangle en un autre, qui ait une hauteur donnée.

Si BF étoit le triple de BC, BG ne ſeroit que le tiers de AB.

On verroit de même que ſi BF, au lieu de contenir BC un nombre exact de fois, le contenoit avec fraction, comme deux fois & un tiers, le rectangle BFEG ne pourroit être égal au rectangle ABCD, que ſa baſe BG ne fût auſſi contenuë deux fois & un tiers dans la baſe AB. Et en général, il ſera

aiſé de voir qu'afin que deux rectangles ABCD, BFEG, ſoient égaux, il faudra que la baſe BG de l'un ſoit contenue dans la baſe AB de l'autre, comme la hauteur BC dans la hauteur BF.

Il ne s'agira donc plus que de diviſer la ligne AB, de maniére que AB ſoit à GB, comme BF à BC; ce qui ſe fera (I. Part. Art. XLI.) en menant la ligne FA, & du point donné C, la parallele CG.

VI.

Seconde maniére de changer un rectangle en un autre, dont la hauteur ſoit donnée.

POUR changer le rectangle ABCD en un autre rectangle BFEG, qui ait une hauteur donnée BF, on peut employer une méthode moins naturelle que la précédente, mais plus commode. Ayant prolongé AD, juſqu'à ce qu'elle rencontre en I la droite FEI, menée par le point F, parallelement à AB, on tirera la diagonale BI, & par le point O, où elle rencontrera le côté DC, on ménera GOE, parallele à FB,

FIG. 2.

& le rectangle BFEG ſera égal au rectangle ABCD.

Pour le prouver, il ſuffira de faire voir qu'en ôtant des rectangles ABCD, BFEG, la partie commune OCBG, le rectangle ADOG égalera le rectangle EOCF.

Or ſi on fait attention à l'égalité des deux triangles IBF, IBA, on verra qu'en retranchant de ces triangles des quantités égales, les reſtes ſeront égaux. Mais le triangle IAB deviendra le rectangle ADOG, ſi on en retranche les deux triangles IDO, OGB; de même le triangle IBF deviendra le rectangle EOCF, par le retranchement des triangles IEO, OBC, égaux aux deux premiers. Donc les deux rectangles AD OG, EOCF, reſtes des deux triangles, ſeront égaux entr'eux, auſſi-bien que les rectangles ABCD, BFEG.

VII.

CETTE ſeconde maniére de changer

On démontre rigoureusement que si deux rectangles sont égaux, la base du premier est à la base du second, comme la hauteur du second à la hauteur du premier.

un rectangle en un autre, confirme le principe que suppose la premiére, & qui auroit pû sembler n'être appuyé que sur une simple induction.

De l'égalité des deux rectangles AB CD, BFEG, on avoit conclu qu'il falloit que AB fût à BG, comme BF à BC; c'est ce qu'on peut maintenant prouver par l'Article précédent.

Car les triangles IAB & OGB, étant manifestement semblables, la base AB du grand sera à la base GB du petit, comme la hauteur IA à la hauteur OG, ou comme BF à BC leurs égales. Donc AB sera à GB comme BF à BC, conformément au principe de l'Article V.

VIII.

De la maniére qu'on vient de s'y prendre pour démontrer que de l'égalité des deux rectangles ABCD, BF EG, il suit que la hauteur BF est à la hauteur BC, comme la base AB, à

la baſe BG, on démontreroit auſſi que lorſque quatre lignes BF, BC, AB, BG, ſeront telles que la premiere ſera à la ſeconde, comme la troiſiéme à la quatriéme; le rectangle qui auroit pour hauteur & pour baſe la premiere & la quatriéme de ces lignes, ſeroit égal au rectangle qui auroit pour hauteur & pour baſe la ſeconde & la troiſiéme.

Si quatre lignes ſont telles que la premiere, ſoit à la ſeconde, comme la troiſiéme à la quatriéme, le rectangle formé par la premiere & par la quatriéme ſera égal à celui que forment la ſeconde & la troiſiéme.

IX.

LORSQUE quatre quantités, ainſi que les lignes précédentes BF, BC, AB, BG, ſont telles que la premiere eſt la ſeconde, comme la troiſiéme à la quatriéme, on dit que ces quatre quantités ſont en proportion, ou qu'elles forment une proportion. Ainſi, 6, 9, 18, 27, ſont en proportion, parce que 6 eſt contenu dans 9, de la même maniére que 18 eſt contenu dans 27. Il en eſt de même de 15, 25, 75, 125, &c.

Quatre quantités, dont la premiere eſt à la ſeconde, comme la troiſiéme à la quatriéme, ſont dites former une proportion.

X.

Des quatre termes d'une proportion, le premier & le quatriéme, ſont nommés extrêmes ; on nomme moyens le ſecond & le troiſiéme.

LA premiere & la quatriéme des quatre quantités d'une proportion, s'appellent termes extrêmes, ou ſimplement extrêmes ; la ſeconde & la troiſiéme ſe nomment termes moyens, ou ſimplement, moyens.

En ſe ſervant des définitions précédentes, il eſt clair que les propoſitions renfermées dans les Articles VII. & VIII. s'énonceront ainſi.

XI.

Dans une proportion, le produit des extrêmes eſt égal au produit des moyens.

LORSQUE quatre quantités ſont en proportion, le produit des extrêmes eſt égal au produit des moyens.

XII.

Si le produit des extrêmes eſt égal au produit des moyens les quatre termes forment une proportion.

SI quatre quantités ſont telles que le produit des extrêmes ſoit égal au produit des moyens, ces quatre quantités ſeront en proportion.

XIII.

Il eſt à propos de faire beaucoup d'attention aux deux Articles précédens ; ils ſont d'un grand uſage : on en déduit, entr'autres choſes, la démonſtration de la régle qu'on appelle en Arithmétique, Régle de trois. Pour donner une idée de cette régle, nous prendrons un exemple ; c'eſt la maniére la plus ſimple de ſe faire entendre.

De-là on tire la régle de trois,

Suppoſons que 24 Ouvriers ayent fait 30 toiſes d'ouvrages en un certain temps, on demande combien 64 Ouvriers en feront dans un temps égal.

Il eſt évident que pour réſoudre la queſtion, il faut trouver un nombre qui ſoit à 64, dans la même raiſon que 30 à 24. Or, ſuivant ce que nous avons vû, ce nombre ſera tel que ſon produit par 24 égalera le produit de 30 par 64. Mais le produit de 30 par 64 eſt 1920. Donc le nombre cherché ſera celui qui étant multiplié par 24 donnera 1920.

Or pour peu qu'on ait d'idée des opérations de l'Arithmétique, on doit aiſément s'appercevoir qu'il faudra que ce nombre ſoit le quotient de la diviſion de 1920 par 24, c'eſt-à-dire 80.

Ou la manière de trouver le quatriéme d'une proportion, dont les trois premiers ſont donnés.

En général, pour trouver le quatriéme terme d'une proportion, dont les trois premiers ſeront donnés, il faudra prendre le produit du ſecond & du troiſiéme, & diviſer ce produit par le premier terme de la proportion.

XIV.

Un exemple auſſi ſimple que celui que nous venons de choiſir, ne fait peut-être pas aſſez ſentir la néceſſité de la méthode précédente. Le bon ſens ſeul feroit trouver le nombre demandé. On voit que 30 ſurpaſſe 24 d'un quart, & qu'ainſi il faut que le nombre cherché ſurpaſſe 64 d'un quart; ce qui donne 80. Mais il y a des cas où l'on pourroit chercher plus longtemps le rapport des deux premiers nombres de la proportion.

Par exemple, on veut un quatriéme terme proportionnel aux trois nombres 259, 407, 483.

Pour le trouver par la méthode précédente, il faut multiplier 483 par 407, & diviſer 196581, qui en eſt le produit par 259; ce qui donne 759 pour le quatriéme terme cherché.

Si on s'y étoit pris autrement pour trouver ce terme, ce n'auroit pû être qu'en tâtonnant. On auroit bien pû découvrir, par exemple, que 148, excès de 407 ſur 259, contient quatre des ſeptiémes parties de 259; qu'ainſi il falloit ajoûter de même à 483, le nombre 276, qui contient quatre de ſes ſeptiémes parties. Mais la généralité & la ſûreté de la méthode précédente, nous ſauve toûjours de l'embarras des tâtonnemens, qui même deviendroient inutiles dans bien des cas.

XV.

LORSQU'ON aura deux quarrés à

ajoûter, leur addition ſe fera de la même maniére que celle de deux rectangles, puiſque les quarrés ſont des rectangles dont la hauteur & la baſe ſont égales. On changera donc un des quarrés; le plus petit, par exemple, en un rectangle qui aura le côté du grand pour hauteur, & les deux quarrés ne feront plus qu'un rectangle. On pourroit donner de même la hauteur du petit quarré à tous les deux, ou une autre hauteur à volonté; mais ce qu'on ne pouvoit guéres manquer de ſe propoſer, lorſqu'on a voulu réduire ainſi deux quarrés en une ſeule figure, c'étoit de faire un quarré égal à deux autres. Problême dont il étoit aiſé de trouver la ſolution ſuivante.

XVI.

Faire un quarré double d'un autre.

SUPPOSONS d'abord que les deux quarrés ABCD, CBFE, dont on ſe propoſe de faire un ſeul quarré, ſoient égaux entr'eux; il eſt aiſé de remarquer

FIG. 3.

que ſi on tire les diagonales AC & CF, les triangles ABC & CBF, feront enſemble la valeur d'un quarré. Donc en tranſportant au-deſſous de AF les deux autres triangles DCA & CEF, on fera le quarré ACFG, dont le côté AC ſera la diagonale du quarré ABCD, & dont la ſuperficie égalera celle des deux quarrés propoſés; ce qui n'a pas beſoin d'être démontré.

XVII.

SUPPOSONS préſentement qu'on veuille faire un quarré égal à la ſomme des deux quarrés inégaux ADC*d*, CFE*f*, ou, ce qui revient au même, qu'on ſe propoſe de changer la figure ADFE*fd* en un quarré. FIG. 4.

Faire un quarré égal à deux autres pris enſemble.

En ſuivant l'eſprit de la méthode précédente, on cherchera s'il n'eſt point poſſible, de trouver dans la ligne DF, quelque point H, tel,

1°. Que tirant les lignes AH & HE, & faiſant tourner les triangles ADH,

EFH, autour des points A & E, juſqu'à ce qu'ils ayent les poſitions *Adh*, *Efh* ; ces deux triangles ſe joignent en *h*.

2°. Que les quatre côtés AH, HE, E*h*, *h*A, ſoient égaux & perpendiculaires les uns aux autres.

Or ce point H ſe trouvera en faiſant DH égal au côté CF ou EF. Car de l'égalité ſuppoſée entre DH & CF, il ſuit premierement que ſi on fait tourner ADH autour de ſon angle A, en ſorte qu'on lui donne la poſition *Adh*, le point H arrivé en *h* ſera diſtant du point C d'un intervalle égal à DF.

De la même égalité ſuppoſée entre DH & CF, il ſuit encore que HF égalera DC, & qu'ainſi le triangle EFH tournant autour de E pour prendre la poſition *Efh*, le point H arrivera au même point *h*, diſtant de C d'un intervalle égal à DF.

Donc la figure ADFE*fd* ſera changée en une figure à quatre côtés AHE*h*.

Il ne s'agit donc plus que de voir ſi ſes quatre côtés ſeront égaux & perpendiculaires les uns aux autres.

Or l'égalité de ces quatre côtés eſt évidente, puiſque A*h* & *h*E ſeront les mêmes que AH & HE, & que l'égalité de ces deux derniers ſe tirera de ce que DH étant égale à CF ou à FE, les deux triangles ADH, HEF, ſeront égaux & ſemblables.

Il ne reſte donc plus qu'à voir ſi les côtés de la figure AHE*h* formeront des angles droits; c'eſt de quoi il eſt aiſé de s'aſſurer, en remarquant que pendant que HAD tournera autour de A, pour arriver en *h*A*d*, il faudra que le côté AH faſſe le même mouvement que le côté AD. Or le côté AD fera un angle droit DA*d* en devenant A*d*. Donc le côté AH fera auſſi un angle droit HA*h* en devenant A*h*.

Quant aux autres angles H, E, *h*, il eſt viſible qu'ils ſeront néceſſairement droits. Car il ne ſeroit pas poſſible

qu'une figure terminée par quatre côtés égaux eût un angle droit, ſans que les trois autres fuſſent pareillement droits.

XVIII.

SI on remarque que les deux quarrés ADC*d*, CFE*f* ſont faits, l'un ſur AD, moyen côté du triangle ADH, l'autre ſur EF, égal à DH, petit côté du même triangle ADH ; & que le quarré AHE*h*, égal aux deux autres, eſt décrit ſur le grand côté AH, qu'on nomme communément l'hypoténuſe du rectangle ; on découvrira bientôt cette fameuſe propriété des triangles rectangles, que le quarré de l'hypoténuſe eſt égal à la ſomme des quarrés faits ſur les deux autres côtés.

L'hypoténuſe d'un triangle rectangle eſt ſon grand côté, & le quarré de ce côté eſt égal à la ſomme des quarrés faits ſur les deux autres.

XIX.

FIG. 5. & 6. DONC lorſque de deux quarrés HDKL, ABCD, on n'en voudra faire qu'un ſeul, il ſera inutile de les mettre à côté l'un de l'autre, & de les décom-

D'où ſe tire une maniére ſimple de réduire deux quarrés en un ſeul.

poſer, comme on a fait dans l'Article XVII. Il ſuffira de placer leurs côtés AD, DH, de façon qu'ils faſſent un angle droit, & de tirer enſuite la ligne AH, puiſqu'alors cette ligne ſera le côté du quarré cherché AHIE. FIG. 7.

XX.

SI on avoit deux figures ſemblables DAFGM, DHPON, & qu'on ſe propoſât d'en faire une troiſiéme, égale en ſuperficie aux deux autres priſes enſemble, il ne faudroit que poſer les baſes AD, HD de ces figures, ſur les deux côtés d'un angle droit ADH, & l'hypoténuſe AH du triangle ADH ſeroit la baſe de la figure demandée. FIG. 10.

Si les côtés d'un triangle rectangle ſervent de baſes à trois figures ſemblables, la figure faite ſur l'hypoténuſe égalera les deux autres priſes enſemble.

Pour en voir la raiſon qu'on imagine les quarrés ABCD, DHKL, AHIE, faits ſur les baſes des trois figures ſemblables, on verra d'abord par l'Article XVIII. que le quarré AHIE vaudra lui ſeul les deux autres quarrés ABCD, DHKL. Or les figures

ſemblables ſont entr'elles comme les quarrés de leurs côtés homologues, (I. Part. Art. XLVII.). Donc les trois quarrés ABCD, DHKL, AHIE, ſe trouveront les mêmes parties des figures DAFGM, DHPON, AHQRS.

D'où il ſera aiſé de conclure que la figure AHQRS vaudra les deux autres. Suppoſons, par exemple, que chacun de ces quarrés fût la moitié de la figure dans laquelle il ſeroit renfermé, perſonne ne douteroit que la figure AHQRS ne fût égale aux deux autres, puiſque ſa moitié vaudroit ſeule les moitiés des deux figures DHP ON, DAFGM. Il en ſeroit de même ſi les quarrés ABCD, DHKL, AHIE, étoient les deux tiers, les trois quarts, &c. des figures DAFGM, DHPON, AHQRS.

XXI.

SI on ſe propoſoit d'ajoûter trois

quatre, &c. figures ſemblables, ou, ce qui revient au même, trois, quatre, &c. quarrés, la méthode ſeroit toûjours la même. Qu'on voulût, par exemple, en ajoûter trois, on feroit d'abord un quarré égal aux deux premiers; enſuite à ce nouveau quarré on ajoûteroit le troiſiéme, & par-là on auroit un quarré égal aux trois quarrés propoſés.

Réduire pluſieurs figures ſemblables à une ſeule.

XXII.

De-là il ſuit que ſi on ſe propoſoit de faire un quarré, cinq, ſix, &c. fois plus grand qu'un autre, il ſuffiroit de ſuivre la méthode précédente pour réſoudre ce problême, & même ſon inverſe; c'eſt-à-dire, pour faire un quarré qui ne ſeroit que la cinquiéme, la ſixiéme, &c. partie d'un quarré propoſé; ce qui demanderoit ſimplement qu'on ſe rappellât la maniére de trouver une quatriéme proportionnelle à trois lignes données. Mais dans la

troiſiéme Partie de cet Ouvrage, nous donnerons une méthode plus directe & plus commode pour réſoudre ces ſortes de problêmes.

XXIII.

L'ADDITION des figures ſemblables fournit une preuve déciſive de la néceſſité d'abandonner les échelles, quand on veut faire les opérations d'une maniére qui puiſſe ſe démontrer rigoureuſement.

Suppoſons, par exemple, qu'on eût à faire un quarré double d'un autre, ceux qui ne ſçauroient par la méthode donnée dans l'Article XVI. s'y prendroient vraiſemblablement de la maniére ſuivante.

Ils diviſeroient le côté du quarré donné dans un grand nombre de parties, en 100 parties par exemple; enſuite multipliant 100 par 100, ils trouveroient 10000 pour la valeur du quar-

ré ; ce qui donneroit 20000 pour celle du quarré demandé.

Mais de la valeur de celui-ci, ils ne tireroient pas la maniére de le décrire ; il faudroit qu'ils euſſent ſon côté exprimé par un nombre, & que ce nombre fût tel qu'en le multipliant par lui-même ; c'eſt-à-dire, en le quarrant, le produit donnât 20000.

Le produit qui réſulte de la multiplication d'un nombre par lui-même eſt le quarré de ce nombre.

Or le nombre dont ils auroient beſoin, ce ſeroit en vain qu'ils le chercheroient ſur une échelle dont les parties ſeroient des centiémes du côté du premier quarré ; car 141, multiplié par lui-même, donneroit 19881, & 142 donneroit 20164 ; ce qui s'écarteroit de part & d'autre du nombre qu'ils devroient trouver.

Peut-être pourroient-ils croire qu'en partageant le côté du quarré donné en plus de 100 parties, ils trouveroient un nombre déterminé de ces parties pour le côté du quarré double du premier ; mais quelques eſſais qu'ils

pûſſent faire, ils trouveroient toûjours que ce ſeroit en vain qu'ils chercheroient deux nombres, dont l'un exprimeroit le côté; ou, ſuivant le langage ordinaire, la racine d'un quarré, & l'autre, le côté, ou la racine du quarré double.

La racine d'un quarré, eſt le nombre qui, multiplié par lui-même, donne le quarré.

XXIV.

En effet, on démontre en Arithmétique, que ſi deux nombres ne ſont pas multiples l'un de l'autre; c'eſt-à-dire, ſi l'un ne contient pas l'autre un nombre exact de fois, le quarré du plus grand ne ſera pas, non plus, multiple du quarré du plus petit. Ainſi 5, par exemple, ne pouvant pas ſe diviſer exactement par 4, ſon quarré 25 ne pourra pas, non plus, ſe diviſer par 16 quarré de 4.

Un nombre eſt multiple d'un autre, lorſqu'il le contient pluſieurs fois exactement;

Donc ſi on quarre deux nombres, dont l'un ſoit plus grand que l'autre, & en ſoit cependant moins quele double, il viendra, par cette opération, deux

deux autres nombres, dont l'un ſera moindre que le quadruple de l'autre, mais ſans en pouvoir être ni le double, ni le triple. Donc, qu'on diviſe le côté d'un quarré en tel nombre de parties qu'on voudra, le côté du quarré double, qui, ſuivant ce qui eſt démontré dans l'Article XVI. ſera la diagonale de ce quarré, ne contiendra pas un nombre exact de ces mêmes parties ; ce qu'on exprimeroit dans le langage des Géométres, en diſant, que le côté du quarré & ſa diagonale ſont incommenſurables.

Le côté d'un quarré & ſa diagonale, ſont incommenſurables.

XXV.

ON peut encore remarquer qu'il y a quantité d'autres lignes qui n'ont aucune commune meſure.

Autres lignes incommenſurables.

Car, qu'on écrive les deux ſuites,

1, 2, 3, 4, 5, 6, 7, 8, 9, &c.

1, 4, 9, 16, 25, 36, 49, 64, 81, &c.

dont la premiere exprime les nombres naturels, & l'autre leurs quarrés; on verra que comme les nombres qui ſeront entre 4 & 9, entre 9 & 16, entre 16 & 25, &c. n'auront aucune racine, les côtés de deux quarrés, dont l'un ſera ou triple, ou quintuple, ou ſextuple, &c. ſeront incommenſurables entr'eux.

XXVI.

Mais de ce que pluſieurs lignes ſont incommenſurables avec d'autres, peut-être pourroit-il naître quelque ſoupçon ſur l'exactitude des propoſitions qui nous ont ſervi à conſtater la proportionalité des figures ſemblables. On a vû qu'en comparant ces figures (I. Part. Art. XXXIV. & ſ.), nous avons toûjours ſuppoſé, qu'elles avoient une échelle qui pouvoit également ſervir à meſurer toutes leurs parties : Suppoſition qui maintenant paroîtroit devoir être limitée, à cauſe de ce qui vient d'être dit; il faut donc que nous reve-

nions ſur nos pas, & que nous examinions ſi nos propoſitions, pour être vrayes, n'auroient pas elles-mêmes beſoin de quelques modifications.

XXVII.

REPRENONS d'abord ce qui eſt dit dans l'Article XXXIX. de la premiere Partie ; & voyons s'il eſt exactement vrai que les triangles tels que *abc*, ABC, dont les angles ſont les mêmes, ayent leurs côtés proportionnels. Suppoſons, par exemple, que la baſe du premier étant *ab*, celle du ſecond ſoit une droite AB, égale à la diagonale d'un quarré dont *ab* feroit le côté ; & cherchons ſi, dans cette ſuppoſition, le rapport de AC à *ac*, ſera le même que celui de AB à *ab*. FIG. 11. & 12.

Quoique, ſuivant ce que nous avons vû, quelque grand que pût être le nombre des parties qu'on ſuppoſeroit arbitrairement dans *ab*, AB ne pourroit jamais contenir un nombre exact de ces

parties, il eſt cependant aiſé de s'appercevoir que plus ce nombre ſera grand, plus AB approchera d'être méſuré exactement avec les parties de *ab*. Suppoſons *ab* diviſé en 100 parties; ce que AB contiendra de ces parties ſe trouvera entre 141 & 142 (Article XXIII.). Contentons-nous de 141, & négligeons le petit reſte. Il eſt clair (I. Part. Art. XXXIX.) que AC contiendra auſſi 141 des parties de *ac*.

Suppoſons enſuite *ab* diviſé en 1000 parties; ce que AB contiendra des parties de *ab*, ſera entre 1414 & 1415; ne prenons que 1414, & négligeons encore le reſte, on trouvera de même que AC contiendra 1414 des milliémes parties de *ac*, & qu'en général AC contiendra toûjours autant de parties de *ac*, avec un reſte, que AB contiendra de parties de *ab*, avec un reſte.

De plus, ces reſtes comme nous venons de l'obſerver, ſeront de part & d'autre, d'autant plus petits, que

le nombre des parties de *ab* ſera grand. Donc il ſera permis de les négliger, ſi on imagine la diviſion de *ab* pouſſée juſqu'à l'infini. Donc on pourra dire alors que le nombre des parties de *ac* que contiendra AC égalera le nombre des parties de *ab* que contiendra AB, & qu'ainſi AC ſera à *ac*, comme AB à *ab*.

Donc nous avons rigoureuſement démontré que lorſque deux triangles ont les mêmes angles, ils ont leurs côtés proportionnels, ſoit que leurs côtés ayent une commune meſure, ou qu'ils n'en ayent pas.

Les triangles & les figures ſemblables, ont leurs côtés proportionnels, lors même que ces côtés ſont incommenſurables.

La propoſition (I. Part. Art. XLV.) d'où ſe tire la proportionnalité des lignes qui ſe répondent dans les figures ſemblables, ſe juſtifieroit de la même façon.

XXVIII.

On verra, par de pareils raiſonnemens, que les propoſitions expli-

quées dans les Articles XLIV. & XLVII. de la premiere Partie, où l'on a fait voir que les aires des triangles & des figures ſemblables, ont entr'elles la même proportion que les quarrés de leurs côtés homologues, ſont toûjours vraies en général, même lorſque les côtés de ces figures ſont incommenſurables.

Et ces figures ſont toûjours entr'elles comme les quarrés de leurs côtés homologues.

Prenons pour exemple les triangles ſemblables ABC, *abc*, dont nous ſuppoſerons les hauteurs incommenſurables, avec leurs baſes ; dans ce cas, il n'y aura aucun quarré, quelque petit qu'il ſoit, qui puiſſe ſervir de commune meſure à ces triangles, & aux quarrés faits ſur leurs baſes ; c'eſt-à-dire, que les aires *abc* & *abde* ſeront incommenſurables entr'elles, ainſi que les aires ABC & ABDE ; mais il n'en ſera pas moins vrai que le triangle ABC ſera au quarré ABDE, comme le triangle *abc* au quarré *abde*.

C'eſt de quoi on s'aſſurera, en obſer-

vant que plus les parties de l'échelle, dont on ſe ſervira pour mefurer AB & CK ſeront ſuppoſées petites, plus on approchera d'avoir les nombres qui exprimeront le rapport de ABC à ABDE. Donc diviſant toûjours l'échelle du triangle *abc* dans le même nombre de parties, & négligeant les reſtes, on verra que les mêmes nombres ſerviroient toûjours à exprimer le rapport du triangle ABC au quarré ABDE, & celui du triangle *abc* au quarré *abde*. Qu'on pouſſe, par la penſée, la diviſion des échelles juſqu'à l'infini, les reſtes deviendront abſolument nuls; & l'on pourra dire, que les nombres qui exprimeroient le rapport du triangle *abc* au quarré *abde*, exprimeroient auſſi le rapport du triangle ABC au quarré ABDE, & qu'ainſi le triangle *abc* ſera au quarré *abde*, comme le triangle ABC au quarré ABDE.

Il en ſeroit de même de toutes les figures ſemblables.

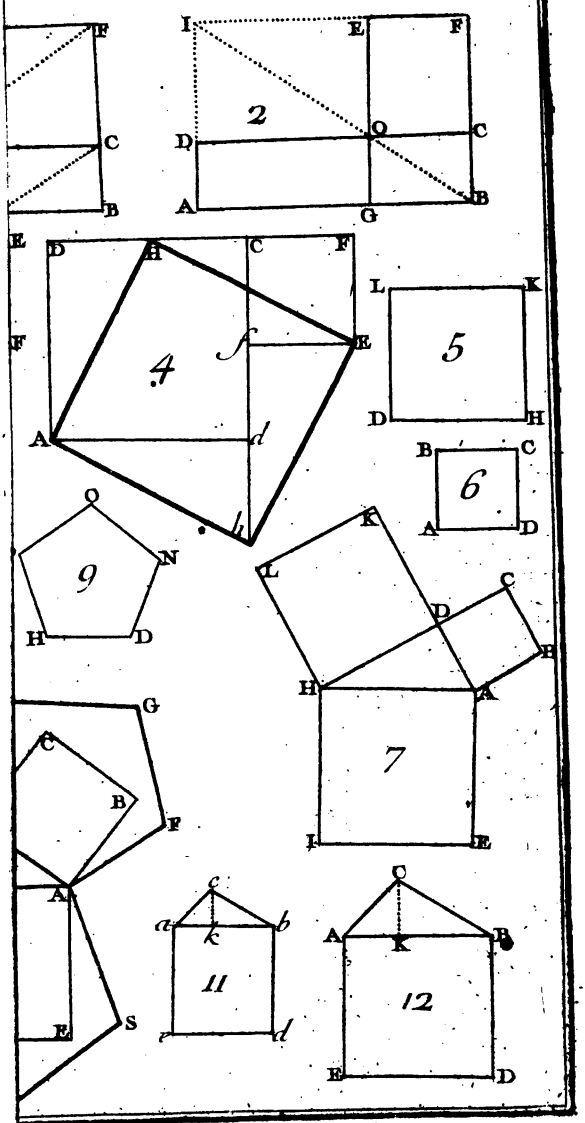
F
C
B
I
E
F
2
D
O
C
A
G
B
E
D
H
C
F
4
f
F
E
A
d
L
K
5
D
H
B
C
6
A
D
O
N
9
H
D
K
L
C
D
H
H
A
7
G
C
B
F
A
E
S
c
a
k
b
11
r
d
C
A
K
B
12
E
D

ELEMENS DE GEOMETRIE.

TROISIEME PARTIE.

De la meſure des figures circulaires, & de leurs propriétés.

APRE'S être parvenu à meſurer toutes ſortes de figures rectilignes, on a voulu avoir la maniére de déterminer celles que bornent des lignes courbes. Les Terrains, & en général, les eſpaces dont il s'agit de chercher la meſure, ne ſont

pas toûjours terminés par des lignes droites.

Souvent les figures curvilignes, & les figures mixtes, c'eſt-à-dire, celles qui ſont bornées par des lignes droites, & par des lignes courbes, peuvent ſe réduire à des figures entiérement rectilignes, comme nous l'avons déja dit ; car qu'on eût à meſurer une figure telle que ABCDEFG, on pourroit prendre le côté AD pour un aſſemblage de deux, de trois, &c. lignes droites, ſubſtituant en ſuite la droite FD à la courbe FED, on auroit la figure rectiligne ABCDFG, qui différeroit ſi peu de la figure mixte, que l'une pourroit être priſe pour l'autre, ſans erreur ſenſible.

Pl. VIII. Fig. 1.

On opéreroit donc ſur ces figures, en ſuivant les méthodes précédentes : mais les Géométres ne s'accommoderoient guéres de ces ſortes d'opérations ; ils n'en veulent que de rigoureuſes : d'ailleurs, il y a tel cas, où

la transformation d'une figure curviligne, ou mixte, en une figure entiérement rectiligne, demanderoit qu'on partageât son contour en un si grand nombre de parties, qu'alors la méthode commune deviendroit impraticable; aussi ne seroit-on pas tenté de la suivre, si on avoit à mesurer un espace tel que Z (Fig. 7.), ou le cercle entier X (Fig. 3.), il faudroit prendre une autre voie pour trouver la mesure de ces sortes d'espaces. Ici nous ne nous attacherons qu'à ceux dont les contours renferment des arcs de cercle.

I.

SUPPOSONS d'abord qu'on ait l'aire du cercle X à mesurer. On observera qu'en lui inscrivant un poligone régulier BCDE &c. plus ce poligone aura de côtés, plus il approchera d'être égal au cercle. Or on a vû que l'aire de cette figure (I. Part. FIG. 3.

Art. XXII.) eſt égale à autant de fois le produit du côté BC par la moitié de l'apothéme AH, que le poligone a de côtés ; ou, ce qui revient au même, que cette aire a pour meſure le produit du contour entier BCDE &c. par la moitié de l'apothéme. Donc puiſqu'en pouſſant juſqu'à l'infini le nombre des côtés du poligone, ſon aire, ſon contour, ſon apothême ; égaleront l'aire, le contour & le rayon du cercle ; la meſure du cercle ſera le produit de ſa circonférence par la moitié de ſon rayon.

La meſure du cercle, eſt le produit de ſa circonférence par la moitié de ſon rayon.

II.

Il ſuit de-là que la ſuperficie d'un cercle BCD, eſt égale à celle d'un triangle ABL, dont la hauteur ſeroit le rayon AB, & la baſe une droite BL égale à la circonférence.

Fig. 4.

L'aire du cercle eſt égale à un triangle dont la hauteur eſt le rayon, & la baſe une droite égale à la circonférence

III.

Il ne s'agit donc que d'avoir le

rayon & la circonférence. A l'égard du rayon, il eſt aiſé de le meſurer; il n'en eſt pas de même de la circonférence : cependant, pour avoir ſa meſure, on peut envelopper le cercle, d'un fil; ce qui dans beaucoup d'occaſions ſuffit pour la pratique.

Mais, juſqu'à préſent, on n'a pu parvenir à méſurer géométriquement la circonférence du cercle; c'eſt-à-dire, à déterminer exactement le rapport qu'elle a avec le rayon. On trouve ce rapport à des cent-milliémes, à des millioniémes près, & même on en approche tant qu'on veut, ſans que pour cela, on puiſſe le déterminer rigoureuſement.

IV.

L'APPROXIMATION la plus ſimple qu'on ait trouvée, eſt celle qu'on tient d'Archiméde. Le diamétre ayant 7 parties, ce que la circonférence contient de ces parties eſt entre

Le diamétre d'un cercle ayant 7 par-

ties, la circonférence en a près de 22.

21 & 22 ; & l'on ſçait qu'elle approche beaucoup plus de 22 que de 21.

V.

Au reſte, il eſt clair que ſi on ſçavoit exactement le rapport d'une ſeule circonférence à ſon rayon, on ſçauroit celui de toutes les autres circonférences à leurs rayons ; ce rapport devant être le même dans tous les cercles : propoſition qui paroît ſi ſimple, qu'elle n'a pas beſoin d'être démontrée, puiſqu'on ſent que quelles que fuſſent les opérations qu'on auroit faites pour méſurer une circonférence, en ſe ſervant des parties de ſon rayon, il faudroit qu'on fît les mêmes opérations, pour meſurer toute autre circonférence ; qu'ainſi, on lui trouveroit le même nombre de parties de ſon rayon.

Les circonférences des cercles, ſont entr'elles, comme leurs rayons.

VI.

Il eſt évident que les cercles ont encore la propriété générale de tou-

tes les figures ſemblables (I. Part. Art. XLVII.) ; je veux dire, que leurs ſurfaces ſont en même proportion que les quarrés de leurs côtés homologues : mais comme, pour appliquer cette propoſition aux cercles, on ne pourra prendre leurs côtés, il faudra ſe ſervir des rayons ; alors on verra que les cercles auront leurs aires proportionnelles aux quarrés de leurs rayons.

Les aires des cercles ſont proportionnelles aux quarrés de leurs rayons.

S'il ne paroiſſoit pas d'abord que cette propoſition dût ſuivre de ce qui eſt dit dans l'Article XLVII. de la premiere Partie, & qu'on voulût en avoir une démonſtration particuliere, on feroit attention qu'il reviendroit abſolument au même, de comparer les aires de deux cercles BCD, EFG, ou celles des triangles ABL, AEM, qui leur ſeroient égaux (Article II.) en ſuppoſant que leurs baſes BL & EM, fuſſent les développemens des circonférences BCD & EFG, & que leurs hauteurs fuſſent les rayons AB & AE. Fig. 4. & 5.

Or par l'Article précédent, ces triangles seroient semblables ; donc leurs aires seroient en même proportion que les quarrés de leurs côtés homologues AB, AE, rayons des cercles BCD & EFG. Donc, &c.

VII.

Les cercles, à cause de leur similitude, auront aussi, de même que les figures semblables, cette propriété, que si, en prenant les trois côtés d'un triangle rectangle pour rayons, on décrit trois cercles, celui dont le rayon sera l'hypoténuse, égalera les deux autres pris ensemble.

Des trois cercles qui ont pour rayons les trois côtés d'un triangle rectangle, celui que donne l'hypotenuse vaut les deux autres pris ensemble.

Ainsi, on pourra toûjours trouver un cercle égal à deux cercles donnés, & cela sans prendre la peine de mesurer chacun de ces cercles. Qu'on veuille, par exemple, faire un bassin qui contienne autant d'eau que deux autres, la profondeur étant la même ; qu'on veuille trouver l'ouverture d'un tuyau

tuyau de fontaine, par lequel il s'écoule autant d'eau que par deux tuyaux donnés ; on y réuſſira ſans peine, en prenant la voie que nous venons d'indiquer.

VIII.

SI on avoit à meſurer la ſuperficie d'une couronne V, figure enfermée entre deux cercles concentriques EFG, BCD ; c'eſt-à-dire, entre deux cercles, qui auroient un centre commun ; ce qui ſe préſenteroit d'abord, ce ſeroit de meſurer ſéparément les ſuperficies des deux cercles, & de retrancher la plus petite de la plus grande. Mais il eſt aiſé de s'appercevoir que le problême peut ſe réſoudre d'une maniére plus commode pour la pratique. FIG. 6.

Une couronne eſt l'eſpace enfermé entre deux cercles concentriques.

Imaginons un triangle ABL, qui ait le rayon AB pour hauteur, & dont la baſe ſoit une droite BL, égale à la circonférence BCD. Si on méne par le

point E, la droite EM parallele à BL, cette droite ſera égale à la circonférence EFG; car à cauſe de la ſimilitude des triangles AEM, ABL, il y aura même proportion entre AB & BL, qu'entre AE & EM. Or par la ſuppoſition, BL égalera la circonférence dont AB ſera le rayon. Donc EM égalera auſſi la circonférence qui aura pour rayon la ligne AE, partie de AB. Il en ſeroit de même de toute autre ligne KI, parallele à BL; elle ſeroit toûjours égale à la circonférence dont AK ſeroit le rayon.

De l'égalité ſuppoſée entre la circonférence EFG, & la droite EM, ſuit néceſſairement l'égalité du triangle AEM au cercle EFG; donc il faut que l'eſpace rectiligne EBLM, ſoit égal à la couronne propoſée V. Or cet eſpace EBLM, ſe peut aiſément changer en un rectangle EBPH, en coupant ML en deux parties égales MI & IL, & en menant à BL par le point I

la perpendiculaire HIP, qui donnera le triangle ajoûté MHI, égal au triangle retranché PLI.

Donc ſi par le point I on méne à BL la paralléle IK, qui coupera EB en deux parties égales, la couronne propoſée, égale à l'eſpace EBLM ou à EBPH, aura pour meſure le produit de EB par KI, circonférence dont AK ſera le rayon.

Pour meſurer une couronne, il faut multiplier ſa largeur par la circonférence moyenne.

Donc pour meſurer une couronne V, il faut multiplier ſa largeur EB par la circonférence KOQ, dite moyenne entre les circonférences BCD & EFG, parce qu'elle ſurpaſſe la petite circonférence EFG, ou la droite EM, d'une quantité MH, égale à PL, quantité dont elle eſt ſurpaſſée par la grande circonference BCD, ou par la droite BL.

IX.

LORSQU'IL s'agira de meſurer une figure Y, compoſée d'arcs de cercles Fig. 2.

différens, & de lignes droites; ou une figure Z, uniquement compoſée d'arcs de cercles; toute la difficulté ſe réduira à meſurer des ſegmens de cercle; c'eſt-à-dire, des eſpaces tels que ABCE*, terminés par un arc ABC & par la corde AC. Car les figures entierement compoſées d'arcs de cercles, ou d'arcs & de lignes droites, peuvent toutes être conſidérées comme des figures rectilignes, augmentées ou diminuées de certains ſegmens.

FIG. 7.

Le ſegment de cercle eſt un eſpace terminé par un arc & par ſa corde.

* FIG. 8.

La meſure de toutes les figures circulaires ſe réduit à celle du ſegment.

X.

LA meſure d'un ſegment quelconque ABCE eſt facile à trouver, lorſqu'on ſçait celle du cercle; car qu'on tire les lignes AT, CT, au centre T de l'arc, on formera une figure ABCT, appellée ſecteur, dont l'aire ſera au cercle, comme l'arc ABC à la circonférence entiére, & qui, par conſéquent, aura pour meſure le produit de la moitié du rayon AT par l'arc ABC:

Le ſecteur eſt une portion de cercle, terminée par deux rayons, & par l'arc qu'ils comprennent.

Sa meſure, & celle du ſegment.

or le ſecteur étant déterminé, il ne faudra plus qu'en retrancher le triangle ACT, pour avoir le ſegment ABCE.

XI.

COMME il arrive aſſez ſouvent que lorſqu'on ſe propoſe de meſurer une figure telle que Y, on n'a pas le centre de l'arc HIK, & que cependant, ſans ce centre, on ne ſçauroit meſurer la figure, puiſque la méthode précédente exige la connoiſſance du rayon, il faut que nous cherchions le centre d'un arc de cercle quelconque. FIG. 2.

Trouver le centre d'un arc de cercle quelconque.

Soit ABC * l'arc de cercle propoſé, ſi on prend à volonté deux points A & B ſur cet arc, & que de ces points, comme centres, on décrive les quatre arcs *goi*, *foh*; *lpk*, *mpn*, les deux premiers, d'un rayon quelconque, & les deux autres, ou de ce même rayon, ou de tel autre rayon qu'on voudra; il eſt clair que le centre cherché de l'arc ABC, ſera ſur la ligne *op*, qui join-

* FIG. 9.

dra les points d'interſections *o*, *p*.

Choiſiſſant enſuite un troiſiéme point C, ſur l'arc ABC, & ſe ſervant de B & de C, de la même maniere qu'on s'eſt ſervi de A & de B, on aura une droite *qr*, ſur laquelle devra encore ſe trouver le centre demandé. Donc ce centre ſera le point de rencontre T, des lignes *op*, *qr*,

XII.

AINSI, quelqu'arrangement qu'on donne à trois points, pourvû qu'on ne les place pas en ligne droite, on pourra toûjours les lier par un arc de cercle, ou, ce qui revient au même, quelle que ſoit la proportion des côtés
FIG. 10. AC, BC, d'un triangle ACB, avec ſa baſe, on pourra toûjours circonſcrire un cercle à ce triangle.

XIII.

LA méthode que nous venons de donner, pour circonſcrire un cercle à

un triangle, étant appliquée ſucceſſivement à différens triangles ACB, AEB, AGB, plus ou moins élevés à l'égard de leur baſe AB, on s'apperçoit qu'en paſſant d'un triangle ACB, dont l'angle au ſommet eſt fort aigu, à d'autres triangles AEB, AGB, dont l'angle au ſommet eſt plus ouvert; le centre du cercle circonſcrit s'approche continuellement de AB, & que ce centre paſſe enſuite au deſſous de AB, lorſque l'angle au ſommet AGB a atteint une certaine ouverture. Or voyant paſſer ce centre au deſſous de AB, après l'avoir vu au deſſus, il doit venir dans l'eſprit, ce me ſemble, de chercher de quelle eſpece eſt le triangle AFB, lorſque le cercle circonſcrit a ſon centre ſur AB même. FIG. 11. FIG. 12.

Pour connoître ce triangle AFB, on commencera par remarquer que dans ce cas particulier, la portion du cercle circonſcrite au triangle doit être exactement un demi-cercle: en effet,

le centre du cercle devant ſe trouver ſur la baſe AB, dont les deux extrémités ſont, par la ſuppoſition, dans la circonférence, le centre M ne pourra pas manquer d'être ſitué préciſément au milieu de AB, de ſorte que AB ſera néceſſairement un diamétre.

Si d'un point quelconque de la circonférence d'un demi-cercle, on tire deux droites aux extrémités du diamétre, on aura un angle droit.

On verra enſuite que de quelque point F du demi-cercle, qu'on tire les lignes FA, FB, l'angle AFB ſera droit, Car menant FM, les deux triangles AFM, MFB, ſeront iſocéles; donc les deux angles AFM, MFB, ſeront reſpectivement égaux aux angles FAM, FBM, ou, ce qui revient au même, l'angle total AFB égalera la ſomme des deux angles FAM, FBM; mais les trois angles AFB, FAM, FBM, pris enſemble, valent deux droits. Donc l'angle AFB ſera droit.

Ainſi, ſi on décrit ſur la baſe AB, un triangle rectangle quelconque, ce triangle aura la propriété demandée, d'être inſcrit dans un cercle dont le centre eſt ſur la baſe.

XIV.

CETTE propriété du cercle, que l'angle, qui a ſon ſommet dans la demi-circonférence, & qui eſt appuyé ſur le diamétre, eſt toûjours droit, porte à chercher ſi les autres parties du cercle n'auroient pas quelque propriété analogue; ſi, par exemple, les angles ACB, AEB, AFB, pris dans un ſegment ACEFB, ne ſeroient pas tous égaux entr'eux, ainſi que le ſont ceux du demi-cercle. PL. IX. FIG. 1.

Pour nous en aſſurer, nous commencerons par chercher la valeur d'un de ces angles, & nous verrons enſuite ſi les autres ont la même valeur. Nous prendrons par exemple, l'angle AEB, dont le ſommet E eſt placé au milieu de l'arc AEB. Comme la ligne EDG, qui paſſe par le centre D, coupe cet angle en deux parties égales, il ſuffira de meſurer l'angle AEG ſa moitié, ou, ce qui revient au même, il ſuffira de FIG. 2.

de ſçavoir quelle partie l'angle AEG eſt d'un angle déja meſuré, tel que ADG ; je dis que l'angle ADG eſt déja meſuré, parce que nous ſçavons que l'arc AG eſt ſa meſure (I. Part. Art. LII.).

Si on fait attention que le triangle AED eſt iſocéle, on verra facilement que l'angle AEG eſt la moitié de l'angle ADG ; car les angles AED, EAD (I. Part. Art. XXXI.) ſont égaux : mais (I. Part. Art. LXVIII.) ces deux angles, pris enſemble, valent l'angle extérieur ADG. Donc l'angle AED ou AEG, eſt la moitié de l'angle ADG.

Par la même raiſon, l'angle DEB ſera la moitié de l'angle GDB. Donc l'angle total AEB égalera la moitié de l'angle ADB. Donc ſa meſure ſera la moitié de l'arc AGB.

XV.

L'ANGLE AEB étant meſuré, pour ſçavoir s'il eſt égal à chacun des

autres angles qui ont leur ſommet dans le même ſegment, il faut examiner ſi un de ces angles pris à volonté, AFB par exemple, eſt auſſi la moitié de l'angle au centre ADB. On s'en aſſurera facilement, en tirant la droite FDG par le centre. Car alors on verra que l'angle AFB ſera compoſé de deux autres AFD, DFB, qui ſeront, par l'Article précédent, les moitiés des angles ADG, GDB, d'où l'on conclura que l'angle total AFB ſera la moitié de l'angle ADB ; & en appliquant le même raiſonnement à tous les angles ACB, AEB, AFB, qui ont leurs ſommets à la circonférence, & qui s'appuient ſur le même arc AGB, on pourra conclure que ces angles ſont égaux entr'eux, ainſi que nous l'avions ſoupçonné dans l'Article précédent.

FIG. 3.

Tous les angles dont le ſommet eſt à la circonférence, & qui s'appuient ſur le même arc, ſont égaux, & ont, pour commune meſure, la moitié de l'arc ſur lequel ils s'appuient.

FIG. 1.

XVI.

PARMI les différens angles qui ont leur ſommet dans l'arc ACEFB, il y

en a qui pourroient d'abord ne pas paroître compris dans la démonſtration
Fig. 4. précédente ; ce ſont des angles AFB, tels, que la droite FDG tirée par le centre, paſſe hors de l'angle ADB. Cependant, en remarquant toûjours que l'angle DFA eſt la moitié de l'angle GDA, & l'angle DFB, la moitié de l'angle GDB, on verra que l'angle AFB, excès de l'angle DFB ſur l'angle DFA, ſera, dans ce cas, la moitié de l'angle ADB, excès de l'angle GDB ſur GDA.

XVII.

PAR les figures dont nous nous ſommes ſervis, il ſembleroit auſſi que la démonſtration précédente ne conviendroit qu'aux ſegmens plus grands qu'un demi-cercle ; mais il eſt aiſé de voir qu'un angle quelconque, tel que
Fig. 5. AFB, qui auroit ſon ſommet dans un ſegment plus petit qu'un demi-cercle, ſeroit toûjours compoſé de deux autres

DFB, DFA, moitiés des angles BDG, ADG, & par conſéquent, que cet angle AFB auroit pour meſure la moitié des deux arcs BG, AG, c'eſt-à-dire, la moitié de l'arc AGB.

XVIII.

APRE'S avoir vu que dans un même ſegment, les angles AEB, AFB, AHB, ſuppoſés à la circonférence, ſont tous égaux, on eſt tenté de chercher ce que devient l'angle AQB, lorſque ſon ſommet ſe confond avec le point B, extrémité de la baſe AB. Cet angle s'évanoüiroit-il alors? Mais il ne paroît pas poſſible que ſans s'être reſſerré par dégrés, il vienne tout-à-coup à s'anéantir. On ne voit pas quel ſeroit le point au-delà duquel cet angle ceſſeroit d'exiſter: comment donc parviendra-t-on à en trouver la meſure? c'eſt une difficulté qu'on ne peut réſoudre, ſans recourir à la Géometrie de l'infini, dont tous les hommes ont, FIG. 6.

au moins, une idée imparfaite, qu'il ne s'agit que de développer.

Obſervons d'abord, que quand le point E s'approche de B, en devenant F, H, Q, &c., la droite EB s'accourcit continuellement, & que l'angle EBA qu'elle fait avec la droite AB, s'ouvre de plus en plus. Mais quelque courte que devienne la ligne QB, l'angle QBA n'en ſera pas moins un angle, puiſque pour le rendre ſenſible, il ne faudroit que prolonger la ligne accourcie QB vers R; en doit-il être de même, lorſque la ligne QB, à force de diminuer, s'eſt réduite enfin à zero? qu'eſt devenuë alors ſa poſition? qu'eſt devenu ſon prolongement?

Il eſt évident qu'il n'eſt autre choſe que la droite BS, qui touche le cercle en un ſeul point B, ſans le rencontrer en aucun autre endroit, & que, pour cette raiſon, on appelle tangente.

La tangente au cercle, eſt la ligne qui

De plus, il eſt clair que pendant que la ligne EB diminuë continuellement

juſqu'à s'anéantir à la fin, la droite AE, qui devient ſucceſſivement AF, AH, AQ, &c. s'approche toûjours de AB, & qu'elle ſe confond enfin avec elle. Donc l'angle à la circonférence AEB, après être devenu AFB, AHB, AQB, devient en dernier lieu l'angle ABS, fait par la corde AB, & par la tangente BS, & cet angle, qu'on appelle angle au ſegment, doit toûjours conſerver la propriété d'avoir pour meſure la moitié de l'arc AGB.

ne le touche qu'en un point.

L'angle au ſegment eſt celui qui eſt fait par la corde & par la tangente.

Sa meſure eſt la moitié de l'arc du ſegment.

Quoique cette démonſtration ſoit peut-être un peu abſtraite pour les Commençans, j'ai cru à propos de la donner, parce qu'il ſera très-utile à ceux qui voudront pouſſer leurs études juſqu'à la Géométrie de l'infini, de s'être accoutumé de bonne heure à de pareilles conſidérations.

Si cependant les Commençans trouvoient cette démonſtration au-deſſus de leurs forces, il eſt aiſé de les mettre à portée d'en découvrir une autre, en

leur expliquant la principale propriété des tangentes.

XIX.

FIG. 7. CETTE propriété eſt qu'une tangente au cercle dans un point quelconque B, doit être perpendiculaire au diamétre IDB, qui paſſe par ce point. Car comme la courbure du cercle eſt ſi uniforme qu'un diamétre quelconque IDB, le partage en deux demi-cercles IAB, IOB, égaux & également ſitués à l'égard de ce diamétre, il faut que les deux parties BS, BH, de la tangente commune à ces deux demi-cercles, ſoient auſſi également ſituées à l'égard de ce diamétre: or cela ne ſçauroit être ſans que IDB ne ſoit perpendiculaire à la tangente HBS.

La tangente eſt perpendiculaire au diamétre qui paſſe par le point d'attouchement.

XX.

DE LA on verra facilement pourquoi l'angle au ſegment ABS, a pour meſure la moitié de l'arc AGB.

Car

Car l'angle ADB, joint avec les deux angles égaux DAB, DBA, fait (I. Part. Art. LXIV.) deux droits. Donc la moitié de l'angle ADB, joint avec l'angle DBA fait un droit. Mais l'angle DBA, ajoûté avec l'angle ABS, donne auſſi un droit. Donc l'angle ABS eſt égal à la moitié de l'angle ADB. Donc la meſure de ABS ſera la moitié de l'arc AGB.

XXI.

LA ſeconde démonſtration que nous venons de donner de cette propriété du cercle, que l'angle ABS a pour meſure la moitié de l'arc AGB, fournit la ſolution du problême ſuivant.

Décrire ſur AB un ſegment de cercle capable de l'angle donné L ; c'eſt-à-dire, un ſegment AFB, dans lequel tous les angles AFB à la circonférence, ſoient égaux à l'angle L. FIG. 8. & 9.

Ce que c'eſt qu'un ſegment capable d'un angle donné.

Pour réſoudre ce problême, il faudra faire en A & en B, les angles BAS *Maniére de faire un ſegment capable*

d'un angle donné.

& ABS, chacun égal à l'angle L, & élever ſur AS & ſur BS, les deux perpendiculaires AD & BD; leur rencontre D ſera le centre de l'arc cherché AFB.

Car par l'Article XIX. les droites BS & AS ſeront les tangentes du cercle dont le centre eſt D, & le rayon AD ou BD, puiſque BD ou AD ſont perpendiculaires à BS & à AS. De plus, par l'Article précédent, l'angle ABS a pour meſure la moitié de AGB, & par l'Article XV. les angles tels que AFB, ſont auſſi meſurés par la moitié de AGB. Donc ces angles AFB ſeront égaux à ABS; c'eſt-à-dire, à l'angle L, ainſi qu'on le demandoit.

XXII.

La découverte des propriétés des ſegmens de cercle, que nous venons d'expliquer, eſt due vraiſemblablement à la ſimple curioſité des Géométres; mais il en a été de cette découverte,

comme il en eſt tous les jours de beaucoup d'autres, ce qu'on ne croyoit pas d'abord utile, le devient par la ſuite; on a fait dans la pratique, des applications fort heureuſes des propriétés du cercle, que nous venons de démontrer. Je ne donnerai qu'une ſeule de ces applications; on la trouvera dans la ſolution du problême ſuivant, qui eſt ſouvent néceſſaire dans la Geographie.

FIG. 10.

Trouver la diſtance d'un lieu à trois autres dont les poſitions ſont connues.

A, B, C, ſont trois lieux dont on connoît les diſtances reſpectives AB, BC, AC; il s'agit de ſçavoir à quelle diſtance de ces lieux, eſt un point D, d'où l'on peut les voir tous les trois; mais d'où l'on ne peut ſortir pour opérer ſur le terrain.

FIG. 10. & 11.

On commencera par tracer ſur le papier trois points *a*, *b*, *c*, qui ſoient ſitués entr'eux de la même maniére que les trois points A, B, C, c'eſt-à-dire en langage géométrique, qu'on fera le triangle *abc* ſemblable au triangle ABC.

Ayant obſervé enſuite avec le demi-cercle la grandeur des angles ADB, BDC, on fera ſur *ab*, le ſegment de cercle *bda*, capable de l'angle ADB, & ſur la droite *bc*, le ſegment de cercle *bdc*, capable de l'angle BDC, la rencontre *d* de ces deux ſegmens déſignera ſur le papier la poſition du lieu D, c'eſt-à-dire, que les lignes *da*, *db*, *dc*, ſeront en même proportion à l'égard de *ab*, *bc*, *ac* ; que les diſtances cherchées DA, DB, DC, à l'égard des diſtances données AB, BC, AC : ce qui n'a pas beſoin de démonſtration, après ce qu'on a vû ſur les figures ſemblables.

XXIII.

On pourroit facilement faire voir que la pratique a tiré bien d'autres ſecours des propriétés du cercle, qu'on vient de démontrer ; mais il eſt plus à propos de paſſer à d'autres propriétés du cercle, qui ont été tirées des pré-

cédentes, & qui ont eu auſſi leur utilité.

Pour procéder par ordre à la découverte de ces propriétés, nous commencerons par remarquer que deux angles quelconques EDC, EBC, qui s'appuient ſur le même arc EC, étant égaux, il s'enſuit que les triangles DAE, BAC, ont les ~~mêmes~~ angles égaux; c'eſt-à-dire, (I. Part. Art. XXXIX.) que ces triangles ſont ſemblables. Pl. X. Fig. 1.

Car par la même raiſon que l'angle EDC eſt égal à l'angle EBC, l'angle DEB ſera égal à l'angle DCB; & quant aux angles DAE, BAC, ils ſeront viſiblement égaux; ſoit parce qu'ils ſont faits des mêmes lignes, ſoit parce que deux triangles, dont l'un a deux angles reſpectivement égaux, à deux angles de l'autre, ont auſſi néceſſairement le 3me. angle égal (I. Part. Art. XXXVIII.)

Pour reconnoître plus facilement enſuite dans les triangles ADE, ABC, les propriétés générales des triangles

semblables, nous appliquerons le triangle DAE sur le triangle BAC, en posant AD sur AB, & AE sur AC, afin que DE soit paralléle à BC. Nous nous rappellerons alors,

Fig. 1. & 2.

1°. Que si deux triangles ADE, ABC, sont semblables, les quatre côtés AC, AE, AB, AD, sont en proportion; (I. Part. Art. XXXIX.)

2°. Que dans toute proportion, le produit des extrêmes est égal au produit des moyens (II. Part. Art. VIII.) & nous conclurons de-là, que le rectangle ou le produit de AC par AD, est égal au rectangle de AE par AB; propriété du cercle, très remarquable, & qu'on peut énoncer ainsi : Si dans un cercle on tire à volonté deux droites qui se coupent, le produit des deux parties de la premiere est égal au produit des deux parties de l'autre.

Deux cordes se coupant dans un cercle, le rectangle des parties de l'une est égal au rectangle des parties de l'autre.

XXIV.

Fig. 3. Si les deux droites BE, DC, se

coupoient perpendiculairement, & que l'une de ces deux droites fût un diamétre DC, il eſt clair que les deux parties AB, AE, de l'autre droite BE, ſeroient égales entr'elles ; de ſorte que la propriété précédente s'énonceroit ainſi dans ce cas particulier. Si ſur le diamétre DC d'un cercle, on éleve une perpendiculaire quelconque AB, le quarré de cette perpendiculaire ſera égal au rectangle de AD par AC.

Le quarré d'une perpendiculaire quelconque au diamétre d'un cercle, eſt égal au rectangle des deux parties du diamétre.

XXV.

Il arrive ſouvent qu'on a beſoin de changer un rectangle en un quarré, l'Article précédent en fournit un moyen facile : ſoit ACFE le rectangle propoſé, on prolongera AC en D, de ſorte que AD ſoit égal à AE, & l'on décrira le demi-cercle DBC, dont le diamétre ſoit DC. Prolongeant enſuite le côté EA juſqu'à ce qu'il rencontre le demi-cercle, on aura AB pour le côté

Changer un rectangle en un quarré.

Fig. 4.

du quarré cherché ABGH, égal au rectangle donné AFCE.

XXVI.

On propoſe ſouvent un problême qui n'eſt que celui que nous venons de réſoudre, préſenté autrement. C'eſt de trouver une ligne qui ſoit moyenne proportionnelle entre deux lignes données; on entend alors par la moyenne proportionnelle, la ligne qui eſt auſſi grande, par rapport à la plus petite des deux lignes données, qu'elle eſt petite par rapport à la plus grande; c'eſt-à-dire, que ſi AB, par exemple, eſt moyenne proportionnelle entre AD & AC, on pourra dire que AD eſt à AB, comme AB eſt à AC. Or il eſt bien aiſé de voir que ce problême eſt le même que le précédent, puiſque (II. Part. Art. VIII.) le produit de AD par AC, c'eſt-à-dire, le rectangle de ces deux lignes, ſera égal au produit

Ce que c'eſt qu'une moyenne proportionnelle entre deux lignes droites.

de AB par AB, c'eſt-à-dire, au quarré de AB.

Donc lorſqu'on voudra trouver une moyenne proportionnelle entre deux lignes données, on changera le rectangle de ces deux lignes en un quarré dont le côté ſera la ligne cherchée. Maniére de la trouver.

XXVII.

On peut encore trouver une moyenne proportionnelle entre deux lignes, d'une autre maniére qui ſuit de la proprieté du cercle expliquée dans l'Article XIII. Suppoſons que AC ſoit la plus grande des deux lignes données, & AD la plus petite, on élevera DB perpendiculairement ſur AC, & le point B, où elle rencontrera le demi-cercle ABC, tracé ſur le diamétre AC, donnera la ligne AB, moyenne proportionnelle entre AD & AC. Car en tirant BC, il eſt clair que le triangle ABC ſera rectangle en B. Donc (I. Part. Art. XXXVIII.) ce triangle ſera ſemblable Autre maniére. Fig. 5.

au triangle ABD, puiſque ces deux triangles ont d'ailleurs l'angle A de commun ; mais ſi les triangles ADB & ABC ſont ſemblables, ils ont leurs côtés proportionnels. Donc AD eſt à AB, comme AB à AC. Donc AB eſt moyenne proportionnelle entre AD & AC.

XXVIII.

Changer une figure rectiligne en un quarré.

SI on vouloit changer une figure rectiligne quelconque en un quarré, il ne faudroit, pour ramener ce problême à l'Article XXV. que faire de cette figure un rectangle ; ce qui ſeroit fort facile, à cauſe que les figures rectilignes ne ſont que des aſſemblages de triangles, que chaque triangle eſt la moitié d'un rectangle qui a même baſe & même hauteur, & que tous les rectangles provenus des triangles, ne feront plus qu'un ſeul rectangle, en leur donnant à tous une hauteur commune (II. Part. Art. VI.).

XXIX.

LES figures dont les contours renfermeront des arcs de cercle, pourront auſſi être changées en quarrés, lorſqu'on aura meſuré par pratique la longueur des arcs dont elles ſeront compoſées ; car on pourra alors changer ces figures, ainſi que les rectilignes, en rectangles ; on aura recours pour cela aux Articles IX. & X. où l'on a appris à meſurer toutes ſortes de figures circulaires.

XXX.

ON tire encore de la propriété du cercle, expliquée dans l'Article XXIV. une méthode bien facile pour faire un quarré qui ſoit à un quarré donné, en raiſon donnée, problême que nous avions promis dans l'Article XXII. de la ſeconde Partie.

Faire un quarré qui ſoit à un autre en raiſon donnée.

Suppoſons, par exemple, qu'on ſe propoſe de faire un quarré qui ſoit au

FIG. 6. quarré ABCD, comme la ligne M à la ligne N ; on diviſera (I. Part. Art. XLI.) le côté CB au point E, de maniére que CB ſoit à BE comme la ligne N à la ligne M ; menant enſuite la paralelle EF à AB, le rectangle ABEF, aura la même ſuperficie que le quarré demandé ; donc il ne s'agira plus que de changer ce rectangle en un quarré.

XXXI.

FIG. 7. & 8.

Faire un poligone qui ſoit en raiſon donnée avec un poligone ſemblable.

SI on veut faire un poligone HIK LM, qui ſoit à un poligone ſemblable ABCDE, dans la raiſon de la ligne X à la ligne Y, on commencera par faire ſur le côté AB du poligone donné ABCDE, le quarré ABGF, enſuite on cherchera un autre quarré HIOQ, qui ſoit au quarré ABGF, comme la ligne X à la ligne Y. Et alors décrivant ſur le côté HI de ce quarré un poligone HIKLM, ſemblable au premier ABCDE, ce nouveau poli-

gone ſera celui qu'on demande. La raiſon en eſt bien facile à trouver, ſi on ſe rappelle (I. Part. Art. XLVIII.) que les figures ſemblables ſont entr'elles comme les quarrés de leurs côtés homologues.

XXXII.

Faire un cercle, qui ſoit à un autre cercle en raiſon donnée.

Si on vouloit faire un cercle dont l'aire fût à celle d'un cercle donné, comme X à Y, il faudroit conſtruire un quarré, qui fût au quarré du rayon de ce premier cercle, comme X à Y, & le côté de ce nouveau quarré ſeroit le rayon du cercle demandé.

XXXIII.

Voici encore une propriété du cercle tirée de celle qui a fourni les problêmes précédens.

Si d'un point pris hors d'un cercle, on tire deux

Si d'un point A, pris hors d'un cercle, on méne à volonté deux droites ABC, ADE, qui coupent, chacune, la circonférence en deux points, FIG. 9.

lignes qui le traverſent, les rectangles de ces deux droites par leurs parties extérieures ſeront égaux.

& qu'on méne les droites CD, BE, les triangles ACD, AEB, ſeront ſemblables, puiſque l'angle A eſt commun aux deux triangles, & qu'ils ont d'ailleurs les angles à la circonférence C & E, égaux. Or de ce que les triangles CAD, EAB, ſont ſemblables, il s'enſuit que les quatre lignes AB, AD, AE, AC, ſont en proportion, & par conſéquent, que le rectangle des deux droites AB, AC, eſt égal au rectangle des deux droites AD, AE, ce qui peut s'exprimer ainſi. Si d'un point quelconque A, pris hors d'un cercle, on tire à volonté deux lignes droites AC, AE, qui traverſent ce cercle, le rectangle de la droite AC par ſa partie extérieure AB, ſera égal au rectangle de la droite AE par ſa partie extérieure AD.

XXXIV.

LORSQUE la droite qui part du point A, au lieu de couper le cercle, ne fait ſimplement que le toucher,

ainſi que AF, la propriété précédente ſe change en celle-ci: le quarré d'une tangente AF, eſt égal au rectangle produit par la ſecante quelconque AE, & par ſa partie extérieure AD. Ce qui eſt bien aiſé à démontrer. Car regardant la droite AF qui touche le cercle, comme une ligne qui le couperoit en deux points infiniment proches, les lignes AB, AC, ne ſont alors qu'une même ligne AF, & au lieu du rectangle de AB, par AC, on a le quarré de AF.

Le quarré de la tangente eſt égal au rectangle de la ſecante par ſa partie extérieure.

XXXV.

La propoſition démontrée dans l'Article précédent, en nous apprenant la valeur du quarré de la tangente AF, ne nous apprend pas à tirer cette tangente du point donné A. Pour la tirer, on ſe reſſouviendra, (Art. XIX.) que le rayon FG eſt perpendiculaire à la tangente FA. Ainſi il ne s'agit que de trouver, ſur le cercle donné, le point F, tel que l'angle AFG

FIG. 10.

D'un point donné hors d'un cercle, lui mener une tangente.

ſoit droit. Donc, en décrivant ſur AG un demi cercle, le point où il coupera le cercle FKO ſera (Article XIII.) le point cherché F.

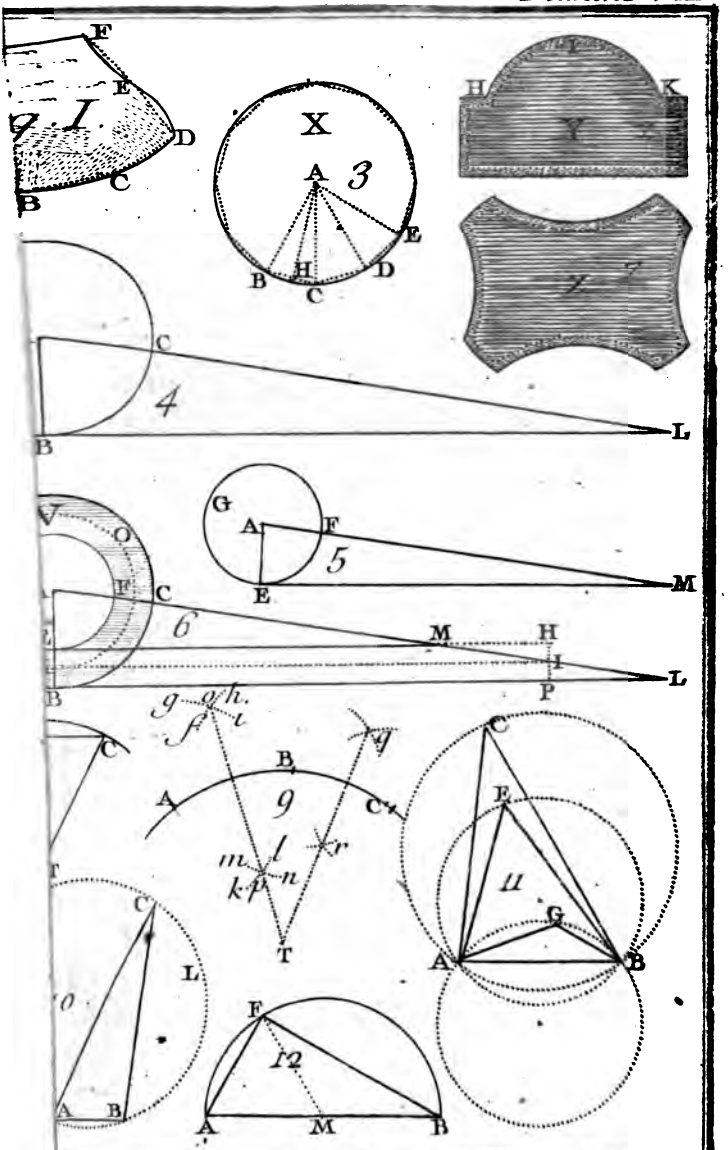
F
E
D
C
B
X
A
3
E
B
H
D
C
Y
H
K
Z
4
C
B
L
G
A
F
5
E
M
V
O
F
C
6
M
H
I
L
B
P
g
h.
f
i
q
C
B
A
9
C
m
l
r
k
n
T
C
L
A
B
F
12
A
M
B
C
E
11
G
A
B

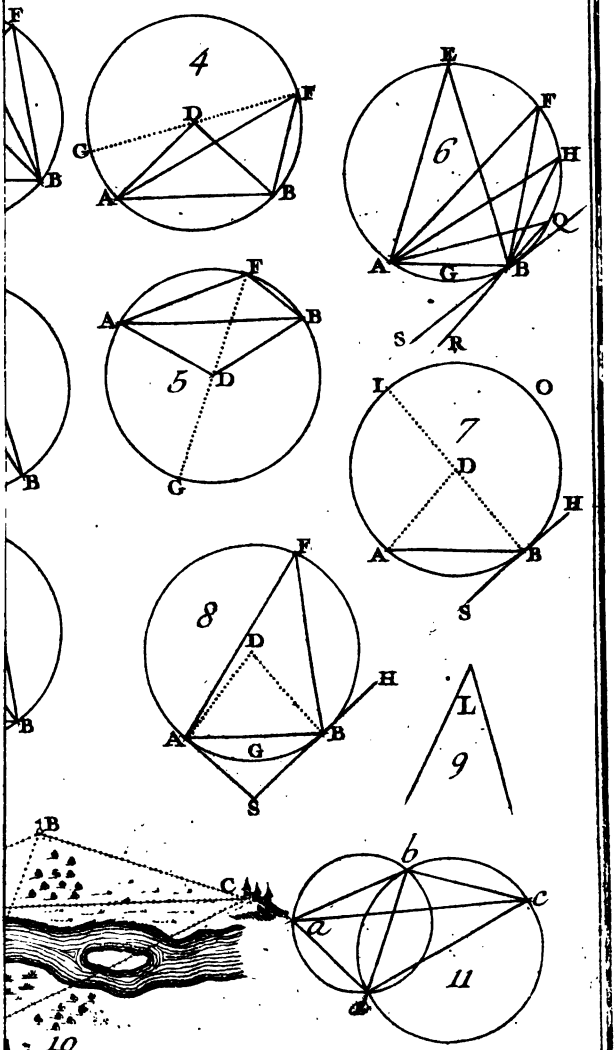
F
B
4
D
F
G
A
B
E
6
F
H
Q
A
G
B
S
R
F
A
B
5
D
G
B
I
O
7
D
H
A
B
S
F
8
D
H
A
G
B
S
L
9
B
C
10
b
a
c
11

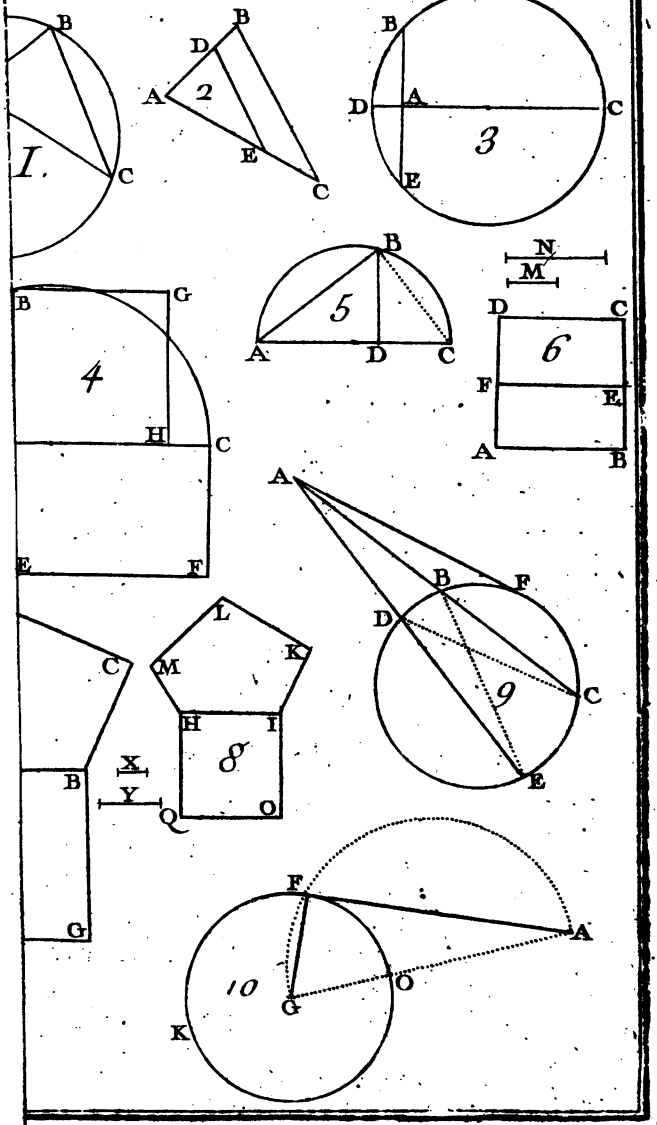
B
I.
C
B
D
A
2
E
C
B
D
A
C
3
E
B
5
A
D
C
N
M
D
C
6
F
E
A
B
B
G
4
H
C
E
F
A
B
F
D
9
C
E
L
K
M
C
H
I
8
O
X
Y
Q
B
G
F
A
10
O
G
K

ELEMENS DE GEOMETRIE.

QUATRIEME PARTIE.

De la maniére de meſurer les ſolides, & leurs ſurfaces.

LEs Principes que nous avons établis dans les trois premieres Parties de cet Ouvrage, pourroient nous ſuffire pour réſoudre des problêmes beaucoup plus difficiles que ceux que nous allons nous propoſer ; mais il eſt plus dans l'ordre

que nous avons ſuivi précédemment ; de paſſer maintenant à la meſure des ſolides ; c'eſt-à-dire, des étendues terminées, qui ont à la fois trois dimenſions, longueur, largeur, & profondeur.

Cette recherche a été, ſans doute, un des premiers objets qui ait pû fixer l'attention des Géométres. On aura voulu ſçavoir, par exemple, combien il y avoit de pierres de taille dans un mur dont la hauteur AD, la largeur AB, & la profondeur ou épaiſſeur BG étoient connuës. On ſe ſera propoſé de déterminer la quantité d'eau que contenoit un foſſé, ou un réſervoir ABCD ; on aura voulu trouver la ſolidité d'une Tour, d'une obéliſque, d'une maiſon, d'un clocher, &c.

PL. XI. FIG. 1. FIG. 2.

Pour traiter les figures qui ont les trois dimenſions, de la même maniére que nous avons traité de celles qui n'en ont que deux, nous commencerons par examiner les ſolides qui ſont terminés par des plans.

Nous n'aurons pas beſoin de parler de la maniére de meſurer les ſurfaces de ces corps, elles ne peuvent être que des aſſemblages de figures rectilignes ; & par conſéquent, leur meſure dépend de ce qui a été dit dans la premiere Partie.

I.

POUR meſurer la ſolidité des corps, il eſt naturel de les rapporter tous au ſolide le plus ſimple, ainſi que pour meſurer les ſurfaces, on les a toutes rapportées au quarré. Or le ſolide le plus ſimple, c'eſt le cube, qui eſt en effet, en ſolide, ce que le quarré eſt en ſuperficie ; c'eſt-à-dire que c'eſt un eſpace tel que *abcdefgh*, dont la longueur, la largeur & la profondeur ſont égales, ou, ce qui revient au même, c'eſt une figure terminée par ſix faces égales qui ſont des quarrés.

Le cube eſt une figure ſolide terminée par ſix quarrés. C'eſt la meſure commune des ſolides.

FIG. 3.

On appelle côté du cube le côté des quarrés qui lui ſervent de faces.

Par un pied cube, on entend un cube, dont le côté eſt d'un pied; de même un pouce cube, eſt un cube dont le côté eſt d'un pouce, &c.

II.

Les ſolides qu'on a le plus communément à meſurer, ſont des figures ABCDEFGH terminées par ſix faces rectangles ABCD, CBGF, CFED, DEHA, GFEH, ABGH. On appelle ces ſolides des Parallelipipédes, parce que leurs faces oppoſées conſervant dans tous leurs points la même diſtance l'une de l'autre, ſont dites parallèles, de même que les lignes ont auſſi été nommées paralléles, lorſqu'elles conſervoient par tout la même diſtance.

FIG. 1.

Le parallelipipéde, eſt un ſolide terminé par ſix rectangles.

Les plans paralléles, ſont ceux qui conſervent toûjours entr'eux la même diſtance.

III.

Or ſi on ſe propoſe de meſurer des ſolides de cette eſpéce, l'analogie de ce problême avec celui où il s'eſt agi de la meſure des ſurfaces rectangles,

donnera un moyen facile de le réſoudre.

Meſure du parallelipipede.

On commencera par méſurer ſéparément la longueur AD, la largeur AB & la profondeur BG de la figure propoſée, ſoit en pieds, ſoit en pouces, &c. on multipliera enſuite l'un par l'autre les trois nombres qu'on aura trouvés, & le produit qui viendra de cette multiplication exprimera combien le parallelipipéde contiendra de pieds cubes, ou de pouces cubes, &c. ſuivant que les dimenſions auront été meſurées en pieds, ou en pouces, &c. Pour mieux montrer comment ſe fait cette opération, nous allons en donner un exemple.

Suppoſons que la longueur AD ſoit de 6 pieds, la largeur AB de 5, & la profondeur BG de 4, le rectangle ABCD (I. Part. Art. XI.) aura 6 fois 5 ou 30 pieds quarrés. Si on imagine enſuite que les lignes BG, CF, DE, AH, qui meſurent toutes également la

profondeur du ſolide, ſoient partagées chacune en quatre parties égales, & que par les points de diviſion correſpondans, on faſſe paſſer autant de plans paralléles les uns aux autres, ces plans diviſeront le parallelipipéde propoſé, en quatre autres parallélipipédes, qui auront chacun un pied de profondeur, & qui ſeront tous égaux & ſemblables. Or l'inſpection ſeule de la figure fait voir que le premier de ces parallelipipédes contient 30 pieds cubes, puiſque ſa face extérieure ABCD contient 30 pieds quarrés. Donc le ſolide total ABCDEFGH contiendra 4 fois 30 ou 120 pieds cubes.

IV.

Nous ne nous arrêterons point à expliquer les différents moyens qu'on peut employer dans la pratique pour conſtruire des parallelipipédes, parce que ces moyens ſont, pour la plûpart, ſi aiſés à trouver, qu'il n'y a perſonne

qui ne les puiſſe imaginer. Mais nous donnerons la formation ſuivante du parallelipéde, qui eſt plus utile à conſidérer que toutes les autres.

Les parallelipipédes ſont produits par un rectangle qui ſe meut parallélement à lui-même.

On conçoit qu'un quarré ou un rectangle ABGH ſe meuve parallélement à lui-même, enſorte que ſes quatre angles A, B, G, H, parcourent chacun une des quatre lignes AD, BC, GF, HE, perpendiculaires au plan du rectangle ABGH.

V.

La ligne perpendiculaire à un plan, eſt celle qui ne panche d'aucun côté ſur ce plan.

Il eſt preſque inutile d'avertir que par une ligne perpendiculaire à un plan, nous entendons une ligne qui ne panche d'aucun côté ſur ce plan, & de même, qu'un plan qui ne panche pas plus d'un côté que d'un autre ſur un ſecond plan, eſt dit perpendiculaire à ce ſecond plan; ces deux définitions ſont analogues à celle que nous avons donnée d'une ligne perpendiculaire à une autre ligne.

Il en eſt de même du plan perpendiculaire à un autre plan.

VI.

FIG. 4. OR il ſuit de-là que la ligne AB, qui eſt perpendiculaire au plan X doit être perpendiculaire à toutes les lignes AC, AD, AE, &c. qui partent du pied A de cette ligne, & qui ſont dans ce plan. Car il eſt évident que ſi elle panchoit ſur une de ces lignes, elle ſeroit inclinée vers quelque côté du plan. Donc elle ne lui ſeroit pas perpendiculaire.

La ligne qui eſt perpendiculaire à un plan, eſt perpendiculaire à toutes les lignes de ce plan, qui partent du point où elle tombe.

VII.

POUR ſe repréſenter d'une façon bien ſenſible, comment la ligne AB peut être perpendiculaire à toutes les lignes qui partent de ſon extrémité A, on n'aura qu'à faire une figure en relief de la maniére ſuivante.

On conſtruira de quelque matiere unie & facile à plier comme du carton, un rectangle FGDE, partagé en deux parties égales par la droite AB, FIG. 5.

perpendiculaire aux côtés ED, FG; on pliera enſuite ce rectangle, en ſorte que le pli ſoit le long de la ligne AB, & on le portera tout plié ſur le plan X. Fig. 6. Il eſt évident que quelle que ſoit l'ouverture qu'on donne aux deux parties FBAE, GBAD du rectangle plié EAD GBF, ces deux parties reſteront toûjours appliquées ſur le plan X, ſans que la ligne AB change de poſition par rapport à ce plan, cette droite AB ſera donc perpendiculaire à toutes les lignes qui partent de ſon pied, & qui ſeront dans le plan X, puiſque les côtés AE, AD du rectangle plié s'appliqueront ſucceſſivement ſur chacune de ces lignes par le mouvement que nous venons de décrire.

VIII.

On tire de la conſtruction précédente une pratique bien commode, pour élever d'un point donné ſur un plan, une ligne perpendiculaire à ce

plan, ou pour abbaiſſer d'un point pris hors d'un plan, une ligne qui ſoit perpendiculaire à ce plan. Car que le point propoſé ſoit dans le plan, en A par exemple, ou qu'il ſoit hors du plan, comme en H, on pourra toûjours faire avancer le rectangle EFBGDA ſur le plan X, juſqu'à ce que le pli AB touche le point donné, & AB deviendra, dans les deux cas, la perpendiculaire demandée.

FIG. 7.

Pratique ſimple pour élever, ou pour abbaiſſer des lignes perpendiculaires à des plans.

IX.

IL ſuit auſſi de-là qu'une ligne AB ſera perpendiculaire à un plan X, toutes les fois qu'elle ſera perpendiculaire à deux lignes AE & AD de ce plan. Car alors AB pourra être regardée comme le pli d'un rectangle dont l'un des côtés pliés s'appliqueroit ſur AE, & l'autre ſur AD. Or ce pli ne pourroit manquer d'être perpendiculaire au plan X.

Une ligne ſera perpendiculaire à un plan, ſi elle eſt perpendiculaire à deux lignes de ce plan, qui partent du point où elle tombe.

X.

SI on veut élever ſur une ligne

quelconque KL, un plan perpendiculaire au plan X dans lequel eſt cette ligne, on pourra ſe ſervir encore, pour cela, du rectangle plié GBFEAD. Car il ne faudra que poſer ſur la ligne KL le côté AD d'une des parties ADGB de ce rectangle plié, & le plan de cette partie ADGB, ſera celui qu'on demande.

Maniére d'élever un plan perpendiculaire à un autre.

XI.

ON verra facilement que ſi on poſoit un troiſiéme plan Y ſur les deux côtés FB & BG du même rectangle plié, ce plan Y ſeroit encore perpendiculaire à la ligne AB, & par conſéquent, paralléle au plan X.

FIG. 8.

Donc ſi à un plan X on éleve trois perpendiculaires EF, AB, DG, d'égale longueur, le plan Y, qui paſſera par les trois points F, B, G, ſera paralléle au plan X.

Mener un plan paralléle à un autre.

Et qui ne ſoient pas poſées en ligne droite

XII.

LORSQUE deux plans ne ſeront

pas paralléles, il ſera facile de connoître l'angle qu'ils feront entr'eux, en ſe ſervant encore de notre rectangle plié. Pour en venir à bout, nous appliquerons l'une des deux parties ABGD de ce rectangle, ſur le plan X ; il eſt évident que l'angle EAD, ou ſon égal FBG, meſurera l'inclinaiſon du plan EABF ſur le plan DABG. Or ſi on remarque que AB eſt la commune ſection de ces plans, & que EA & AD ſont chacune perpendiculaires à AB, on en tirera ſans peine la régle ſuivante.

FIG. 9.

Meſurer l'inclinaiſon d'un plan ſur un autre.

Deux plans qui ne ſont pas paralléles étant donnés, il faut commencer par trouver la ligne droite, qui eſt leur commune ſection ; enſuite d'un point quelconque de cette ligne, on lui menera deux perpendiculaires, qui ſoient chacune dans un de ces plans, & l'angle que feront entr'elles ces deux perpendiculaires, meſurera l'angle que les deux plans donnés font entr'eux.

XIII.

COMME on s'apperçoit, ſans peine, que pendant le mouvement de ABFE, autour du pli AB, la droite AE, dont l'extrêmité E décrit un arc de cercle ED, ne ſort jamais d'un plan EAHD, perpendiculaire au plan X, & que l'inclinaiſon de la droite EA ſur le plan X n'eſt autre choſe que l'angle EAD, on découvre encore très-facilement que l'inclinaiſon d'une droite quelconque EA ſur le plan X, eſt méſurée par l'angle EAH fait entre cette ligne & la ligne AD, qui paſſe par A & par le point H du plan X, où tombe la perpendiculaire EH, abbaiſſée ſur ce plan, d'un point quelconque E de la droite AE.

Meſurer l'inclinaiſon d'une ligne ſur un plan.

XIV.

L'INSPECTION ſeule de la figure dont on vient de ſe ſervir dans l'Article précédent, fournit un nouveau

moyen d'abbaiſſer d'un point E, hors d'un plan X, une ligne EH, perpendiculaire à ce plan.

Nouvelle maniére d'abbaiſſer une ligne perpendiculaire à un plan donné.

Ayant tiré une ligne quelconque BAS, dans le plan X, on abbaiſſera du point donné E la perpendiculaire EA à cette ligne. Cela fait, du point A, où cette perpendiculaire tombe, on élevera dans le plan X la perpendiculaire AD à AB; & abbaiſſant enſuite du point donné E, à la droite AD, la perpendiculaire EH, cette ligne ſera la perpendiculaire au plan X.

XV.

Seconde maniére d'élever une ligne perpendiculaire à un plan donné.

On tire de-là une ſeconde façon d'élever à un plan X, une perpendiculaire MN, d'un point M donné ſur ce plan.

Ayant abbaiſſé d'un point quelconque E pris hors du plan X, la perpendiculaire EH à ce plan, on ménera par le point donné M la droite MN

qui ſoit parallele à HE, & elle ſera la perpendiculaire au plan X.

XVI.

APRE'S le parallelipipéde, le ſolide le plus ſimple eſt le priſme droit. C'eſt une figure ABCDEFGHIKLM dont les deux baſes oppoſées & paralléles ſont deux poligones égaux & tellement placés que les côtés GF, FE, &c. de l'un ſoient paralléles aux côtés BC, CD, &c. de l'autre, & dont les autres faces ſont des rectangles ABGH, BGFC, &c.

FIG. 10.

Le priſme droit eſt une figure ſolide, dont les deux baſes oppoſées ſont deux poligones égaux, & les autres faces des rectangles.

XVII.

LES Géométres ſuppoſent ces figures, formées ainſi que les parallélipédes, par une baſe ABCDLM, qui ſe meut parallélement à elle-même, de façon que ſes angles A, B, &c. ſuivent des lignes perpendiculaires au plan de la baſe.

Formation des priſmes droits.

XVIII.

POUR diſtinguer les différentes eſpéces de priſmes droits, on ajoûte le nom du poligone qui leur ſert de baſe. Le priſme exagonal, par exemple, eſt celui dont la baſe eſt un exagone.

XIX.

Deux priſmes qui ont des baſes égales, ſont en même raiſon que leurs hauteurs.

POUR trouver la maniére de meſurer toutes ſortes de priſmes droits, on obſervera d'abord que de deux priſmes droits, dont les baſes ſeroient égales, celui qui auroit une plus grande hauteur ſeroit plus grand en ſolidité dans la même raiſon que ſa hauteur ſeroit plus grande.

XX.

Deux priſmes, qui ont la même hauteur, ſont en même raiſon que leurs baſes.

ON remarquera enſuite que deux priſmes droits, qui auroient la même hauteur, mais dont l'un auroit une baſe qui contiendroit un certain nombre de fois la baſe de l'autre, ſeroient entr'eux dans

dans la même raiſon que leurs baſes. La vérité de cette propoſition s'apperçoit facilement en faiſant attention à la formation des priſmes expliquée dans l'Article XVII.

Que *abcdefghiklm*, & ABCDEFGH IKLM ſoient les deux priſmes qui ont la même hauteur, & que la baſe *abcdlm* du plus petit, ſoit, par exemple, le quart de la baſe ABCDLM. Puiſque les deux priſmes ſont produits par les mouvemens de ces deux baſes, il s'enſuit qu'un plan quelconque, qui ſera paralléle au plan où ſont les deux baſes, coupera dans les deux priſmes, deux poligones, dont chacun ſera égal à la baſe du priſme où il ſera coupé. C'eſt-à-dire, que la ſection du grand priſme ſera toûjours quadruple de celle du petit. Donc le priſme ABCDEFG HIKLM pourra être regardé comme compoſé de tranches toutes quadruples de celle du priſme *abcdefghiklm*, & par conſéquent, la ſolidité du premier Fig. 10. & 11.

prisme sera quadruple de celle du second.

XXI.

APRE'S ces deux remarques, il ne sera pas difficile de former la régle suivante pour mesurer tous les prismes droits.

La mesure du prisme droit est le produit de sa base par sa hauteur.

On mesurera d'abord en pieds quarrés, ou en pouces quarrés, &c. l'aire de la base du prisme proposé, ensuite on multipliera le nombre qu'on aura trouvé, par le nombre des pieds, ou des pouces, &c. que contiendra la hauteur du prisme, & le produit donnera le nombre de pieds cubes, ou de pouces cubes, &c. contenus dans le prisme proposé, & sera, par conséquent, sa mesure.

XXII.

Les prismes obliques différent des prismes droits en ce que les faces qui sont des rectan-

LE nom de prisme se donne encore aux solides (Fig. 13.) qui ont deux bases poligones égales, ainsi que les précédens, mais dont les autres faces

ſont des parallélogrammes, au lieu d'être des rectangles. Pour diſtinguer ces nouveaux priſmes de ceux dont nous venons de parler, on les appelle des priſmes obliques, par oppoſition aux autres qu'on avoit nommés des priſmes droits.

gles dans ceux-ci, ſont des parallélogrammes dans ceux là.

XXIII.

ON conçoit les priſmes obliques formés par une baſe *abcki*, qui ſe meut parallélement à elle-même, & de telle façon que ſes angles ſuivent des lignes paralléles *ag*, *bh*, *cd*, &c. qui s'élevent hors du plan de la baſe, & qui ne lui ſont point perpendiculaires.

Formation des priſmes obliques.

FIG. 13.

XXIV.

L'ANALOGIE qu'il y a entre cette formation & la formation des priſmes droits dont nous avons parlé (Article XVII.) donne facilement la meſure de la ſolidité des priſmes obliques; car ſi on imagine à côté d'un priſme

FIG. 12. & 13. oblique *abcdefghik*, un priſme droit ABCDEFGHIK, qui ait la même baſe, & que ces deux priſmes ſoient renfermés entre deux plans paralléles, on verra que la ſolidité de ces deux corps ſera abſolument la même.

Car, ſi par un point quelconque P de la hauteur, on fait paſſer un plan paralléle à la baſe, les ſections NOPQR, *nopqr*, que ce plan formera dans chacun des deux priſmes, pourront être regardées comme les baſes égales AB CKI, *abcki*, arrivées en NOPQR, *nopqr*, par le mouvement qui forme ces deux priſmes; & ainſi ces deux ſections ſeront des poligones égaux.

Or ſi toutes les tranches imaginables qu'on peut former dans ces deux priſmes par de mêmes plans coupans, ſont égales, il faudra que les aſſemblages de ces tranches, c'eſt-à-dire, les priſmes, ſoient égaux auſſi.

Les priſmes obliques ſont égaux aux

On énonce ordinairement ainſi cette propoſition : Les priſmes obliques ſont

égaux aux prismes droits, lorsqu'ils ont même base & même hauteur. On appelle la hauteur du prisme la perpendiculaire abbaissée du plan supérieur sur l'inférieur, ou sur son prolongement.

primes droits lorsqu'ils ont même base & même hauteur.

XXV.

Et comme les parallélipipédes doivent être mis au nombre des prismes, on étendra ce que nous venons de dire des prismes aux parallélipipédes obliques; c'est-à-dire, aux figures *abcdefgh**, produites en faisant mouvoir un quarré, un rectangle, ou même un parallélogramme, de maniére que ses quatre angles suivent des lignes paralléles, qui s'élevent obliquement de la base. Ainsi, le parallélipipéde oblique *abcdefgh*, sera égal au parallélipipéde droit ABCDE FGH, si la base *abgh* est la même, ou a la même superficie que la base AB GH, & si la perpendiculaire abbaissée du plan *dcfe* sur le plan *abgh* est égale à la perpendiculaire abbaissée du

Il en est de même des parallélipipédes obliques à l'égard des parallélipipédes droits.

* Pl. XII. Fig. 1. & 2.

plan DCFE ſur le plan ABGH.

XXVI.

AYANT vû ce qui concerne les parallélipipédes & les priſmes, examinons maintenant les pyramides; c'eſt-
FIG. 3. à-dire, les corps tels que ABCDEFG, renfermés par un certain nombre de triangles qui partent tous d'un même ſommet A, & qui ſe terminent à une baſe poligone quelconque BCDEFG. Il eſt néceſſaire de conſidérer ces ſortes de ſolides, non-ſeulement parce qu'on en rencontre dans les bâtimens & dans les autres ouvrages à conſtruire, mais parce que tous les ſolides terminés par des plans, ſont des aſſemblages de pyramides, ainſi que les figures rectilignes ſont des aſſemblages de triangles. Il ne faut, pour s'en aſſurer, que tirer d'un point pris où l'on voudra dans l'intérieur du corps propoſé, des lignes à tous les angles de ce corps.

XXVII.

ON diſtingue les pyramides les unes des autres, ainſi que les priſmes, par le nom de la figure qui leur ſert de baſe.

XXVIII.

LORSQUE la pyramide a pour baſe une figure réguliere, & que ſon ſommet répond perpendiculairement au centre H de ſa baſe, ainſi que dans la Fig. 3. la pyramide eſt alors appellée pyramide droite; elle eſt nommée, au contraire, pyramide oblique, lorſque le ſommet n'eſt pas perpendiculairement au-deſſus du centre, ainſi que dans la Fig. 5.

XXIX.

POUR découvrir la maniére de meſurer toutes ſortes de pyramides, tant droites qu'obliques, nous commencerons par faire ſur ces figures, quelques

réfléxions générales, auxquelles on eſt conduit par la connoiſſance des propriétés des priſmes.

Lorſqu'on fait attention à l'égalité des priſmes qui ont même baſe & même hauteur, il eſt naturel qu'on ſe rappelle que les parallélogrammes ſont auſſi égaux entr'eux, lorſqu'ils ont ces mêmes conditions, & qu'il en eſt encore de même des triangles. Ces trois vérités ſe préſentant à la fois à l'eſprit, l'analogie doit porter à croire que les propriétés qui ſont communes aux paralellogrammes & aux triangles, peuvent l'être auſſi aux priſmes & aux pyramides; on doit donc ſoupçonner que les pyramides qui ont même baſe & même hauteur, ont la même ſolidité.

XXX.

Les réfléxions ſuivantes confirmeront ce ſoupçon.

FIG. 4. & 5. Soient ABCDE, *abcde*, deux pyramides, dont les hauteurs AH, *ah*,

ſoient les mêmes, & dont les baſes ſoient deux figures égales, par exemple, deux quarrés égaux BCDE, *bcde*; ſi on conçoit que ces deux pyramides ſoient coupées par une infinité de plans paralléles à leurs baſes, on imaginera, ſans peine, que ces coupes de pyramide donneront des quarrés égaux IKLM, *iklm*, & par conſéquent, que les deux pyramides peuvent être regardées comme des aſſemblages d'un même nombre de tranches, qui dans ces deux pyramides ſeront égales chacune à ſa correſpondante. Donc, conclura-t-on, la ſomme des tranches eſt la même, de part & d'autre : c'eſt-à-dire, que les deux pyramides ont la même ſolidité.

Si les baſes des deux pyramides étoient d'autres poligones réguliers ou irréguliers BCDEF, *bcdef*, égaux entr'eux, il n'y a perſonne qui ne penſât encore, que toutes les tranches IKLMN, *iklmn*, de l'une & de l'autre de ces deux pyramides devroient FIG. 6. & 7.

être égales entr'elles ; & qui n'en conclut, par conſéquent, que les pyramides auroient toûjours la même ſolidité, lorſquelles auroient même baſe & même hauteur.

XXXI.

TOUT cela eſt aiſé à imaginer après la démonſtration que nous avons donnée, de l'égalité des priſmes qui ont même hauteur ; cependant la ſimilitude entre la tranche quelconque IKLMN d'une pyramide & la baſe BCDEF, & l'égalité des tranches IKLMN & *iklmn*, ſont de ces propoſitions, qui, quoique ſenſibles pour tout le monde, ont, à la rigueur, beſoin d'une démonſtration ; or pour trouver cette démonſtration, on eſt obligé d'entrer dans pluſieurs conſidérations ſur la ſimilitude des figures ſolides.

XXXII.

REPRENONS la pyramide ABC DEF, & ſuppoſons-la coupée par un

plan IKLMN, paralléle à la baſe, nous allons démontrer que la ſection, ou la coupe formée par ce plan dans la pyramide, eſt un poligone parfaitement ſemblable au poligone BCDEF ; & que la pyramide AIKLMN eſt elle-même entiérement ſemblable à la pyramide ABCDEF, c'eſt-à-dire, que les angles que forment toutes les lignes de ces deux figures ſont reſpectivement égaux, & que tous les côtés de la petite pyramide auront le même rapport entr'eux que ceux de la grande.

En quoi conſiſte la ſimilitude de deux pyramides.

XXXIII.

COMMENÇONS par obſerver que ſi deux plans X & Y ſont paralléles, & que deux lignes quelconques ALD, AME, partant d'un même point A, traverſent ces deux plans, les droites LM, DE, qui joindront les points L, M ; D, E, ſeront paralléles. La raiſon en eſt, que ſi ces deux lignes n'étoient pas paralléles, elles ſe

FIG. 8.

rencontreroient quelque part, étant prolongées; mais ſi elles ſe rencontroient, les plans dans leſquels elles ſont, & dont elles ne peuvent pas ſortir, en les prolongeant autant qu'il ſeroit néceſſaire, ſe rencontreroient donc auſſi. Donc ils ne ſeroient pas paralléles, ainſi qu'on le ſuppoſe.

XXXIV.

SI on ſuppoſe donc que le plan IKLMN ſoit paralléle au plan BCD EF, il s'enſuivra que toutes les lignes ML, LK, KI, IN, NM, ſeront paralléles aux lignes ED, DC, CB, BF, FE, & par conſéquent, que les triangles ALM, AKL, AIK, &c. ſeront ſemblables aux triangles ADE, ACD, ABC, &c. Si on prend l'un des côtés de ces triangles, AM par exemple, pour commune meſure, ou pour échelle de tous les côtés de la petite pyramide, pendant que le côté correſpondant AE ſervira d'échelle aux côtés de la grande,

FIG. 6.

on verra, ſans peine, que les côtés ML, LK, KI, &c. du poligone IKLMN ſeront proportionnels aux côtés ED', DC, C B, &c. du poligone BCDEFG.

On verra auſſi facilement que tous les angles IKL, KLM, &c. ſeront reſpectivement égaux aux angles BCD, CDE, puiſque les premiers ſeront formés par des lignes paralléles aux côtés des ſeconds. Donc les deux poligones IKLMN, BCDEF, ſeront ſemblables.

XXXV.

Or les côtés AM, AL, AK, &c. étant proportionnels aux côtés AE, AD, AC, &c. & les angles ALM, ALK, &c. reſpectivement égaux aux angles ADE, ADC, &c. à cauſe de la reſſemblance des triangles ALM, ADE; ALK, ADC, &c. les deux pyramides AIKLMN, ABCDEF, ſeront entiérement ſemblables.

XXXVI.

ENFIN, ſi on méne du point A, AH, perpendiculaire au plan ſur lequel eſt conſtruit le poligone BCDEF, & que Q ſoit le point où cette perpendiculaire rencontre le plan du poligone IKLMN, il eſt clair que les droites AQ, AH, hauteurs des deux pyramides AIKLMN, ABCDEF, ſeront entr'elles dans la même raiſon que les côtés homologues AM, AE ; AL, AD, &c. ou, ce qui revient au même, que ſi on prend les hauteurs AQ, AH, pour les échelles des deux pyramides, les côtés AM, AL, &c. contiendront autant des parties de AQ, que les côtés AE, AD, &c. contiendront des parties de AH.

XXXVII.

QU'ON revienne maintenant à conſidérer les deux pyramides ABCDEF, *abcdef*, à la fois, on verra que les deux

Fig. 6. & 7.

tranches IKLMN, *iklmn*, étant ſemblables aux baſes BCDEF, *bcdef*, qui ſont les mêmes, elles ſeront ſemblables entr'elles. On verra, de plus, que ces deux tranches ſeront égales entr'elles, puiſque les échelles de ces deux figures ſont les droites égales AQ, *aq*, hauteurs des pyramides AIKLMN, *aiklmn*.

Donc, ſans connoître quelle eſt la ſolidité des pyramides, on ſçait déja, avec certitude, que ſi elles ont même hauteur & même baſe, elles ſont égales, ainſi que nous l'avions ſoupçonné (Article XXIX.)

Les pyramides qui ont même baſe & même hauteur, ſont égales.

XXXVIII.

SI les baſes des deux pyramides, au lieu d'être les mêmes, étoient ſeulement égales en ſuperficie, les pyramides ſeroient encore égales en ſolidité; car ſoit *abcdef**, & *arſt*, deux pyramides qui ont la même hauteur *ah*, ſi on coupe ces deux pyramides par

Deux pyramides ſont encore égales, ſi ayant la même hauteur, leurs baſes, ſans être des polygones ſemblables, ſont égales en ſuperficie.

*FIG. 7. & 9.

un plan quelconque paralléle à la baſe, il eſt évident qu'il y aura même rapport de l'aire *iklmn* à l'aire *bcdef*, que de l'aire *uxy* à l'aire *rſt*; puiſque *iklmn*, *bcdef*, étant (Article XXXIV.) des figures ſemblables, elles ne différent (I. Part. Art. XLVIII.) que par leurs échelles *aq*, *ah*, &c. & que les figures *uxy*, *rſt*, étant auſſi ſemblables, elles ne différent, non plus, que par leurs échelles, qui ſont encore les lignes *aq*, *ah*.

Mais ſi les baſes *rſt*, *bcdef*, ſont égales en ſuperficie, leurs parties proportionnelles *uxy*, *iklmn*, ſeront donc égales. Donc toutes les tranches des deux pyramides *arſt*, *abcdef*, auront la même étenduë. Donc leurs aſſemblages; c'eſt-à-dire, les pyramides mêmes, ſeront égales en ſolidité.

XXXIX.

Les pyramides qui ont même hau-

SI la baſe *bcdef* de la premiere pyramide contenoit un certain nombre de fois

fois la baſe *rſt*, la ſolidité de la premiere pyramide *abcdef*, contiendroit le même nombre de fois la ſolidité de la ſeconde *arſt*.

teur, ſont entr'elles comme leurs baſes.

Car, en ce cas, la baſe *bcdef* étant diviſée en pluſieurs parties, dont chacune fût égale à la baſe *rſt*, on pourroit concevoir la pyramide *abcdef*, comme compoſée de pluſieurs autres pyramides, qui auroient pour baſes les parties de *bcdef*. Or chacune de ces nouvelles pyramides ſeroit égale à la ſeconde pyramide *arſt*, ſelon que nous l'avons prouvé dans l'Article précédent. Donc, &c.

Que ſi la baſe *rſt* n'étoit pas contenuë exactement dans la baſe *bcdef*, mais que ces deux baſes euſſent une meſure commune X, on diviſeroit chacune des deux baſes *bcdef*, *rſt*, en des parties égales à X, & on verroit que les deux pyramides *abcdef*, *arſt*, ſeroient compoſées d'autant de pyramides nouvelles, toutes égales entr'elles,

que les deux baſes contiendroient de parties X. Donc les pyramides *abcdef*, *arſt*, ſeroient entr'elles comme leurs baſes.

Et ſi les baſes étoient incommenſurables, on feroit toûjours voir, malgré cela, que les pyramides ſeroient entr'elles en même raiſon que leurs baſes, en ſe ſervant d'une induction ſemblable à celle qu'on a employée dans un pareil cas (II. Part. Art. XXVIII.) lorſqu'il s'agiſſoit de comparer les figures dont les côtés étoient incommenſurables; c'eſt-à-dire, qu'on diminueroit à l'infini la meſure X, de façon qu'elle pût être cenſée meſure commune, tant de la baſe *rſt*, que de la baſe *bcdef*.

XL.

AYANT découvert que les pyramides qui ont même hauteur ſont en même raiſon que leurs baſes, on doit ſentir que la meſure de leur ſolidité

ne renferme plus que très-peu de difficulté.

Car il ne s'agit plus que de ſçavoir meſurer une ſeule pyramide, pour meſurer toutes les autres. Suppoſons, par exemple, que nous ſçachions meſurer la pyramide ABCDE, & qu'on nous demande la meſure de la pyramide AS TVXY, qui n'a ni la même baſe, ni la même hauteur que la premiere : nous commencerons par faire une pyramide ſemblable à la pyramide ABCDE, & qui ait la hauteur de la pyramide ASTVXY, ce qui ſera bien aiſé ; car il ſuffira (Article XXXV.) de prolonger les côtés AB, AC, AD, AE, & de les couper par le plan LMNO, dont la diſtance AG au ſommet A, ſoit égale à la hauteur AQ. FIG. 10. & 11.

Cela fait, puiſque par la ſuppoſition nous ſçavons meſurer la pyramide ABCDE, il eſt évident que nous ſçaurons meſurer auſſi la pyramide ALMNO, qui lui eſt ſemblable ; car quelles que

ſoient les opérations par leſquelles on meſure la pyramide ABCDE, on pourra toûjours faire les mêmes opérations pour meſurer la pyramide ſemblable ALMNO, à cela près qu'on emploiera dans celle-ci une échelle différente.

Suppoſons donc que la pyramide ALMNO ſoit meſurée, ſa meſure déterminera auſſi celle de la pyramide propoſée ASTVXY, car par l'Article précédent, ces deux pyramides ſont entr'elles comme leurs baſes LMNO, STVXY, & nous avons d'ailleurs enſeigné dans la ſeconde Partie à trouver le rapport de ces deux baſes.

XLI.

PUISQU'IL ne s'agit donc que de meſurer une ſeule pyramide, pour ſçavoir meſurer toutes les autres pyramides imaginables, propoſons-nous-en une extrêmement ſimple, qu'on peut
FIG. 12. former en tirant des quatre angles A, B, C, H, d'une des faces d'un cube

ABCDEFGH, quatre lignes au point O, centre de ce cube; c'eſt-à-dire, le point également diſtant de A, D, B, E, &c.

On voit, ſans peine, que cette pyramide eſt la ſixiéme partie du cube, puiſqu'on peut décompoſer le cube en ſix pyramides pareilles, en prenant chaque face pour baſe. Or la valeur du cube eſt le produit de la hauteur AF par la baſe ABCH. Donc, pour avoir la valeur de la pyramide, il faudra partager le produit de AF par ABCH, en ſix parties égales, ou, ce qui revient au même, il faudra multiplier la ſixiéme partie de la hauteur AF par la baſe ABCH, & comme la ſixiéme partie de la hauteur AF eſt le tiers de la hauteur OL de la pyramide OABCH, puiſque ſa hauteur OL eſt la moitié du côté du cube, il s'enſuit que la meſure de la pyramide OABCH eſt le produit du tiers de ſa hauteur par ſa baſe.

XLII.

SUPPOSONS préſentement qu'on ait à meſurer une pyramide quelconque
FIG. 13. OKMNSTV, on imaginera un cube dont le côté AB ou AF ſoit double de la hauteur OL de la pyramide propoſée, & on concevra dans ce cube, une pyramide OABCH, dont la pointe ſoit au centre, & qui ait pour baſe une des faces ABCH du cube. Cette nouvelle pyramide aura même hauteur que la premiere; & par conſéquent, (Article XXXIX.) la ſolidité de OABCH ſera à celle de OKMNSTV, comme la baſe ABCH à la baſe KMNSTV; or par l'Article précédent, le produit du tiers de la hauteur commune OL par la baſe ABCH, eſt la valeur de la pyramide OABCH; donc le produit du tiers de la même hauteur commune OL par la baſe KMNSTV, ſera la valeur de la pyramide propoſée OKMNSTV.

La ſolidité d'une pyramide quelconque

Et par-là, on découvre ce théorême

général, qu'une pyramide a pour mesure le produit de sa base par le tiers de sa hauteur.

conque, est le produit de sa base par le tiers de sa hauteur.

XLIII.

Comme nous avons vû (Article XXI.) que la solidité d'un prisme, est le produit de la base par la hauteur, il est clair, par l'Article précédent, que les pyramides seront toûjours le tiers des prismes qui auront même base & même hauteur.

La pyramide est le tiers du prisme qui a même base & même hauteur.

XLIV.

Après avoir mesuré tous les solides terminés par des plans, nous allons chercher le chemin qu'on peut avoir suivi pour mesurer les solides dont les surfaces sont courbes. Et comme nous n'avons traité dans la troisiéme Partie que des figures, dont les contours ne renferment d'autres courbes que le cercle, nous n'examinerons que les corps dont les courbures sont circulaires.

Dans l'examen de ces corps, nous aurons deux objets, la meſure de leurs ſurfaces & celle de leurs ſolidités ; car ces ſurfaces étant, ou entiérement courbes, ou en partie planes & en partie courbes, nous ne pourrons renvoyer leur meſure à la premiere Partie, ainſi que nous l'avons fait des corps terminés par des plans.

XLV.

PL.XIII. FIG. 1. & 2.

Le plus ſimple de tous les ſolides courbes, eſt le cylindre ; c'eſt un corps comme ABCDEF, dont les deux baſes ABC, DEF, ſont deux cercles égaux & paralléles joints par une ſurface courbe qu'on peut imaginer formée par un plan plié autour de leurs circonférences.

Le cylindre eſt un ſolide terminé par deux baſes oppoſées & paralléles, qui ſont des cercles égaux, & par un plan plié autour de leurs circonférences.

FIG. 1.

Lorſque les deux cercles ſont placés de façon que le centre G du premier réponde perpendiculairement au-deſſus du centre H du ſecond, le cylindre ſe nomme droit.

On le diſtingue en cylindre droit, & en cylindre oblique.

Le cylindre ſe nomme au contraire

oblique, lorſque la ligne tirée par les deux centres G& H, eſt oblique à l'égard des plans ABC, DEF. FIG. 2.

XLVI.

LA formation géométrique de ces ſolides, analogue à celles des priſmes & des parallélipipédes, dont il a été parlé (Article XVII.) conſiſte à faire mouvoir un cercle parallélement à lui-même, en ſorte que tous ſes points décrivent des lignes droites paralléles qui s'élévent hors du plan de ce cercle. Formation du cylindre.

XLVII.

ON parviendra, de la maniére ſuivante, à meſurer la ſurface d'un cylindre droit; ce qui eſt ſouvent néceſſaire dans la pratique.

Les deux circonférences ABC, DEF, étant partagées chacune en un même nombre de parties égales, les points de diviſion répondant les uns au-deſſus des FIG. 1.

autres, qu'on tire des lignes droites qui joignent les angles correſpondans des deux poligones réguliers que donne cette opération. Il eſt clair qu'on aura alors un priſme dont la ſuperficie ſera compoſée d'autant de rectangles renfermés dans la ſurface du cylindre, qu'il y a de côtés renfermés dans chacune des circonférences ABC, DEF. Or tous ces rectangles ayant chacun leur hauteur égale à AD, leur meſure totale ſera le produit de la hauteur AD par la ſomme de toutes les baſes, c'eſt-à-dire, par le contour du poligone renfermé ou inſcrit dans le cercle DEF ou ABC.

Mais comme à meſure que le nombre des côtés de ce poligone ſera grand, le contour du poligone approchera, de plus en plus, d'être égal à la circonférence, & la ſurface du priſme d'être égale à celle du cylindre ; il s'enſuit que ſi on imagine que le nombre des côtés de ce poligone devienne infini, le priſme ne

La ſurface courbe d'un cylindre

différera pas du cylindre. La ſurface courbe du cylindre droit eſt donc égale à un rectangle dont la hauteur ſeroit AD, & la baſe une ligne droite égale à la circonférence DEF.

droit eſt égale à un rectangle qui a la même hauteur, & dont la baſe eſt égale à ſa circonférence.

Cette propoſition peut ſervir à trouver, par exemple, ce qu'il faudroit d'étoffe pour envelopper un pilier cylindrique, ou pour tapiſſer le dedans d'une Tour ronde.

XLVIII.

QUANT à la ſurface du cylindre oblique, on ne peut pas la meſurer de la même maniére, parce qu'au lieu de rectangles, on auroit des parallélogrammes de hauteurs différentes. Ce n'eſt que par des méthodes très-compliquées & très-difficiles, qu'on eſt parvenu à connoître ſeulement la valeur approchée de cette ſurface ; & les problémes de ce genre ne ſont pas du reſſort des élémens.

XLIX.

A l'égard de la ſolidité des cylindres, ſoit droits, ſoit obliques, rien ne ſera plus aiſé que de la trouver. Car il eſt évident que tout ce que nous avons dit des priſmes, conviendra aux cylindres, ſi on regarde les cylindres comme les derniers des priſmes qu'on peut leur inſcrire.

Les cylindres qui ont même baſe & même hauteur, ſont égaux en ſolidité.

Ainſi les cylindres qui auront même baſe & même hauteur, ſeront égaux en ſolidité.

L.

La meſure d'un cylindre quelconque eſt le produit de ſa baſe par ſa hauteur.

Et la meſure d'un cylindre quelconque conſiſtera dans le produit de ſa baſe par ſa hauteur.

LI.

Le cone eſt le ſolide courbe le plus ſimple après le cylindre ; c'eſt une figure comme ABGDE, dont la baſe eſt un cercle, & dont la ſurface eſt com-

FIG. 3. & 4.

posée d'une infinité de lignes droites, qui aboutissent toutes du sommet A à la circonférence BCDE de ce cercle. On peut regarder ce solide comme une pyramide dont la base seroit un cercle.

Le cone est une espéce de pyramide, dont la base est un cercle.

LII.

Si, comme dans la figure 3, la pointe ou sommet A du cone répond perpendiculairement au-dessus du centre O de la base, le cone est nommé cone droit; & il est nommé oblique, si le sommet répond à un point différent du centre de la base, ainsi que dans la figure 4.

On le distingue en cone droit & en cone oblique.

LIII.

Pour mesurer la surface d'un cone droit ABCDE, on le regardera comme la derniere des pyramides qu'on peut lui inscrire; c'est-à-dire, qu'on divisera la circonférence de sa base BC DE, ainsi qu'on a fait de la circonférence du cylindre, en une infinité de petits côtés, & tirant des lignes de tous

Fig. 3.

les angles au ſommet du cone A ; on trouvera que la ſuperficie conique eſt un aſſemblage d'une infinité de petits triangles iſocéles, dont la hauteur eſt égale au côté AB du cone, & dont toutes les baſes ajoûtées enſemble, ſont égales à la circonférence BCDE ; d'où il eſt aiſé de voir que la meſure de cette ſurface ſe trouvera en multipliant la moitié de AB par la circonférence BCDE.

La ſurface d'un cone droit ſe meſure en multipliant la moitié de ſon côté par la circonférence de ſa baſe.

LIV.

Si on ſe rappelle maintenant que la ſurface d'un ſecteur de ce cercle eſt égale (III. Part. Art. X.) eſt égale au produit de l'arc de ce ſecteur par la moitié du rayon, on verra que pour envelopper le cone droit ABCDE d'une ſurface pliante comme du carton, &c. il faudroit prendre un ſecteur de cercle, dont le rayon fût égal à AB, & dont l'arc fût égal à la circonférence BCDE.

Le développement d'un cone eſt un ſecteur de cercle.

LV.

LORSQUE le cone eſt oblique, la meſure de ſa ſurface, ainſi que celle du cylindre oblique, eſt fort difficile à connoître même d'une maniére approchée, & c'eſt encore un problême au-deſſus des Elémens.

LVI.

QUANT à la ſolidité des cones, ſoit droits, ſoit obliques, on les regardera comme les dernieres des pyramides qu'on pourroit leur inſcrire, & on pourra leur appliquer en conſéquence ce qu'on a dit des pyramides en général.

Ainſi les cones qui auront même baſe & même hauteur, ſeront égaux.

Les cones qui ont même baſe & même hauteur ſont égaux.

LVII.

ET la ſolidité d'un cone quelconque ſera le produit de la baſe par le tiers de ſa hauteur.

Leur meſure eſt le produit de la baſe par le tiers de la hauteur.

LVIII.

Fig. 5. & 6. On a quelquefois beſoin de meſurer un corps comme BCDEFGH, qu'on appelle cone tronqué ; c'eſt la partie qui reſte d'un cone AFGH, lorſqu'on en a retranché un autre cone plus petit ABCDE, par une ſection paralléle à la baſe FGH. Il eſt évident que la meſure de ce ſolide ſera la différence entre les ſolidités des deux cones ABCDE, AFGH.

LIX.

Quant à la ſurface d'un cone tronqué, s'il a été formé par la ſection d'un cone droit, on peut trouver quelque choſe de plus ſimple que de meſurer ſéparément les ſurfaces des deux cones, & de retrancher l'une de l'autre, on emploiera pour cela la méthode ſuivante, qui eſt aiſée à imaginer, après ce que nous avons dit, (Article LIV.)

Fig. 6. & 7. Suppoſons que ALR ſoit le ſecteur qu'il

faudroit conſtruire pour pouvoir envelopper le cone AFGH; en décrivant du centre A & de l'intervalle AM égal à AB, un arc MP, il eſt clair que l'eſpace MPRL ſeroit une portion de couronne propre à envelopper la ſurface cherchée du cone tronqué. Or ſi on imagine que les deux circonférences, dont MP & LR ſont des arcs ſemblables, ſoient achevées, on aura une couronne entiére, dont la meſure (III. Part. Art. VIII.) ſera le produit de ML, égal à BF par la circonférence dont AN eſt le rayon, N étant le milieu de ML. Donc la portion de couronne MPRL, ou la ſurface du cone tronqué BCDE FGH qui lui eſt égale, ſe meſurera en multipliant ML par l'arc NQ; ou, ce qui revient au même, en multipliant BF par la circonférence IKL, que donne la ſection du ſolide propoſé par un plan paralléle à la baſe, & qui paſſe par le milieu I du côté BF.

Maniére de meſurer la ſurface d'un cone tronqué.

LX.

La ſphére eſt le corps dont la ſurface a tous ſes points également éloignés du centre.

LE dernier des corps ſolides que nous traiterons, ſe nomme ſphére ou globe ; c'eſt celui dont la ſurface a tous ſes points également éloignés d'un même point qui en eſt le centre. On a ſouvent beſoin de meſurer cette ſurface ; on voudra ſçavoir, par exemple, ce qu'il faudroit de dorure pour une boule, combien on devroit prendre de lames de plomb pour couvrir un dôme, &c.

LXI.

FIG. 8. SOIT X la ſphére dont on veut meſurer la ſuperficie, il eſt évident qu'on peut concevoir ce ſolide comme produit par la révolution d'un demi-cercle AMB, autour de ſon diamétre AB.

Suppoſons d'abord qu'au lieu de la demi-circonférence, nous ayons un poligone régulier d'un nombre infini

de petits côtés, ou, ſi on veut, d'un très-grand nombre de côtés ; & propoſons-nous ſeulement de meſurer la ſurface Z, produite par la révolution de ce poligone. Il ſera facile de paſſer enſuite de la meſure de cette ſurface à la meſure de la ſurface de la ſphére, ainſi que nous avons paſſé de la meſure des figures rectilignes à celle du cercle. FIG. 91

LXII.

POUR meſurer la ſurface du ſolide Z, examinons la petite partie de cette ſurface, que produit un ſeul côté quelconque M*m* du poligone inſcrit, pendant qu'il tourne autour du diamétre AB. Il eſt évident que ce côté M*m* décrit dans ce mouvement une ſurface de cone tronqué V. Car en prolongeant la droite *m*M juſqu'à ce qu'elle rencontre en T le diamétre ou axe de révolution AB, ſi cette ligne TM*m* tourne en même tems que le demi-cercle AMB, elle PL. XIV. FIG. 1.

décrira visiblement un cone droit ; dont le sommet sera T, & la base, le cercle décrit par le point *m* ; en sorte que la surface V, produite par le mouvement de M*m*, sera une tranche de ce cone, enfermée entre les plans decé rcles que les points M & *m* décrivent en tournant. Mais selon que nous l'avons vû (Article LIX.), la surface V est égale à un rectangle dont M*m* est la hauteur, & la base, une ligne égale à la circonférence KLO, décrite par le point K, milieu de M*m*. Donc la surface produite par la révolution du poligone est égale à la somme d'autant de rectangles de cette nature, qu'il y a de côtés dans ce poligone, tels que M*m*.

Or comme tous les côtés M*m*, hauteurs de ces rectangles, sont supposés égaux, on pourroit regarder la surface cherchée comme un rectangle total qui auroit la hauteur M*m*, avec une base égale à la somme de toutes les circon-

férences telles que KL, c'eſt-à-dire, décrites par le point de milieu de chaque petit côté.

Mais le poligone inſcrit dans le demi cercle AMB, ayant un très-grand nombre de côtés, la petiteſſe de la hauteur M*m*, & la grandeur exceſſive de la baſe, rendent ce rectangle inconſtructible.

Pour remédier à cet inconvénient, il eſt bien aiſé d'imaginer de changer tous ces petits rectangles en d'autres qui auroient toûjours une même hauteur, non pas imperceptible comme M*m*, mais aſſez grande pour que chacune des baſes devînt fort petite; moyennant cela, l'addition de toutes ces petites baſes ne fera plus qu'une longueur comparable à la hauteur.

LXIII.

VOYONS donc ſi nous ne pourrons point changer de cette ſorte nos petits rectangles. Suppoſons d'abord, pour

ſimplifier le problême, que nos rectangles, au lieu d'avoir pour baſes des lignes égales aux circonférences KL,
FIG. 2. n'ayent pour baſes que les rayons KI de ces circonférences. Il ne nous ſera pas difficile enſuite d'appliquer ce que nous aurons trouvé pour ces derniers rectangles, à ceux dont nous avons affaire.

Il s'agit donc de trouver un rectangle qui ait pour meſure le produit de M*m* par KI, & qui ait pour hauteur quelque ligne incomparablement plus grande que M*m*, & qui ſoit la même en quelque endroit que ſoit placé ce petit côté M*m*. Choiſiſſons, par exemple, la droite CK, qui eſt l'apothéme du poligone dont M*m* eſt le côté, & qui, par conſéquent, eſt toûjours la même, à quelque côté du poligone qu'elle appartienne. Nous devons donc chercher une ligne dont le produit par CK ſoit égal au produit de KI par M*m*; c'eſt-à-dire (II. Part. Art. VII.) qu'il faut

trouver une quatriéme proportionnelle aux trois lignes KC, KI, M*m*. Or nous ſçavons que c'eſt par le moyen des triangles ſemblables, qu'on découvre des lignes proportionnelles dans les figures, il faut donc former des triangles ſemblables, dont les côtés homologues ſoient les lignes en queſtion; c'eſt ce qu'on fera en abbaiſſant MR, perpendiculaire à *mp*. On aura alors les triangles M*m*R, KIC, qui ſeront ſemblables; car ils ſeront chacun rectangle, l'un en R, l'autre en I, & de plus, ils auront les angles *m*MR, IKC égaux entr'eux, à cauſe que le premier fait un angle droit avec l'angle M*m*R, égal à l'angle MKI, & que l'autre IKC fait auſſi un droit avec MKI.

De-là on peut conclure facilement que KC eſt à KI, comme M*m* à MR; c'eſt-à-dire, que MR eſt la quatriéme proportionnelle cherchée; ou, ce qui revient au même, que le rectangle de KC par MR ou par P*p*, eſt égal

au rectangle de M*m* par KI.

Mais comme le rectangle que nous nous étions d'abord proposés de changer, n'étoit pas celui de M*m* par KI, que c'étoit celui de M*m* par la circonférence dont KI est le rayon; nous nous rappellerons ici que les circonférences sont entr'elles comme les rayons; ce qui fait que l'égalité qui est entre le rectangle de M*m* par KI, & celui de P*p* par CK, entraîne nécessairement l'égalité du rectangle de M*m* par la circonférence de KI, au rectangle de P*p*, par la circonférence de CK. Car on sent facilement que si deux rectangles sont égaux, & que conservant leurs hauteurs, on augmente proportionnellement leurs bases, ces rectangles demeureront encore égaux.

LXIV.

AYANT découvert dans les deux Articles précédens que toutes les petites surfaces coniques tronquées, telle

que V (Fig. 1.) ſont égales à autant de rectangles qui auroient tous pour hauteur une même droite égale à la circonférence, dont KC ſeroit le rayon, & dont chacun auroit pour baſe une petite droite P*p*, correſpondant à chaque côté M*m*; on en déduira qu'une ſomme quelconque de ces petites ſurfaces, priſe depuis A juſqu'en *p*, par exemple, ſera égale à un rectangle qui auroit pour hauteur une droite égale à la circonférence de CK, & pour baſe la ſomme de toutes les lignes telles que P*p*, priſes depuis A juſqu'en *p*, c'eſt-à-dire, la droite A*p*.

Donc pour avoir la ſurface totale produite par la révolution du poligone entier, il faudra faire un rectangle dont la baſe ſoit égale à la circonférence décrite du rayon CK, & qui ait une hauteur égale au diamétre AB.

LXV.

Il eſt bien aiſé maintenant de meſurer la ſurface de la ſphére. Car il

eſt clair que plus il y aura de côtés dans le poligone, plus le ſolide produit par ſa révolution approchera d'être égal à la ſphére, & plus auſſi l'apothême CK approchera d'être égal au rayon, en ſorte que ſi on peut imaginer que le poligone ſoit devenu un cercle, l'apothéme CK ſera le rayon même, & la ſurface de la ſphére aura la même étenduë qu'un rectangle dont la hauteur & la baſe ſeroient, l'une le diamétre, & l'autre une ligne égale à la circonférence du cercle qui l'a produite, & qu'on appelle ordinairement le grand cercle de la ſphére.

La ſurface de la ſphére a pour meſure le produit de ſon diamétre par la circonférence de ſon grand cercle.

LXVI.

Ce que c'eſt qu'un ſegment de ſphére.

QUANT à la ſurface courbe d'un ſegment de ſphére AMLNO *; c'eſt-à-dire, de la partie de la ſphére qu'on en retranche, lorſqu'on la coupe par un plan MLNO, perpendiculaire au diamétre; elle a pour meſure le produit de ſon épaiſſeur ou fléche AP par la circonférence du grand cercle AM

* FIG. 3.

Comment on meſure ſa ſurface.

BN. La raiſon en eſt la même que celle par laquelle on a prouvé (Article LXIV.) que la ſomme des ſurfaces de tous les petits cones tronqués, compris depuis A juſqu'en *m*, eſt égale au rectangle dont la hauteur eſt A*p*, & la baſe une ligne égale à la circonférence dont CK eſt le rayon. FIG. 2.

LXVII.

LA meſure précédente de la ſurface de la ſphére, apprend que ſi on fait tourner le rectangle ABDE en même-tems que le demi cercle AMNB autour de AB, la ſurface courbe du cylindre droit EFGIKDH produit par la révolution de ce rectangle, ſera égale à celle de la ſphére décrite par le demi-cercle; ce qu'on exprime ordinairement ainſi; la ſurface de la ſphére eſt égale à celle du cylindre circonſcrit. FIG. 4.

La ſurface de la ſphére eſt égale à celle du cylindre circonſcrit.

LXVIII.

ET ſi on coupe, tant le cylindre, que la ſphére, par deux plans quelconques

Les tranches du cylindre & de la ſphére ont la même ſuperficie.

perpendiculaires au diamétre AB, en P & en Q, les tranches de la ſphére & du cylindre qui ſeront produites par le mouvement de la droite OS, & de l'arc MN, ſeront égales en ſuperficie.

LXIX.

La ſurface de la ſphére eſt égale à quatre fois celle de ſon grand cercle.

On voit encore, par ce qui précéde, que la ſurface de la ſphére eſt égale à quatre fois l'aire de ſon grand cercle; car la ſurface de ce grand cercle a pour meſure le produit de la moitié du rayon ou du quart du diamétre par la circonférence, & la ſuperficie de la ſphére eſt égale au produit du diamétre entier par la même circonférence.

LXX.

La meſure de la ſurface de la ſphére étant trouvée, il eſt bien aiſé de meſurer ſa ſolidité ; car on peut conſidérer la ſphére comme l'aſſemblage d'une infinité de petites pyramides, dont les ſommets ſont à ſon centre, & dont toutes les baſes couvrent ſa ſurface entiere. Or,

chacune de ces pyramides ayant pour mesure le produit du tiers de sa hauteur c'est-à-dire, du rayon, par sa base, leur somme totale ou la solidité de la sphére se mesurera en multipliant le tiers du rayon par sa surface, c'est-à-dire, par quatre fois l'aire du grand cercle.

La solidité de la sphére est le produit du tiers du rayon par quatre fois l'aire du grand cercle.

LXXI.

Comme le produit du tiers du rayon par quatre fois le grand cercle, est la même chose que le produit de quatre fois le tiers du rayon, c'est-à-dire, des deux tiers du diamétre par le grand cercle, & que la solidité du cylindre EF GIKDH a pour mesure le produit du diamétre par le même grand cercle qui lui sert de base ; il s'ensuit que la solidité de la sphére est les deux tiers de celle du cylindre circonscrit.

La solidité de la sphére est les deux tiers de celle du cylindre circonscrit.

LXXII.

Si on se proposoit de mesurer la

Meſure de la ſolidité d'un ſegment de ſphére.

ſolidité d'un ſegment de ſphére AMLNO *, il eſt évident qu'il faudroit d'abord meſurer la portion de ſphére produite par la révolution du ſecteur CAM ; ce qui ſe feroit en multipliant le tiers du rayon par la ſurface du ſegment de ſphére propoſé AMLNO : enſuite on retrancheroit de cette meſure celle du cone produit par la révolution du triangle CPM, c'eſt-à-dire, le cone dont la baſe eſt le cercle MLNO, & CP la hauteur, & le reſte ſeroit la valeur demandée du ſegment.

* FIG. 3.

LXXIII.

NOUS finirons ces Elémens par quelques Propoſitions ſur la ſolidité & ſur la ſuperficie des corps ſemblables. Ces Propoſitions ſe préſentent fort naturellement, lorſqu'on réfléchit ſur ce qui conſtitue la ſimilitude de deux corps. On peut dire même qu'on ne peut guéres manquer de les décou-

vrir par analogie, ſi on ſe rappelle ce que nous avons dit (I. Part. Art. XXXIV. & ſuiv.) de la ſimilitude des figures planes ; c'eſt-à-dire, de celles qui ſont décrites ſur des plans.

Nous avons déterminé (Art. XXXII.) en quoi conſiſte la ſimilitude de deux pyramides; la définition que nous avons donnée alors des pyramides ſemblables, peut s'étendre à tous les corps terminés par des plans : c'eſt-à-dire, que deux corps de cette nature ſeront appellés ſemblables, ſi tous les angles formés par les côtés du premier ſont les mêmes que les angles formés par les côtés du ſecond, & ſi les côtés d'un de ces corps ſont proportionnels aux côtés homologues de l'autre.

En quoi conſiſte la ſimilitude de deux corps terminés par des plans.

LXXIV.

QUANT aux corps qui ne ſont pas terminés de tous les côtés par des plans, les cylindres & les cones, par exemple, il eſt auſſi facile de déterminer les condi-

tions néceſſaires pour les rendre ſemblables.

Conditions qui déterminent la ſimilitude de deux cylindres droits.

Deux cylindres droits ſeront ſemblables, ſi leurs hauteurs ſont en même raiſon que les rayons de leurs baſes.

LXXV.

Celle de deux cylindres obliques.

Si les cylindres ſont obliques, il faudra, de plus, que les lignes qui joignent les centres des deux cercles, dans chacun de ces cylindres, faſſent les mêmes angles ſur les plans de leurs baſes.

LXXVI.

Celle de deux cones.

Les mêmes définitions peuvent s'appliquer aux cones, en mettant au lieu de la ligne qui paſſe par les centres des deux baſes du cylindre, celle qui va du ſommet du cone au centre du cercle qui lui ſert de baſe.

LXXVII.

Pour que deux cones tronqués ſoient ſemblables, il faut, en premier lieu, que les cones dont ils ſont portions

tions ſoient ſemblables l'un à l'autre ; & en ſecond lieu, que leurs hauteurs ſoient entr'elles comme les rayons de leurs baſes.

Celle de deux cones tronqués.

LXXVIII.

A l'égard des ſphéres, on voit bien qu'elles ſont toutes ſemblables les unes aux autres, ainſi que toutes les figures, ſoit ſolides, ſoit planes, qui n'ont beſoin que d'une ſeule ligne pour être déterminées, comme le cercle, le quarré, le triangle équilatéral, le cube, le cylindre circonſcrit à la ſphére, &c.

Les ſphéres, les cubes, & toutes les figures qui ne dépendent que d'une ſeule ligne, ſont toutes ſemblables.

LXXIX.

En général on pourra dire des figures ſolides ſemblables, comme on l'a dit des figures planes, qu'elles ne différent que par les échelles ſur leſquelles elles ont été conſtruites.

En général les ſolides ſemblables ne différent que par les échelles ſur leſquelles ils ſont conſtruits.

Cet expoſé ſeul bien conſidéré, conduit à deux propoſitions fondamentales

ſur la ſuperficie & ſur la ſolidité des corps ſemblables.

LXXX.

Les ſurfaces des ſolides ſemblables ſont entr'elles comme les quarrés de leurs côtés homologues.

LA premiere Propoſition apprend que les ſurfaces de deux ſolides ſemblables, ſont entr'elles comme les quarrés de leurs côtés homologues ; qu'il y a, par exemple, même rapport entre les ſurfaces des deux pyramides ſemblables z & Z, qu'entre les quarrés *abcd*, ABCD, faits ſur les côtés *ab*, AB, qui ſe répondent dans ces deux pyramides.

FIG. 5. & 6.

Pour découvrir cette Propoſition, on n'a beſoin que des raiſonnemens qu'on a employés (I. Part. Art. XLIII. & XLIV.), c'eſt-à-dire, qu'il faut ſeulement conſidérer que ſi P eſt l'échelle de la pyramide Z, & *p* l'échelle de la pyramide ſemblable z, les lignes qu'il faudra employer pour meſurer la ſurface de Z, & celle du quarré ABCD, auront le même nombre de P, qu'il y

aura de parties p dans celles qu'il faut employer pour meſurer la ſurface de z, & celle du quarré *abcd*.

Car de-là il ſuit que le produit des lignes qui entrent dans la meſure de Z & de ABCD, donnera le même nombre de quarrés X faits ſur P, que le produit des lignes employées à meſurer z & *abcd* donnera de quarrés x faits ſur p. C'eſt-à-dire, que les nombres qui exprimeront le rapport de la ſurface de la pyramide Z au quarré ABCD, ſeront les mêmes que ceux qui exprimeront le rapport de la ſurface z au quarré *abcd*.

On feroit le même raiſonnement dans la comparaiſon de tous les autres corps ſemblables, ſoit que ces corps fuſſent terminés par des plans, ſoit qu'ils fuſſent terminés par des ſurfaces courbes; car les lignes employées à meſurer les ſuperficies de tous ces corps, auront toûjours le même nombre des parties de leurs échelles, & par conſéquent, les produits de ces lignes contiendront un

même nombre de fois les quarrés de ces mêmes parties.

Et ſi les lignes néceſſaires pour meſurer la ſuperficie des corps ſemblables, étoient incommenſurables, il eſt clair que la démonſtration ſubſiſteroit toûjours, pourvu qu'on employât ici les principes dont on s'eſt ſervi (II. Part. Art. XXVIII.) pour comparer les figures ſemblables, dont les côtés étoient incommenſurables.

LXXXI.

Les ſurfaces des ſphéres ſont entr'elles comme les quarrés de leurs rayons.

ON prouveroit de la même façon, que les ſurfaces des ſphéres ſont entr'elles comme les quarrés de leurs rayons. Mais, pour le voir encore plus clairement d'une autre maniere, il ſuffira de ſe rappeller que les ſurfaces des cercles ſont entr'elles comme les quarrés de leurs rayons (III. Part. Art. VI.), & que les ſurfaces des ſphéres ſont quadruples de leurs grands cercles (Art. LXIX.)

LXXXII.

La proportionnalité entre les ſurfaces des corps ſemblables & les quarrés de leurs côtés homologues, eſt ſi générale qu'elle s'applique autant aux corps qu'on ne ſçait pas meſurer, qu'à ceux dont on connoît la meſure.

Sans ſçavoir meſurer, par exemple, la ſurface d'un cylindre oblique, on peut affirmer que les ſurfaces de deux cylindres obliques ſemblables ſont entr'elles comme les quarrés des diamétres des baſes de ces cylindres. Car en inſcrivant dans ces deux cylindres deux priſmes ſemblables de tant de faces qu'on voudra, on verra, par ce qui précéde, que les ſurfaces de ces priſmes ſeront entr'elles comme les quarrés des diamétres des baſes. Donc les cylindres mêmes, conſidérés comme les derniers des priſmes inſcrits auront leurs ſurfaces dans le même rapport.

LXXXIII.

Les ſolides ſemblables ſont entr'eux comme les cubes de leurs côtés homologues.

LA Propoſition fondamentale pour la comparaiſon de la ſolidité des corps ſemblables eſt celle-ci.

Les ſolides ſemblables ſont entr'eux comme les cubes de leurs côtés homologues.

Cette Propoſition ſe peut démontrer comme la précédente, en conſidérant que les figures ſemblables ne différent que par les échelles ſur leſquelles elles ſont conſtruites.

Pour le faire voir le plus ſimplement qu'il nous ſera poſſible, nous nous ſervirons, par exemple, des deux priſmes ſemblables Z & *z*, & des deux cubes X & *x*, dont les côtés ſont égaux à AB, *ab*, lignes analogues dans ces deux priſmes; & nous prendrons de plus deux échelles AB, *ab*, diviſées en un aſſez grand nombre de parties, pour pouvoir meſurer les dimenſions de ces ſolides: or cela poſé, il eſt clair qu'il ſe trou-

FIG. 7. & 8.

vera préciſément autant de cubes faits ſur les parties de *ab*, dans le priſme *z*, & dans le cube *x*, que de cubes faits ſur les parties de AB dans le priſme Z & dans le cube X.

On feroit le même raiſonnement pour tous les autres ſolides ; & ceux qui pourroient avoir des dimenſions incommenſurables, ſeroient auſſi dans la même raiſon que les cubes de leurs côtés homologues.

LXXXIV.

Les ſolidités des ſphéres, par exemple, ſont évidemment entr'elles, comme les cubes de leurs rayons.

Les ſphéres ſont entr'elles comme les cubes de leurs rayons.

FIN.

Fautes à corriger.

PAge 8, ligne 9, *éloignées*, liſez *éloignée.*
P. 13, Art. XXI. liſez XXIII.
P. 40, l. 10, *ce qui*, liſez *ce qu'il.*
P. 55, l. 2, BAC, liſez *bAc.*
P. 81, l. 13, *eſt la ſeconde*; liſez *eſt à la ſeconde.*
P. 84, l. 4 de l'apoſtille, après *quatriéme*, ajoûtez *terme.*
P. 94, l. 13, *par*, liſez *pas.*
P. 108, dern. ligne de la ſeconde apoſtille, au lieu de *circonſé*, liſez *circonférence.*
P. 133, l. 9, *mêmes angles*, liſez *angles égaux.*
P. 151, l. 16, *de même qu'un plan*; liſez *de même, qu'un plan.*
P. 155, l. 18, après *d'égale longueur*, ajoûtez *& qui ne ſoient pas poſées en ligne droite.*
P. 170, l. 3, *ſeroient toûjours les mêmes*, liſez *auroient toûjours la même ſolidité.*
P. 184, l. 13, après *égaux*, ajoûtez *& paralléles.*

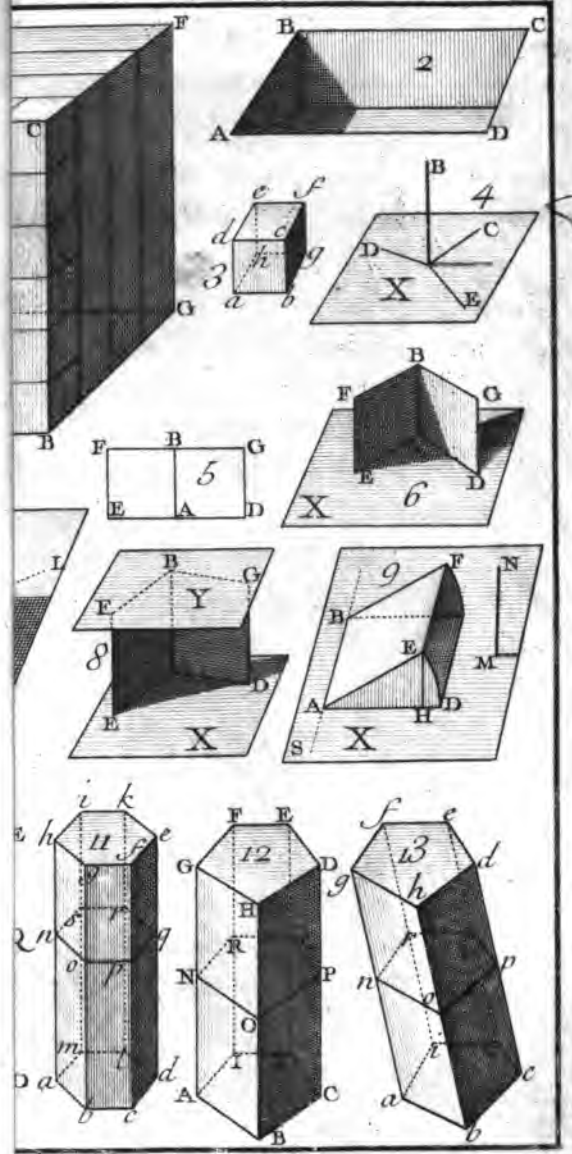

BNF DE FRANCE

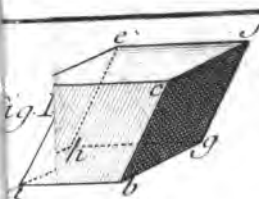
e
f
g
h
b

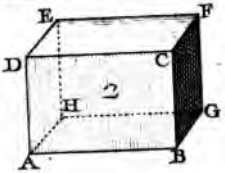
E
F
D
C
H
2
G
A
B

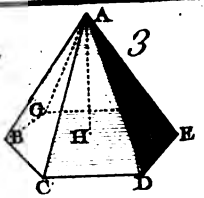
A
3
G
B
H
E
C
D

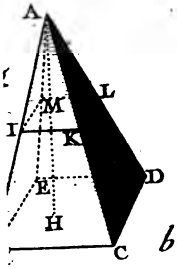
A
L
M
I
K
E
D
H
C

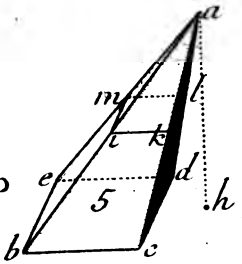
a
m
l
t
k
e
d
5
h
b
c

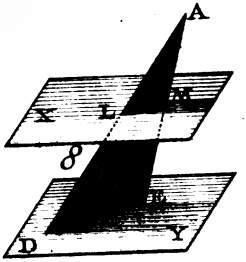
A
X
L
M
8
D
Y

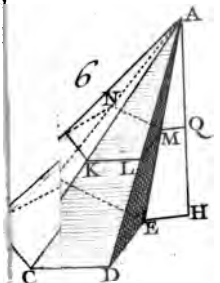
6
A
N
Q
M
K
L
E
H
C
D

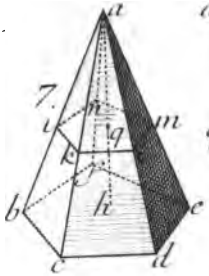
7.
a
n
i
q
m
b
f
h
b
c
d

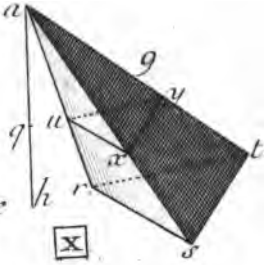
a
9
y
q
u
x
t
h
r
X
s

o
E
D
C
N
O
G
M

A
11
Y
S
X
O
T
V

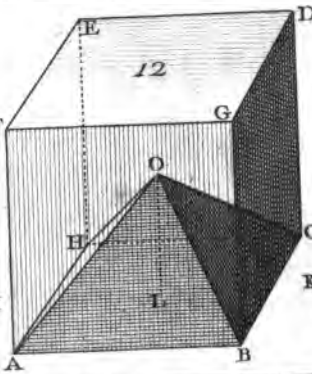
E
D
12
F
G
O
H
C
L
A
B

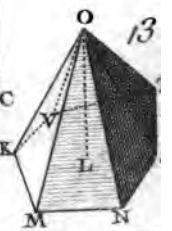
O
13
K
V
L
M
N

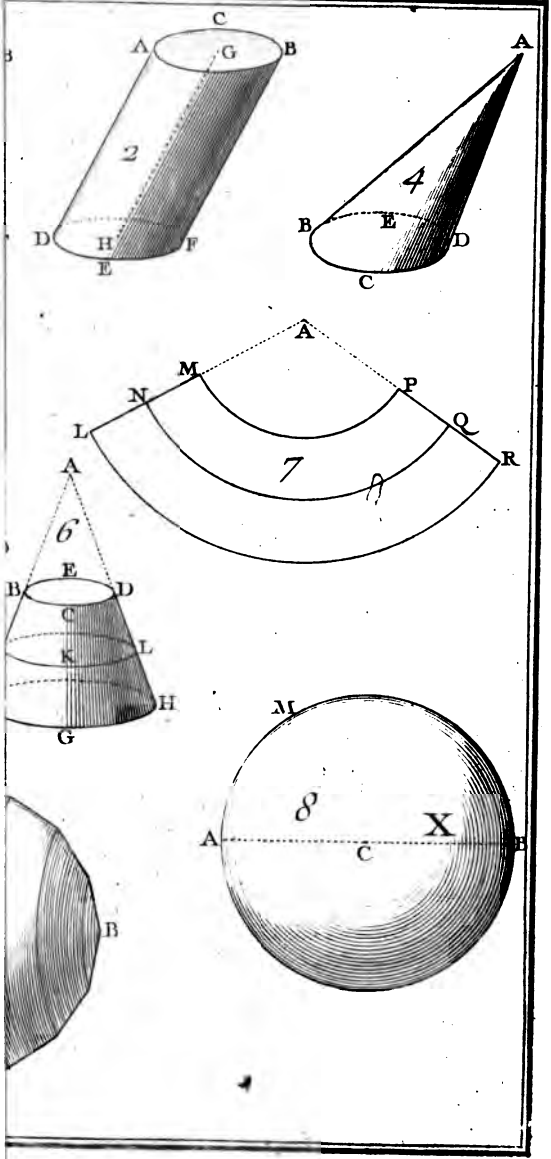
C
A
G
B
2
D
H
F
E
A
4
B
E
D
C
A
M
N
P
L
Q
7
R
A
6
E
B
D
C
K
L
H
G
M
8
A
X
C
B

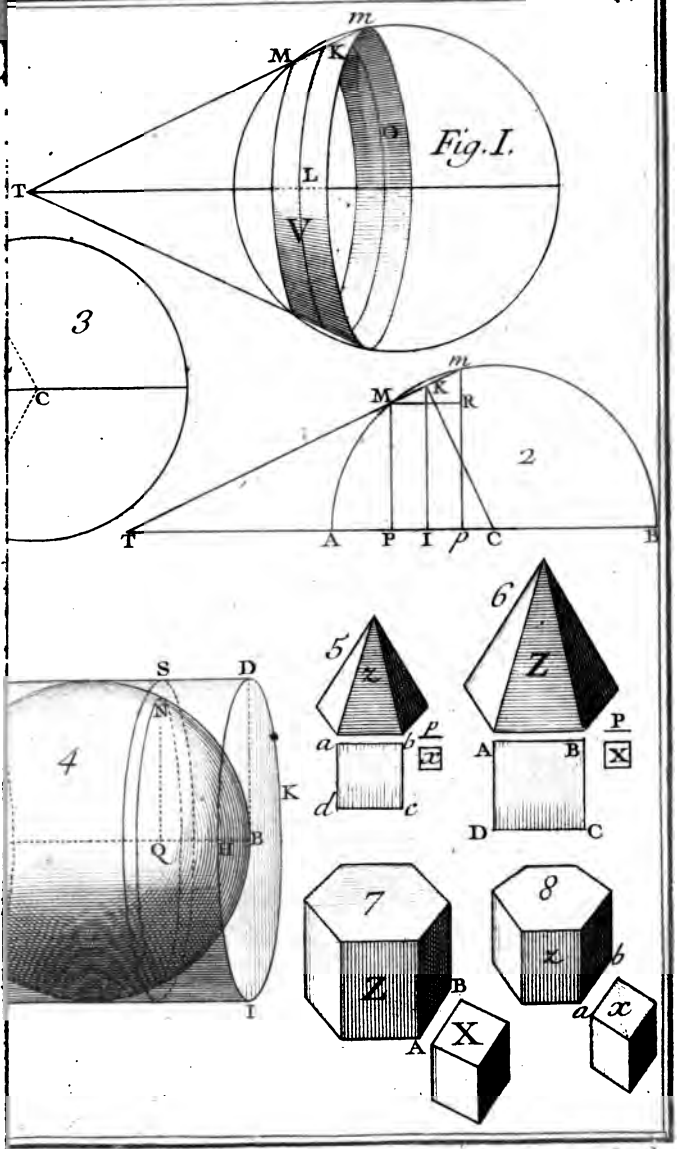
m
M
K
Fig. I.
T
L
V
3
C
m
M
K
R
2
T
A
P
I
p
C
B
6
5
Z
z
P
X
a
b
d
c
A
B
D
C
4
S
D
N
K
Q
H
B
I
7
Z
B
A
X
8
z
b
a
x